PHIẾU BÀI TẬP

Bài 1: Đồ vật nào dài hơn:*(Em đánh dấu x vào đáp án đúng)*

Bài 2: Đồ vật nào ngắn hơn: *(Em đánh dấu x vào đáp án đúng)*

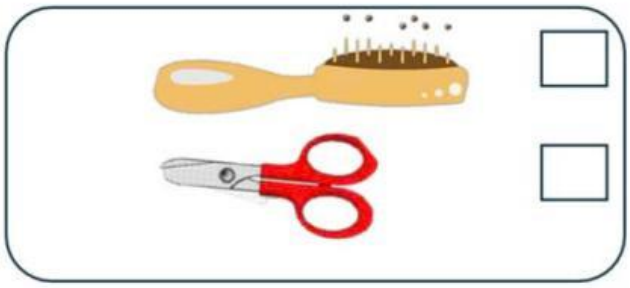



Bài 3: Đúng ghi Đ sai ghi S

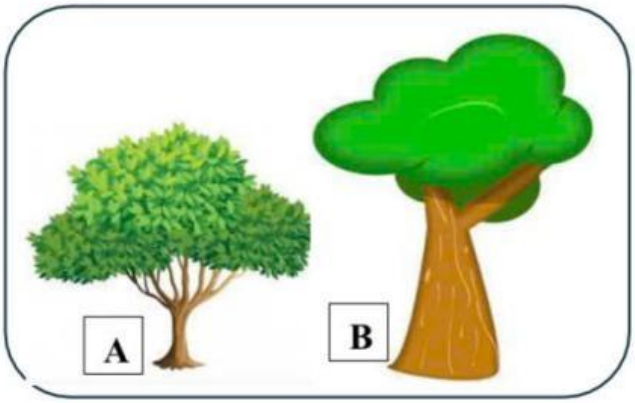

Cây A cao hơn cây B ☐

Cây A thấp hơn cây B ☐

Con hổ cao hơn con thỏ ☐

Con hổ thấp hơn con thỏ ☐

Bài 4: Nối theo thứ tự:

Từ xe ngắn nhất đến xe dài nhất

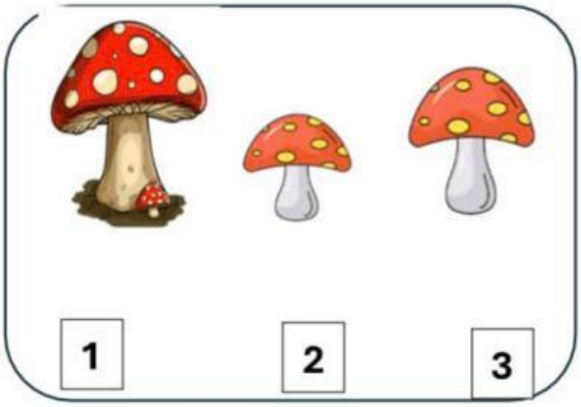

Từ cây nấm cao nhất đến thấp nhất

LIVEWORKSHEETS