LEMBAR KERJA PESERTA DIDIK

LKPD

MATEMATIKA

NAMA :

KELAS :

LIVEWORKSHEETS

PASANGKAN GAMBAR DENGAN KOLOM SESUAI NAMA BANGUN RUANG

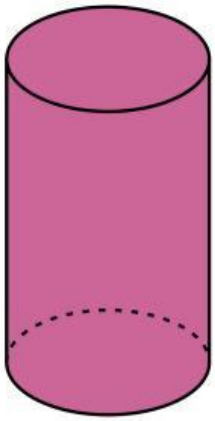

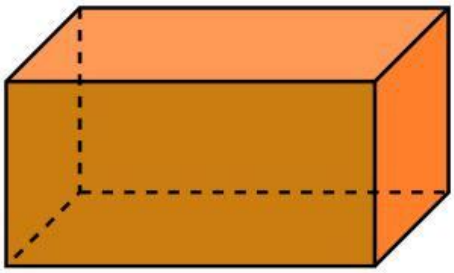

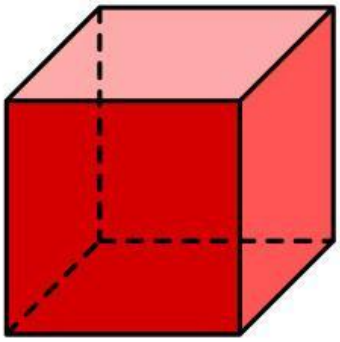

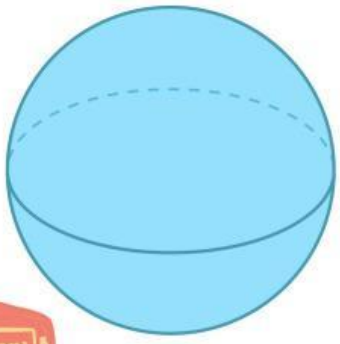

KUBUS

TABUNG

BALOK

BOLA

LIVEWORKSHEETS

Centanglah pertanyaan yang benar!!

Balok memilki 4 rusuk yang ukurannya sama

Balok memiliki 4 rusuk yang ukurannya tidak sama

Tabung memiliki sisi (selimut) yang bentuknya lengkung

Tabung memiliki sisi (selimut) yang bentuknya garis lurus

Bola mempunyai rusuk

Bola tidak mempunyai rusuk

Kubus memiliki 21 rusuk yang ukurannya sama

Kubus memiliki 12 rusuk yang ukuranny sama

Apa yang kamu dapat dari belajar bangun ruang??

LIVEWORKSHEETS