DISCIPLINA DE GEOGRAFIA

7º ano

Ficha de Consolidação

Unidade 2 - O Meio Natural

Clima Quente

Observa os gráficos termopluviométricos 1, 2, 3 e 4 e **associa-os** aos respetivos ao clima quentes.

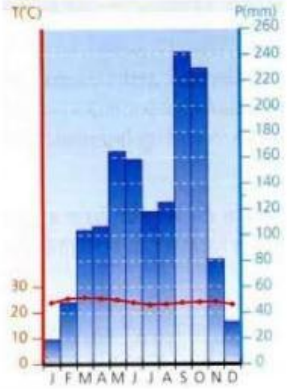

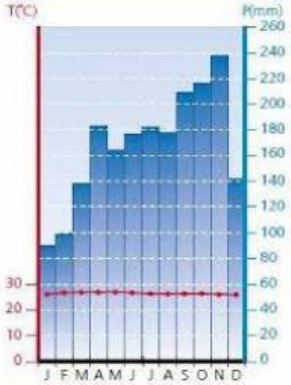

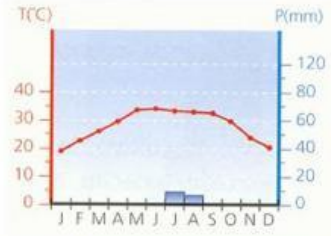

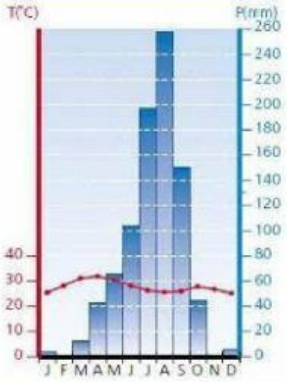

1 _____ **2** _____ **3** _____ **4** _____

Corresponde os gráficos termopluviométricos 1, 2, 3 e 4, às respetivas características .

Características	Gráfico
Registam-se temperaturas elevadas e constantes ao longo do ano.	
Predomina junto aos trópicos de Câncer e de Capricórnio.	
Tem duas estações, uma seca e outra húmida, sendo que a estação seca é mais prolongada.	
Localiza-se junto do Equador.	
Precipitação muito reduzida e esporádica.	
Possui apenas uma única estação, seca e quente.	
Ocorre precipitação abundante e regular ao longo de todo o ano.	
Localiza-se em latitudes ligeiramente mais elevadas do que o clima associado ao gráfico termopluviométrico 2.	
Localiza-se em latitudes ligeiramente mais baixas do que o clima associado ao gráfico termopluviométrico 3.	
Tem duas estações, uma seca e outra húmida, sendo que a estação húmida é mais prolongada.	

Nome: _____ Turma: _____ N.º: _____ Data: ___/___/___ **Bom Trabalho!**

LIVEWORKSHEETS