கணிதம் - பயிற்சித்தாள்

பாடம் : கணிதம் வகுப்பு : VI

பாடத்தலைப்பு : வடிவியல்–1

கோணத்தின் பெயர்களை தெரிவு செய்க.

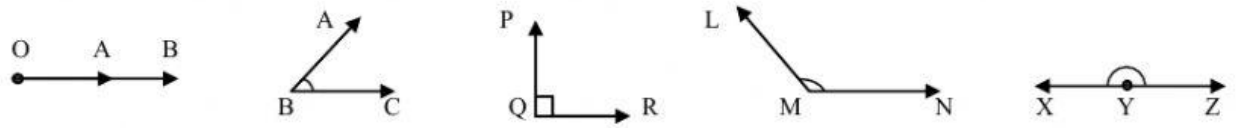

படத்தில் உள்ள ஒவ்வொரு கோணத்திற்கும், அதன் உச்சி மற்றும் பக்கங்களை எழுதுக.

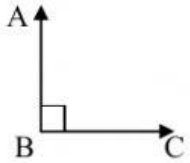

உச்சி : _____

பக்கங்கள் : _____

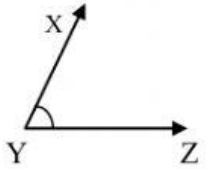

உச்சி : _____

பக்கங்கள் : _____

இழுத்து விடுதல் முறையில் அட்டவணையை நிரப்புக

வ. எண்	கேள்வி	விடைகள்
1	20^0 இன் நிரப்புக்கோணம்	
2	50^0 இன் நிரப்புக்கோணம்	
3	65^0 இன் நிரப்புக்கோணம்	
4	100^0 இன் மிகை நிரப்புக்கோணம்	
5	70^0 இன் மிகை நிரப்புக்கோணம்	

விடைகள்

80^0

70^0

110^0

40^0

25^0

சரியா ? தவறா ? என தெரிவு செய்க.

வ. எண்	கேள்வி	சரி / தவறு
1	45^0 மற்றும் 45^0 என்பன நிரப்புக் கோணங்கள்	
2	90^0 மற்றும் 90^0 என்பன நிரப்புக் கோணங்கள்	
3	40^0 மற்றும் 140^0 என்பன மிகை நிரப்புக் கோணங்கள்	
4	80^0 மற்றும் 180^0 என்பன மிகை நிரப்புக் கோணங்கள்	
5	95^0 மற்றும் 85^0 என்பன மிகை நிரப்புக் கோணங்கள்	

த.சங்கர்,M.Sc.,B.Ed., ப.ஆ. (கணிதம்), PUMS, அரிசிப்பாளையம்.

LIVEWORKSHEETS