Прізвище ім'я: _____ Клас: _____ Дата: _____

Земля на глобусі і фізичній карті. План місцевості

? Запитання №1 (з однією правильною відповіддю)

Яку форму має наша планета Земля?

- ◯ А) плоску
- ◯ Б) куляста
- ◯ В) овальна
- ◯ Г) плоска вигляді диску

? Запитання №3 (з однією правильною відповіддю)

Подумай, ближче до центру Землі перебуває людина, яка знаходиться...

- А) на полюсі
- Б) на екваторі
- В) відстань однакова до екватора та до полюса

? Запитання №4 (з однією правильною відповіддю)

Яка довжина екватора?

- А) 40 075 км
- Б) 40 009 км
- В) 12 742 км
- Г) 6 378 км

? Запитання №5 (з однією правильною відповіддю)

Перший вчений, який припустив, що форма Землі куляста

- А) Арістотель
- Б) Піфагор
- В) Демокріт
- Г) Ньютон

LIVEWORKSHEETS

? Запитання №2 (на встановлення відповідності)

Встановіть відповідність між назвами елементів глобуса та їхніми характеристиками:

Елементи глобуса

1) екватор
2) вісь Землі
3) північний полюс
4) південний полюс
5) пінічна півкуля
6) південна півкуля

Характеристики елементів

А) знаходиться на північ від екватора
Б) уявна лінія, що проходить через полюси та центр Землі
В) найпівнічніша точка на Землі
Г) знаходиться на південь від екватора
Ґ) уявна лінія, що ділить планету на дві рівні півкулі - північну та південну
Д) найпівденніша точка на Землі

Вкажіть відповідність:

	А	Б	В	Г	Ґ	Д
1						
2						
3						
4						
5						
6						

? Запитання №6 (з однією правильною відповіддю)

Вчений, що здійснив першу навколосвітню подорож

А) Піфагор
Б) Лавуазьє
В) Магеллан
Г) Колумб

LIVEWORKSHEETS

? Запитання №7 (пошук на зображенні, познач дві правильні відповіді)

Познач на малюнку Північну півкулю

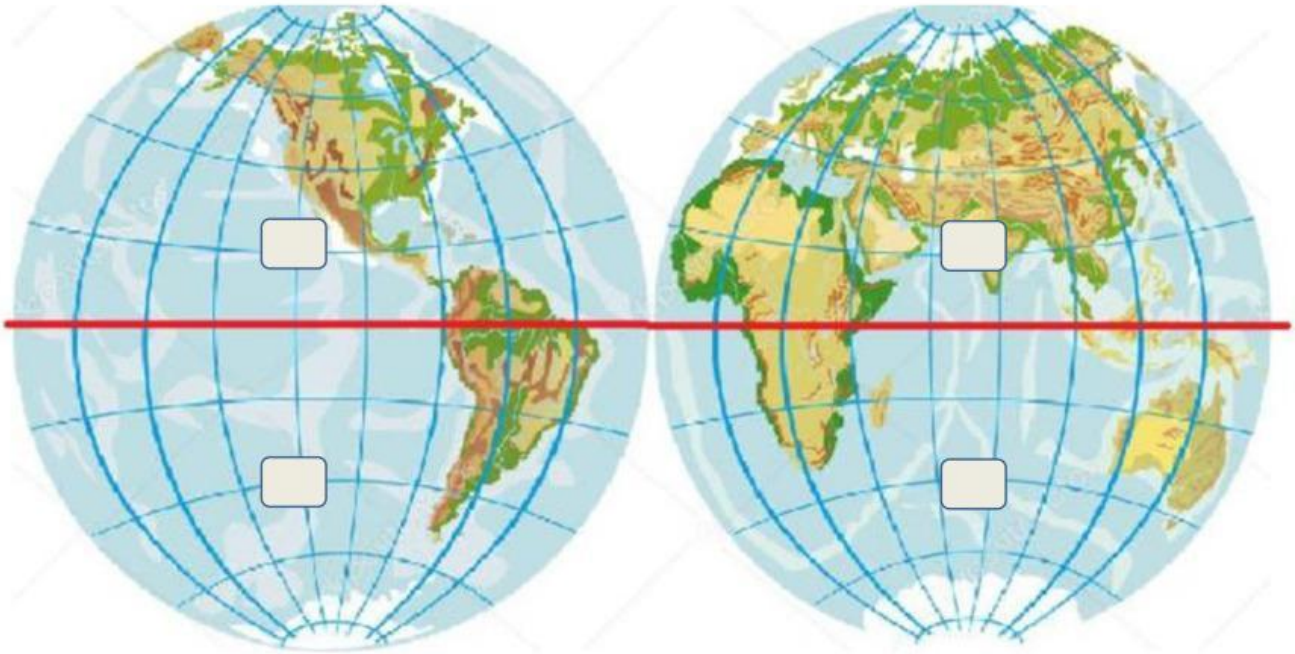

? Запитання №8 (пошук на зображенні, познач дві правильні відповіді)

Познач на малюнку Південний полюс

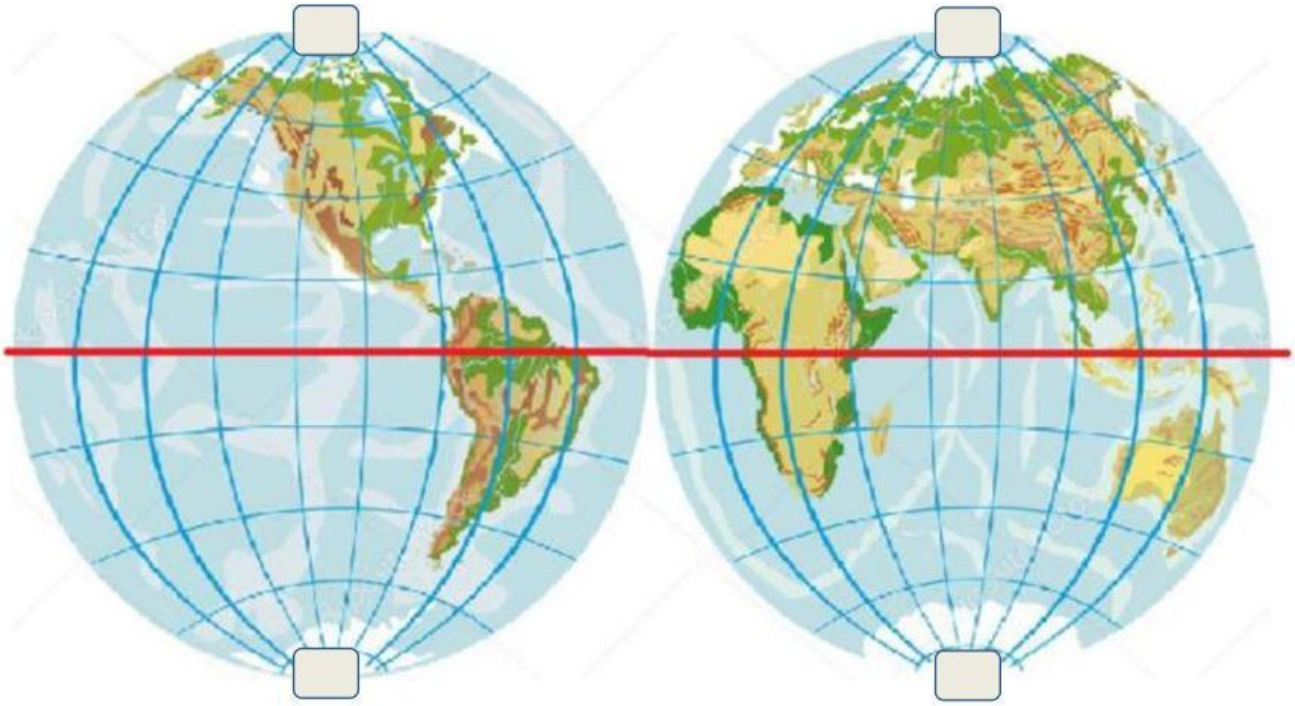

LIVEWORKSHEETS

? Запитання №7 (пошук на зображенні, познач дві правильні відповіді)

Познач на малюнку Південну півкулю

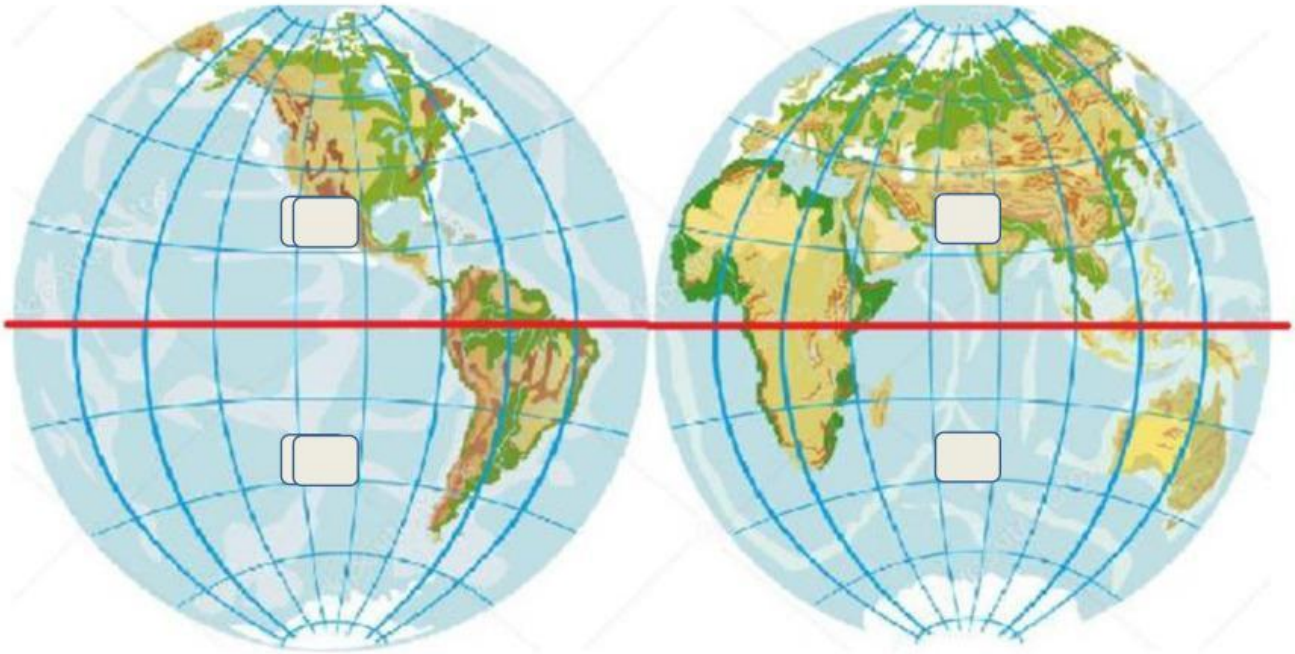

? Запитання №8 (пошук на зображенні, познач дві правильні відповіді)

Познач на малюнку Північний полюс

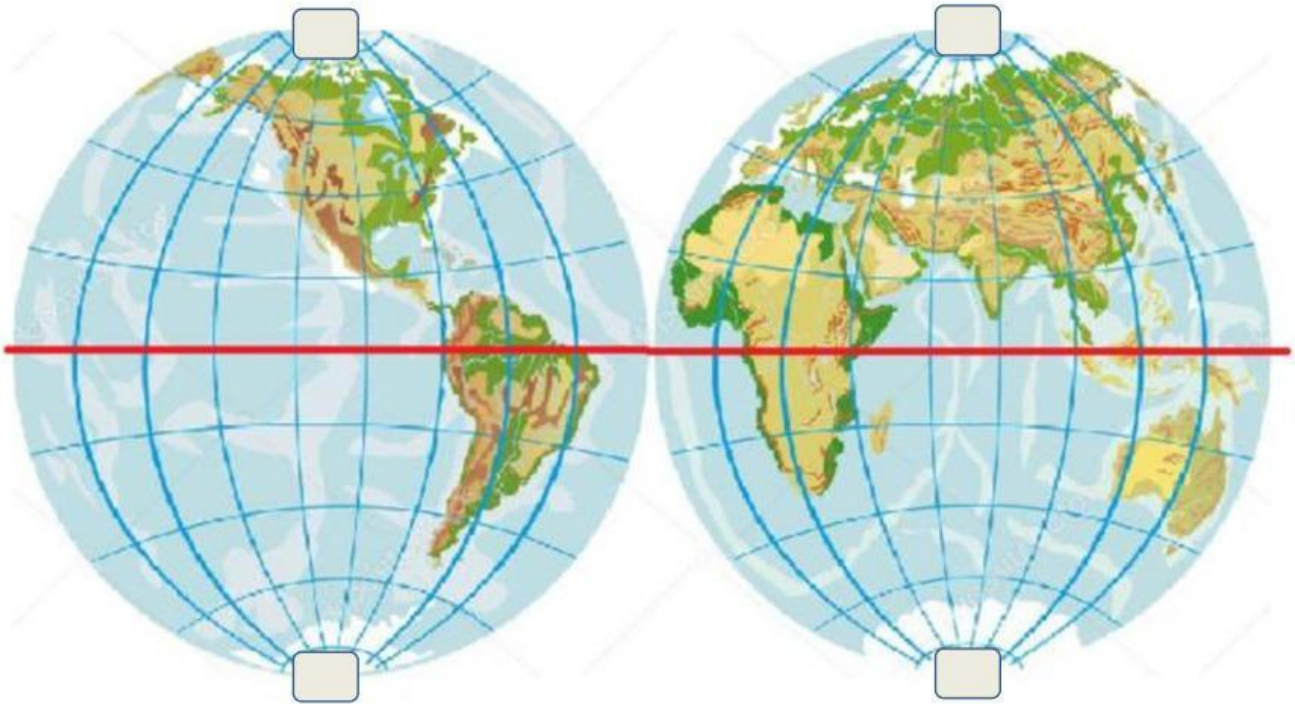

LIVEWORKSHEETS

? Запитання №9 (з однією правильною відповіддю)

Нульовий меридіан має назву:

- А) Лондонський
- Б) Грінвицький
- В) Гамбургський
- Г) Англійський

? Запитання №10 (з однією правильною відповіддю)

Зображення невеликої ділянки земної поверхні у зменшеному вигляді це

- А) карта
- Б) малюнок
- В) фотознімок
- Г) план місцевості

? Запитання №11 (з однією правильною відповіддю)

Зменшене й узагальнене зображення земної поверхні або її частини, де об'єкти показані за допомогою умовних знаків у певному масштабі.

- А) карта
- Б) план
- В) глобус
- Г) аерознімок

? Запитання №12 (з однією правильною відповіддю)

Глобуси поділяють на:

- А) політичні і природні
- Б) загальногеографічні і тематичні
- В) біогеографічні і урбаністичні

LIVEWORKSHEETS

? Запитання №13 (перетягни правильну відповідь у прямокутник)

Найдовша паралель називається ☐

екватор грінвицькою

? Запитання №14 (з однією правильною відповіддю)

Який спосіб зображення земної поверхні показано на малюнку:

- ◯ А) карта
- ◯ Б) малюнок
- ◯ В) план
- ◯ Г) глобус

? Запитання №15 (з однією правильною відповіддю)

Система умовних позначень і текстового супроводу до них це:

- ◯ А) легенда
- ◯ Б) математична основа
- ◯ В) картографічне зображення
- ◯ Г) допоміжне оснащення

? Запитання №16 (пошук на зображенні)

Познач на малюнку, які кольори показують висоту над рівнем моря

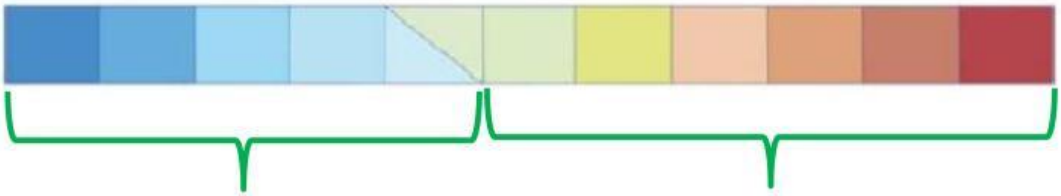

LIVEWORKSHEETS

? Запитання №17 (перетягни правильну відповідь)

Форми рельєфу, при яких поверхня землі в межах видимого горизонту є рівними або слабко хвилястими

гори рівнини

? Запитання №18 (перетягни правильну відповідь)

Систематизоване зібрання карт із пояснювальними текстами

контурна карта атлас

? Запитання №19 (з однією правильною відповіддю)

За переважними кольорами на фізичній карті України, визначи яка форма рельєфу переважає на території України:

- А) низовини
- Б) височини
- В) плоскогіря
- Г) гори

LIVEWORKSHEETS