Сурагчийн нэр: ..... Эхэлсэн: ..... он ..... сар ..... өдөр

Эерэг тоо сөрөг тооноос их байна.
Тэг бол сөрөг тооноос их байна_

1 Термометрийн хуваарийг уншиж бичээрэй.

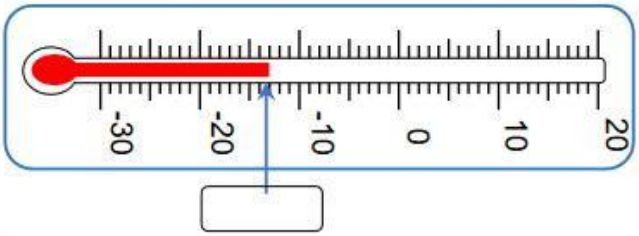

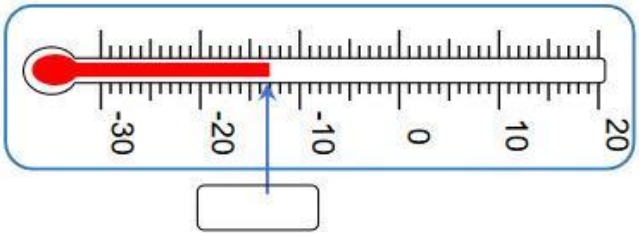

2 Тоон шулуун дээрх цэгүүдийн хуваарийг бичээрэй.

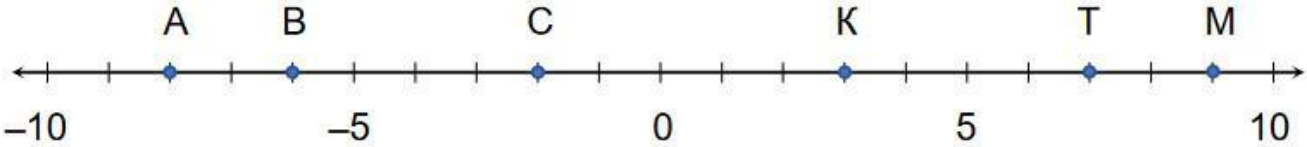

A (____) B (____) C (____) K (____) T (____) M (____)

3 Тоон шулуун дээр дараах тоонуудыг цэгээр тэмдэглээрэй.

A (5) B (0) C (– 2) K (– 5) T (– 8)

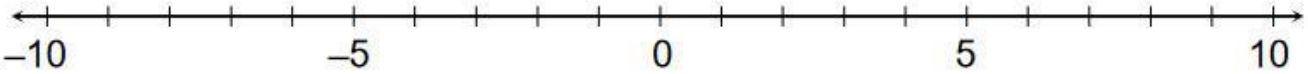

5 Тоон шулуун дээрх тоон хуваарийг гүйцээн бичээрэй.

а.

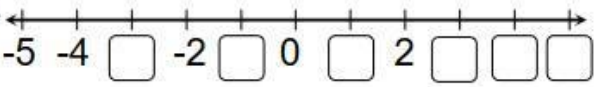

б.

LIVEWORKSHEETS