RESOLVÉ EN HOJA APARTE Y LUEGO CARGÁ LOS RESULTADOS PARA SABER SI RESOLVISTE CORRECTAMENTE

Modelo de evaluación integradora de matemática

1-¿Cuánto miden estos ángulos? Escribí su medida y qué tipo de ángulo es cada uno.

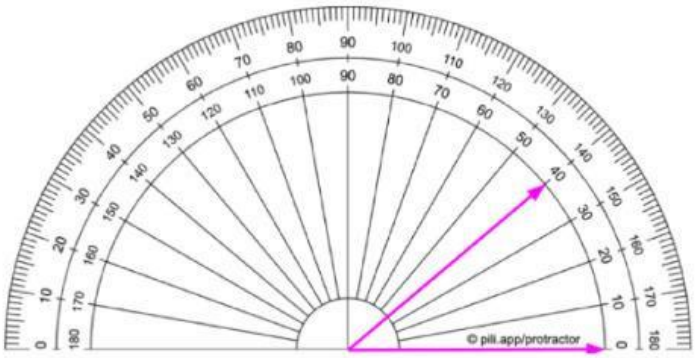

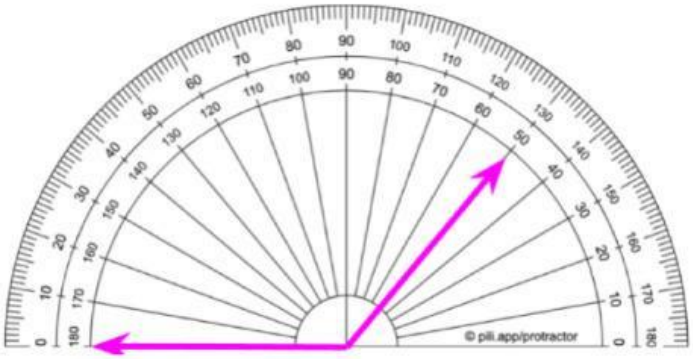

..... ° Es un ángulo .... ° Es un ángulo .....

2- Resolvé realizando la cuenta necesaria:

a-Para hornear las facturas, en la panadería llenan una fuente con 15 filas de 12 facturas cada una. ¿Cuántas facturas cocinarán en total?

Rta: Cocinarán ..... facturas.

b-Alicia quiere pagar con su tarjeta $18.276 en 12 cuotas iguales. ¿Cuánto pagará por cada cuota?

Rta: Pagará por cada cuota $.....

3- Dibujá cada fracción y pasala a número mixto.

a- $\frac{7}{3}$ = ____

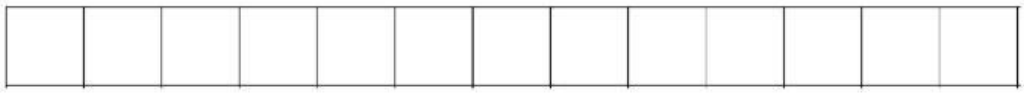

b- $\frac{9}{4}$ = ____

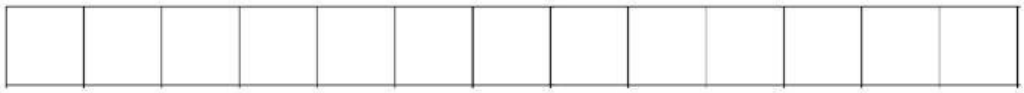

4-Resolvé:

$2 + \frac{3}{8}$ = ____

$3 - \frac{15}{9}$ = ____

LIVEWORKSHEETS

5- ¿Qué decimales están indicados en la recta? Escribí en números y letras

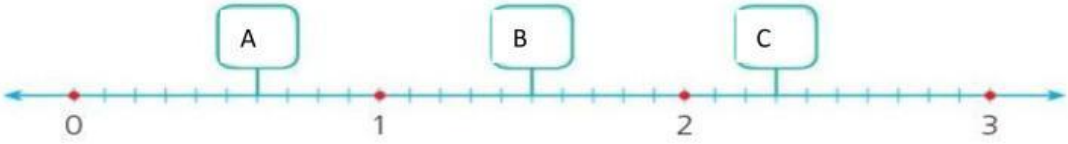

A-.....,..... SE LEE .....

B-.....,..... SE LEE .....

C-.....,..... SE LEE .....

6- Arrastrá y ordená de menor a mayor.

7,2 | 5,34 | 4,84 | 7,25 | 5,3 | 4,8

..... - ..... - ..... .- ..... - ..... - .....

7-Calculá:

a- 14, 03 – 5, 15 = ...

b- 28 + 17,206 = ...

	M	D	U ,	d	c	m
–			,			
			,			
			,			

	M	D	U ,	d	c	m
+			,			
			,			
			,			

8- Clasificá los siguientes triángulos:

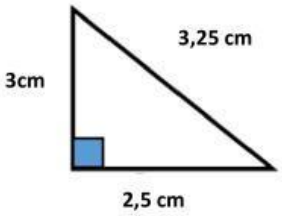

Según sus lados es un triángulo

y según sus ángulos es un triángulo

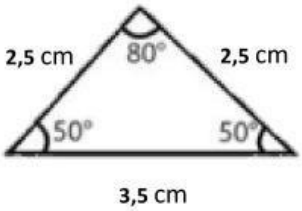

Según sus lados es un triángulo

y según sus ángulos es un triángulo

LIVEWORKSHEETS