آزمون ریاضی تم ۵ الی ۸

آموزگار: حانیه گودرزوند

با کشیدن چوب خط بگو تعداد شکل های سمت چپ و راست با هم چندتاست؟

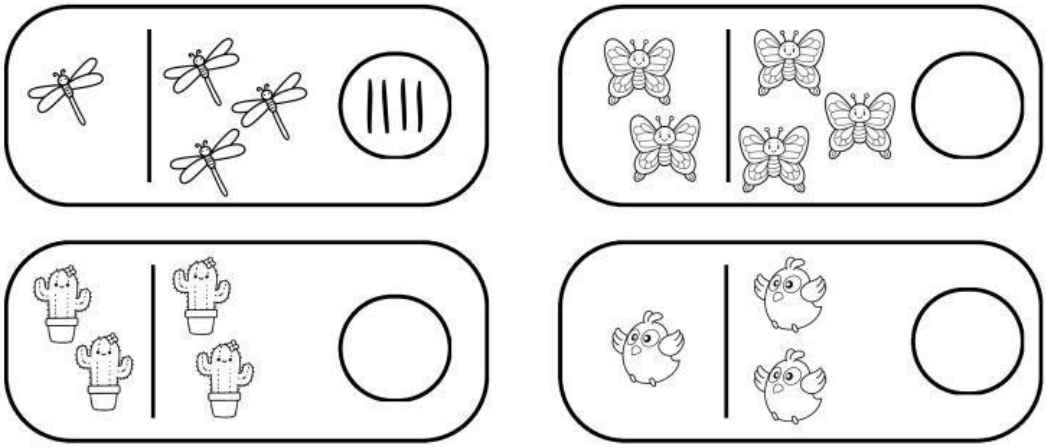

انگشتان یک دست خود را باز کن، به تعداد شکل ها انگشتان خود را ببند و به تعداد انگشت های باقیمانده چوب خط بکش.

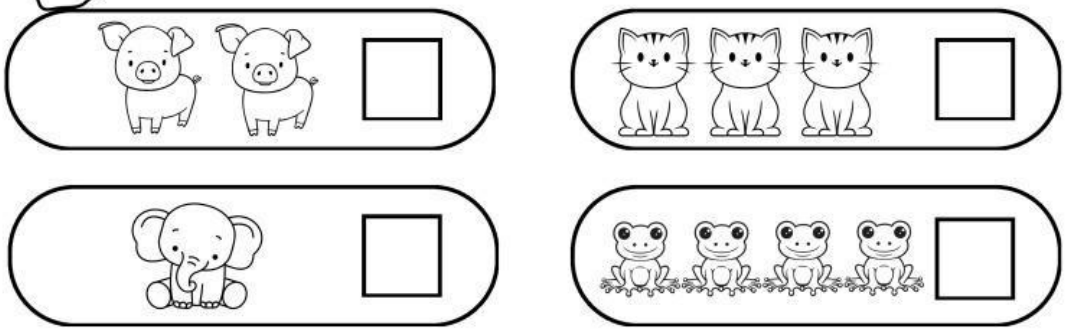

درهر ردیف الگو هارا به همان ترتیب ادامه بده و هر الگو که تکرار میشود را بکش.

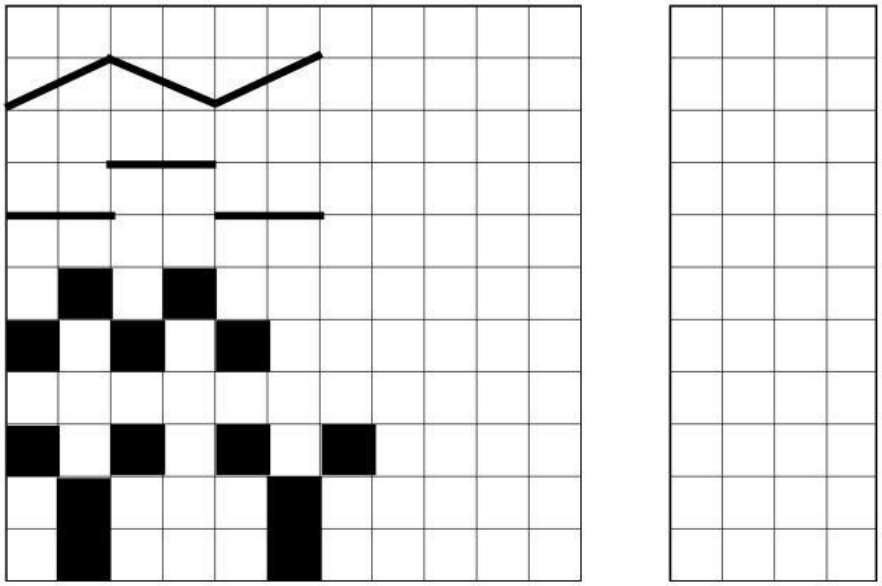

LIVEWORKSHEETS

عدد مناسب هر شیشه را بنویس.



مربع های شگفت انگیز را با عدد مناسب پر کن.

۴	۳	۲	۱
۱			۲
۲			۳
۳	۲	۱	۴

		۱	۳
۳	۱	۴	۲
۱	۲		۴
۴	۳	۲	

انتظارات آموزشی	۱	۲	۳
توانایی جمع کردن اشکال و کشیدن چوب خط دارد. توانایی تفریق اشکال از تعداد انگشتان دست را دارد. الگو را شناسایی میکند و ادامه میدهد. تعداد اشکال را میشمارد و اعداد مناسب مینویسد. مربع های شگفت انگیز را حل کرده و اعداد ۱ تا ۴ میشناسد			

۱: مهارت لازم کسب کرده ۲:نسبتا مهارت لازم کسب کرده ۳:مهارت لازم کسب نکرده

بازخورد توصیفی آموزگار: .....

خودسنجی دانش آموز: ☺ ☹

LIVEWORKSHEETS