Ministerio de Educación
CEBG MEDALLA MILAGROSA
EXAMEN TRIMESTRAL DE MÚSICA - III TRIMESTRE 9°

Prof. Francisco Víquez Nombre:_____Año:___Fecha:_____VALOR: 50 PUNTOS

I PARTE. Coloque en el círculo el nombre de la nota musical con el método en INGLÉS. 20 PUNTOS.

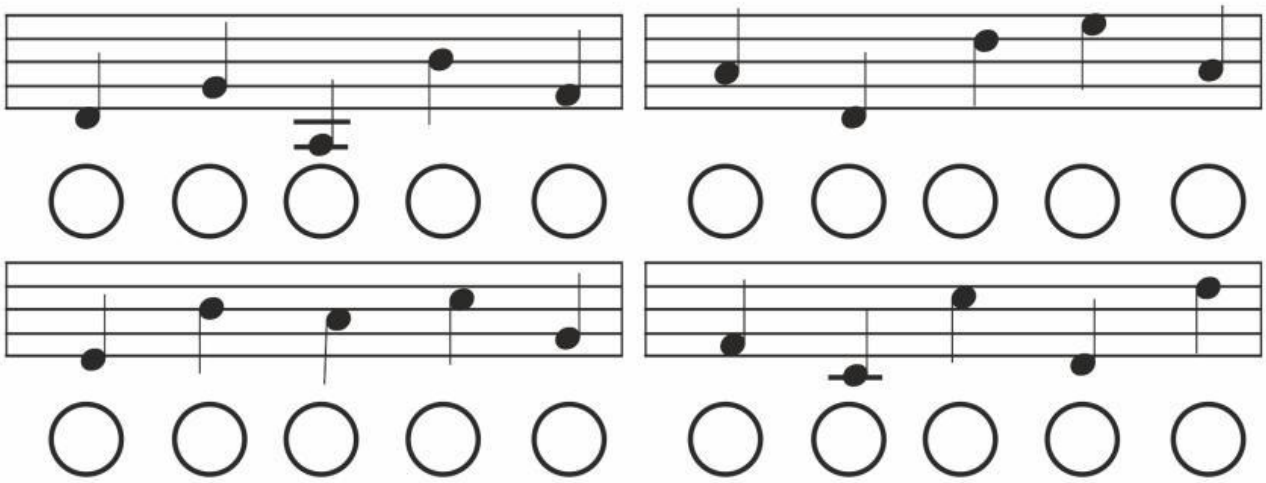

II PARTE. DICTADO MUSICAL. En el pentagrama, dibuje el símbolo musical correcto encima de cada indicación. 10 PUNTOS.



Calderón ligadura silencio de negra puntillo sostenido



Galopa ritornelo Tresillo Bemol Cuartina

.

LIVEWORKSHEETS