Sistem Pencernaan pada Manusia

Biology kelas XI

LIVEWORKSHEETS

APA SAJA YANG AKAN KITA PELAJARI HARI INI ?

Tujuan Pembelajaran :

F.3.2 Peserta didik dapat menganalisis hubungan antara struktur jaringan penyusun organ pada sistem pencernaan dan mengaitkan dengan bioprosesnnya serta gangguan fungsi pada sistem pencernaan.

ALOKASI WAKTU :
2 X 45 MENIT

Profil Pelajar Pancasila :

Melalui pengembangan sejumlah pengetahuan dan keterampilan, pelajar menjadi pribadi yang memiliki profil pelajar Pancasila sebagai berikut:

1. Beriman, bertakwa kepada Tuhan YME, dan berakhlak mulia
2. Berkebhinekaan global
3. Gotong royong
4. Mandiri
5. Kreatif
6. Bernalar kritis

Materi pokok :

Sistem pencernaan pada manusia

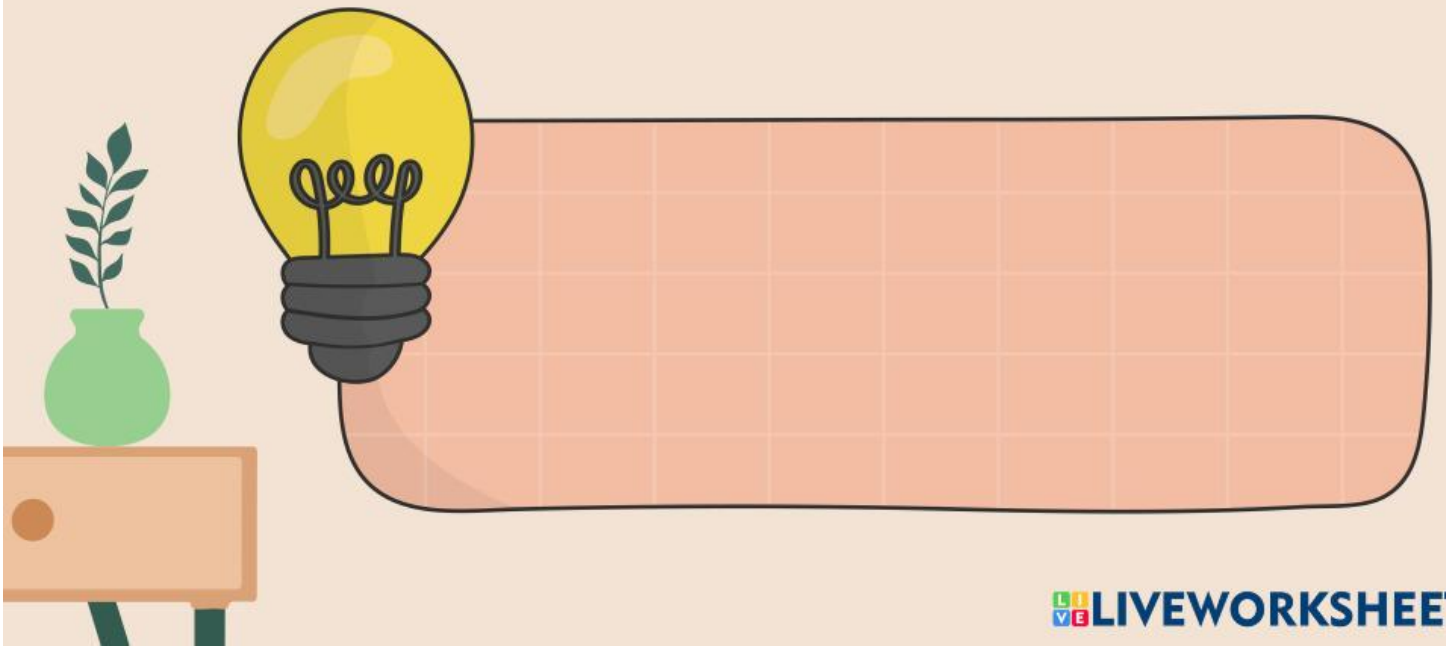

LIVEWORKSHEETS

LKPD ORGAN PENCERNAAN

NAMA :

KELAS :

PERHATIKAN GAMBAR SISTEM PENCERNAAN DIBAWAH INI DIBAWAH INI. PILIHLAH NAMA ORGAN PENCERNAAN PADA KOTAK DI BAWAH,KEMUDIAN PINDAHKAN KETEMPAT ORGAN PENCERNAAN YANG SESUAI.

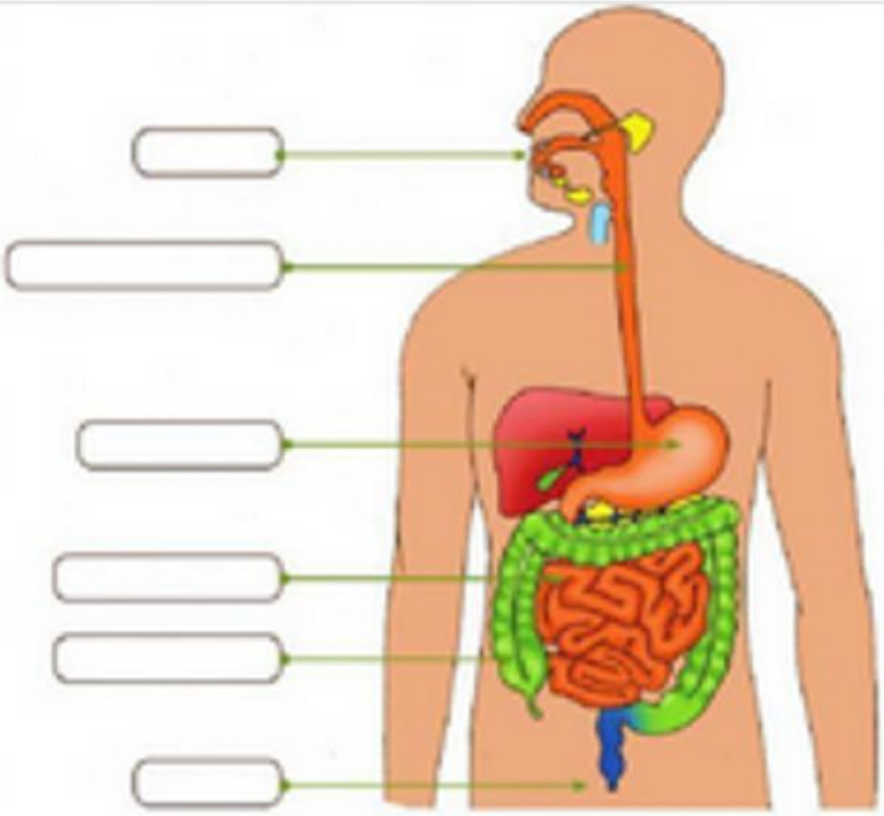

MULUT	ANUS
USUS BESAR	LAMBUNG
KERONGKONGAN	USUS HALUS

LIVEWORKSHEETS

Hubungkan gambar organ-organ pencernaan makanan manusia dengan fungsinya yang tepat.

Menyerap sari-sari makanan untuk diedarkan keseluruh tubuh

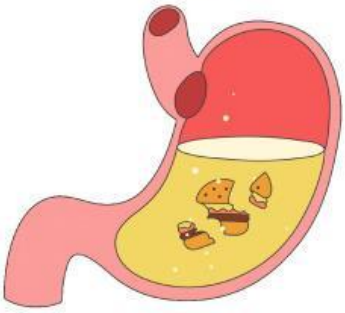

Tempat masuknya makanan,menghaluskan makanan makanan dengan cara mengunyah menggunakan gigi

Lubang tempat keluarnya feses ,atau sisa-sisa makanan dari dalam tubuh

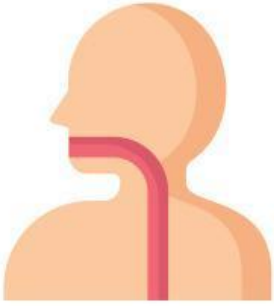

Menyerap air sisa proses pencernaan,memindahkan sisa proses pencernaan yang sudah tidak ada airnya menuju kerektum lalu ke anus

Menghubungkan rongga mulut dengan lambung

LIVEWORKSHEETS

Pilihlah salah satu huruf a,b,c atau d sebagai jawaban yang paling benar :

1. Sistem yang berproses mengubah makanan dan menyerap sari makanan yang bernutrisi yang dibutuhkan oleh tubuh adalah ...

a. Sistem ekskresi
b. Sistem pernapasan
c.Sistem pencernaan
d.Sistem reproduksi

2. Lambung menghasilkan asam lambung yang berfungsi untuk...

a. Membantu mengunyah makanan menjadi lebih kecil
b. Membantu pergerakan makanan melalui lambung
c. Membunuh bakteri dalam makanan
d. Membantu kerja enzim pada usus halus

3. Gerakan mendorong dan menekan makanan (peristaltik) terjadi pada ...

a. Usus besar
b.Kerongkongan
c. Mulut
d. Usus halus

4. Usus halus terdiri dari 3 macam yaitu :

a. Usus besar,usus halus dan usus kosong
b. Usus buntu,usus 12 jari dan usus kosong
c. Usus 12 jari,usus kosong dan usus penyerapan
d. Usus kosong,usus buntu dan usus besar

5. Enzim lipase mengubah lemak menjadi...

a. Asam lemak
b. Glukosa
c. Pepton
d. Asam amino

LIVEWORKSHEETS