Els cinc regnes
D'ÉSSERS VIUS

Quins són els regnes en què es classifiquen els éssers vius? Marca'ls.

heteròtrof	protoctists	unicel·lular
animals	autòtrof	fongs
pluricel·lulars	plantes	bacteris

A quin regne correspon cadascuna de les següents imatges? Tria. (Si tens dubtes, mira el vídeo de la pàg. 46 del llibre digital)

algues

bolets

florit de la fruita

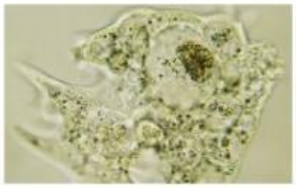

protozous

animals

plantes

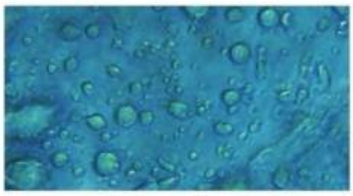

rent per fer pa

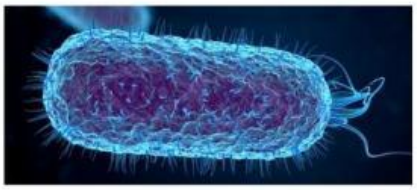

bacteris

LIVEWORKSHEETS

Completa el text triant la resposta correcta dels desplegables.

Els regnes dels animals i de les plantes són _____. Els animals són heteròtrofs, és a dir, s' _____ i la majoria poden _____. En canvi, les plantes són éssers vius autòtrofs, és a dir, _____, i _____.

Marca les opcions correctes.

Bacteris	Fongs	Protoctists
Fabriquen el seu propi aliment	Fabriquen el seu propi aliment	Fabriquen el seu propi aliment
S'alimenten d'altres éssers vius	S'alimenten d'altres éssers vius	S'alimenten d'altres éssers vius
No poden desplaçar-se	No poden desplaçar-se	No poden desplaçar-se
Es desplacen	Es desplacen	Es desplacen
Unicel·lulars	Unicel·lulars	Unicel·lulars
Pluricel·lulars	Pluricel·lulars	Pluricel·lulars
Poden provocar malalties	Poden provocar malalties	Poden provocar malalties

Escriu V, si és vertader, o F, si és fals.

Els bolets són un tipus concret de fongs..... ☐

Tots els bacteris són éssers pluricel·lulars..... ☐

Les algues pertanyen al regne dels fongs..... ☐

Les plantes fabriquen el seu propi aliment..... ☐

Els fongs s'alimenten de les restes d'altres éssers vius..... ☐

Les algues fabriquen oxigen..... ☐

Els bolets són unicel·lulars..... ☐

Les plantes no poden moure's però poden desplaçar-se..... ☐

LIVEWORKSHEETS