Nama: .....

Kelas: .....

EVALUASI

MATEMATIKA

TEMA 2 SUBTEMA 4 PEMBELAJARAN 1

Petunjuk Pengerjaan

Buatlah garis yang menghubungkan antara nilai pecahan dengan gambar yang melambangkan nilai pecahannya! Jika sudah selesai, klik tombol Finish kemudian pilih bagian "share my answer to my teacher" dan masukkan email guru yang berada di halaman pertama.



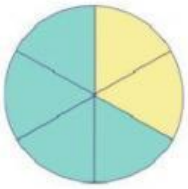

$\frac{1}{3}$

$\frac{2}{6}$

$\frac{1}{4}$

$\frac{1}{2}$

$\frac{1}{8}$

LIVEWORKSHEETS

Mengenal Panca Indra

Rumah Belajar
NURIL

- Pengecap

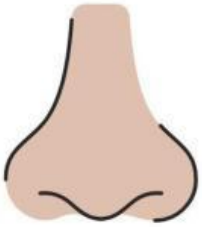

- Rasa halus/kasar

- Melihat

- Mencium Aroma

- Mendengar

nurjannah_alkhansa

LIVEWORKSHEETS