SEKOLAH KEBANGSAAN TAMAN MERAK
MINGGU STEM
KUIZ SAINS TAHUN 2

NAMA :	KELAS :

A. Padankan gambar kepada jawapan yang betul.

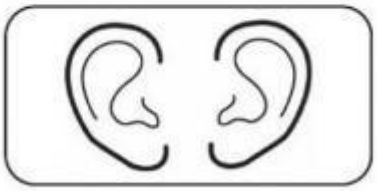

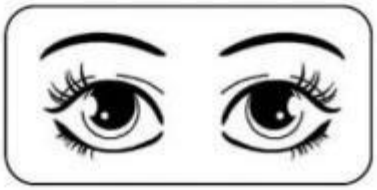

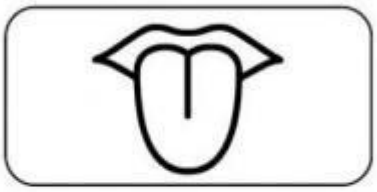

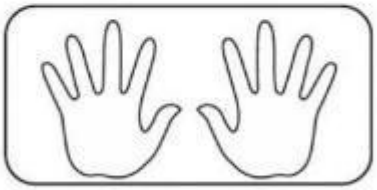

Penglihatan

Pendengaran

Sentuhan

Bau

Rasa

LIVEWORKSHEETS

B. Seretkan nama haiwan kepada kumpulan mengikut ciri yang betul

Angsa

Kucing

Ayam

Singa

Kambing

Helang

Itik

Kancil

Haiwan yang berkepak	Haiwan yang berbulu halus

LIVEWORKSHEETS

C. Seret jawapan di bawah dan suaikan pada petak yang betul.

PROSES KITARAN AIR SEMULA JADI

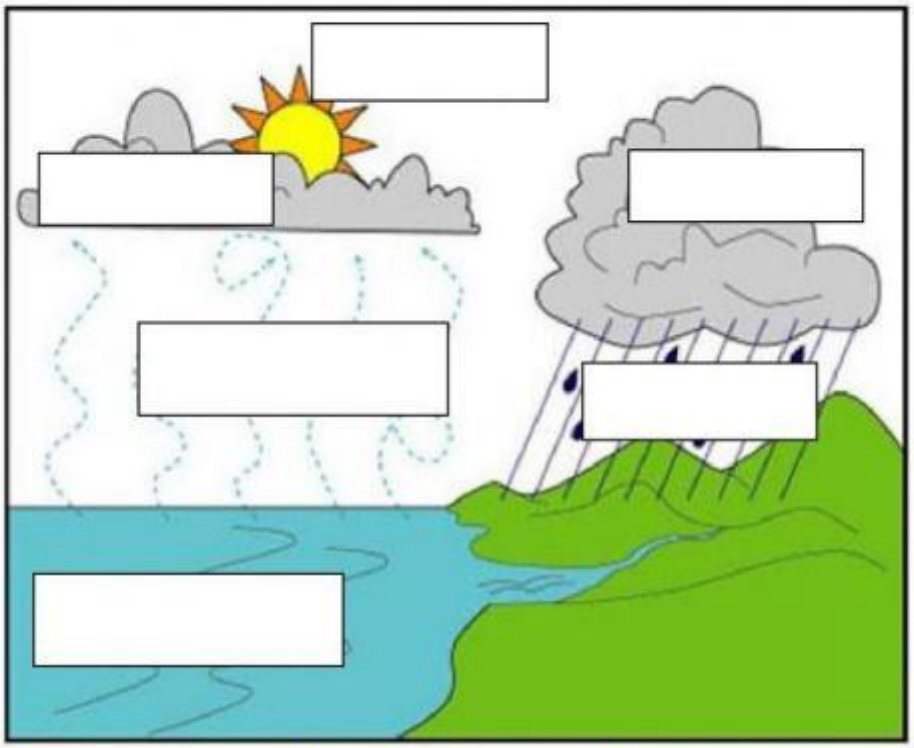

Wap air	Air laut	Cahaya matahari
Wap air membentuk awan	Hujan	Awan menjadi berat

LIVEWORKSHEETS

D. Pilih jawapan yang betul berpandukan gambar rajah di sebelah.

_____ ialah kawasan air yang luas dan dikelilingi oleh daratan.

_____ ialah titisan air yang membentuk awan dan turun ke permukaan bumi.

Hujan turun ke bumi membentuk aliran air yang dikenali sebagai _____

_____ ialah permukaan bumi yang besar dan dilitupi oleh air masin.

_____ merupakan sumber air yang terdapat di bawah tanah dan keluar ke permukaan bumi.

LIVEWORKSHEETS

E. Susun peringkat dalam kitar hidup setiap haiwan dengan menarik gamar haiwan ke kotak yang betul.



LIVEWORKSHEETS