LKPD

TEOREMA PYTHAGORAS

Nama Kelompok :

1. .....
2. .....
3. .....
4. .....
5. .....

TUJUAN PEMBELAJARAN

Menghitung hipotenusa dan sisi segitiga lainnya dengan Teorema Pythagoras

PETUNJUK PENGERJAAN

- Baca doa terlebih dahulu
- Jawablah pertanyaan-pertanyaan yang diajukan dengan lengkap dan jelas
- Gunakan informasi yang telah kalian baca pada aplikasi untuk mendukung jawaban kelompokmu
- Kumpulkan hasil kerja kelompokmu tepat waktu

LIVEWORKSHEETS

LKPD

TEOREMA PYTHAGORAS

Setelah memahami materi pembelajaran yang diberikan, pilihlah jawaban yang benar

AKTIVITAS 1

Teorema Pythagoras berlaku untuk jenis segitiga apa?

Dalam segitiga siku-siku, sisi miring disebut juga dengan...

Rumus umum Teorema Pythagoras adalah...

LIVEWORKSHEETS

LKPD

TEOREMA PYTHAGORAS

Setelah memahami materi pembelajaran yang diberikan, pilihlah jawaban yang benar

KELOMPOK MERAH

AKTIVITAS 2

Tarik garis yang menghubungkan dengan rumus yang tepat!

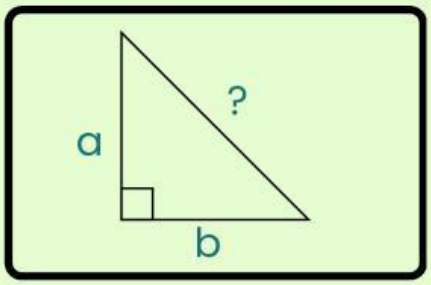

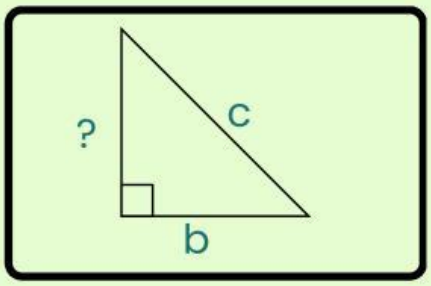

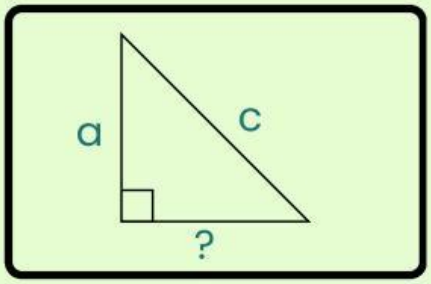

- $a^2 = c^2 - b^2$
- $b^2 = c^2 - a^2$
- $c^2 = a^2 + b^2$

LIVEWORKSHEETS

LKPD

TEOREMA PYTHAGORAS

AKTIVITAS 3

Isilah titik - titik dibawah ini!

1

..... m

2

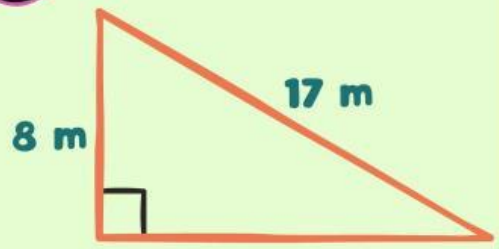

..... m

3

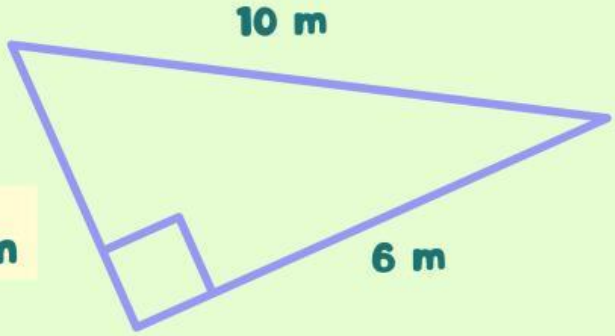

..... m

LIVEWORKSHEETS

LKPD

TEOREMA PYTHAGORAS

YEAY SUDAH SELESAI

Ada yang ingin ditanyakan? Tanyakan disini!

Bagaimana perasaan kamu sekarang ?

LIVEWORKSHEETS