FIGURY GEOMETRYCZNE

1. Jaką miarę ma kąt β?
   A. 43° B. 67° C. 73° D. 110°

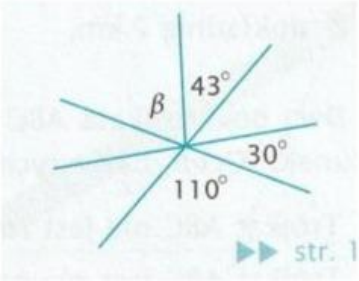

2. Jaką miarę ma kąt α?
   A. 38° B. 47° C. 52° D. 85°

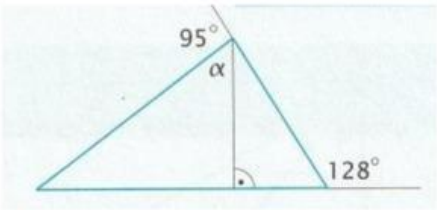

3. Jaką miarę ma kąt α?
   A. 34° B. 54° C. 61° D. 63°

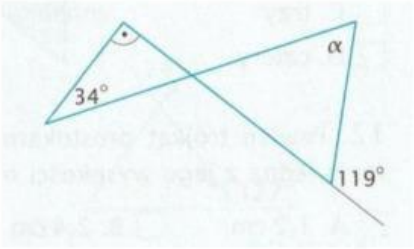

4. Który z trójkątów nie jest równoramienny?

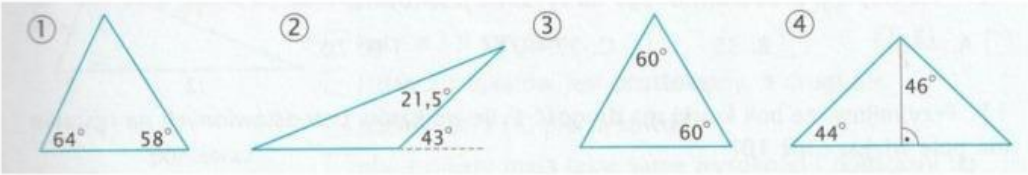

   A. 1 B. 2 C. 3 D. Żaden, wszystkie są równoramienne.

5. Czworokąt ABCD o obwodzie 36 cm przekątna AC dzieli na trójkąty ACD i ABC o obwodach 30 cm i 34 cm. Długość przekątnej AC jest równa:
   A. 16 cm B. 8 cm C. 14 cm D. 10 cm

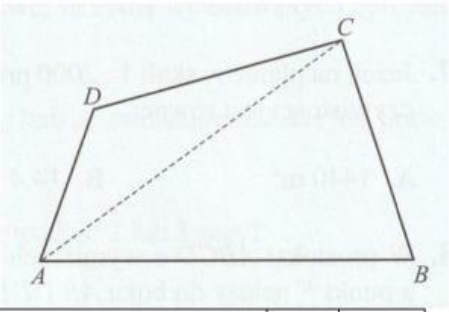

6. Oceń prawdziwość zdań.

W każdym równoległoboku suma miar dwóch sąsiednich kątów wewnętrznych jest równa 180°.	P	F
W każdym trapezie suma miar dwóch sąsiednich kątów wewnętrznych jest równa 180°.	P	F

LIVEWORKSHEETS