السؤال الأول : اختر الإجابة الصحيحة مما بين القوسين :

أ – من أشهر علماء المسلمين في الجغرافيا .....

(ابن خلدون - ابن سينا – الإدريسي – ابن حيان)

ب- استطاع .....رسم الخرائط بدقة ووضحوا عليها القارات والمناطق المكتشفة

(الإغريق - الأوربيون - المصريون - البابليون)

ج- يعد .....أول من وضع أسس علمية لرسم الخرائط

(الإغريق - الرومان - المصريون - البابليون)

د- قاموا بتصحيح المعلومات الواردة في خرائط الإغريق والرومان .....

(الأوربيون - الفرس - المسلمون - الفينقيين)

ه- تميزت خرائط المسلمين ب.....

(الدقة - استخدام الألوان - الخطوط -- جميع ما سبق)

ز- أول الشعوب التي استخدمت الخرائط التفصيلية .....

(المصرية -- البابلية -- الإغريقية --- الرومانية)

LIVEWORKSHEETS

١- الخريطة التي أمامك تمثل خريطة العالم التي رسمها :

أ- المسعودي ب- الإدريسي

ب- أحمد بن ماجد ج- الاصطخري

٢- الرقم الذي يشير إلى دائرة الاستواء في الخريطة الآتية:

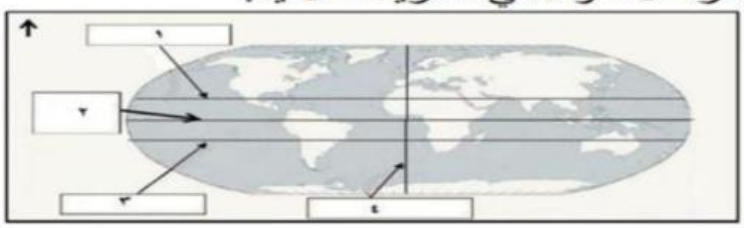

أ) ١
ب) ٢
ج) ٣
د) ٤



٣- جميع الخصائص التالية تنتمي الى الشكل الذي أمامك ماعدا :

ا- عددها ٣٦٠ خطا ب- أنصاف دوائر

ج- الخط الرئيسي جرينتش د- عددها ١٨٠دائرة

٤-الصورة التي أمامك للملاح العماني الشهير الذي قام بوضع كتاب:

أ- نزهة المشتاق في اختراق الأفاق ب- معجم البلدان

ج- الفوائد في أصول علم البحر والقواعد د- لسان العرب

٥- الحضارة التي رسمت خرائطها على أسس علمية دقيقة :

أ- الإغريق ب- المسلمون ج- البابليون د- المصريون

٦- يبلغ عدد خطوط الطول :

أ- ٢٥٠ خط ب- ٢٦٠ خط ج- ٢٨٠خط د- ٣٦٠خط

٧- دائرة العرض الرئيسية هي :

أ- مدار الجدي ب- دائرة الاستواء ج- مدار الجدي د- الدائرة القطبية الشمالية

LIVEWORKSHEETS

٨- يبلغ عدد دوائر العرض :

أ- ١٦٠ ب- ١٩٠ ج- ٢٨٠ د- ١٨٠

٩- يقسم خط جرينتش سطح الكرة الأرضية إلى نصفين :

أ- شمالي وشرقي ب- شرقي وغربي ج- شمالي وجنوبي د- جنوبي وغربي

١٠- الفرق بين كل خط طول وخط طول :

أ- ٦دقائق ب- ٨ دقائق ج- ٤ دقائق د- ٥ دقائق

السؤال الثاني : أكتب الاتجاهات في مكانها الصحيح : (شمال - شرق - غرب - جنوب)

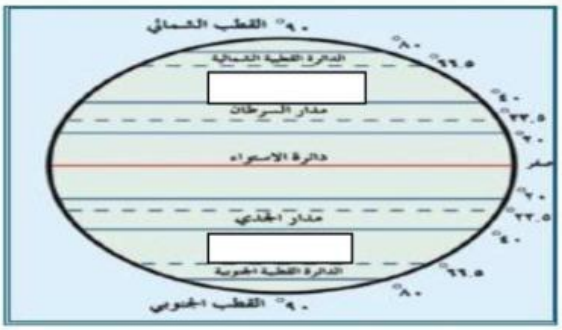

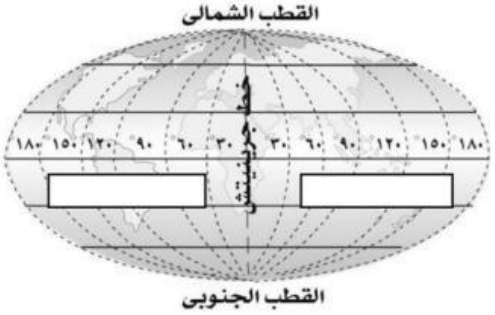

ب- أكتب أسفل كل شكل المادة التي رسمت به :

(الرمال ـــ جدران الكهوف)

LIVEWORKSHEETS