BEATRIZ FEZ UMA PESQUISA COM SEUS COLEGAS DE SALA. PERGUNTOU QUANTOS ANIMAIS DOMÉSTICOS TINHA CADA ALUNO. OBSERVE A TABELA E O GRÁFICO QUE ESTÁ ACORDO COM AS RESPOSTAS DE SEUS COLEGAS.

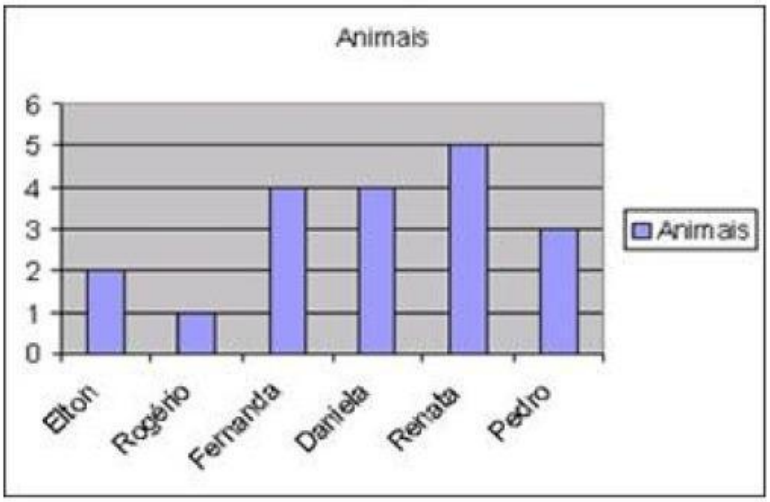

1. QUEM TEM O MESMO NÚMERO DE ANIMAIS DOMÉSTICOS?

____ ELTON E PEDRO. ____ ROGÉRIO E ELTON.

____ FERNANDA E RENATA. ____ DANIELA E FERNANDA.

2. QUEM TEM MAIS ANIMAIS DOMÉSTICOS? ____ ____ ____ ____

3. QUANTOS ANIMAIS ELTON E FERNANDA TÊM JUNTOS? ____ ____ ____ ____

UMA PROFESSORA DE MATEMÁTICA REALIZOU UMA PESQUISA COM SEUS ESTUDANTES SOBRE QUAL A FORMA GEOMÉTRICA PREFERIDA. CADA ALUNO SÓ PODERIA ESCOLHER UMA ÚNICA FORMA. OS RESULTADOS ESTÃO NO GRÁFICO ABAIXO.

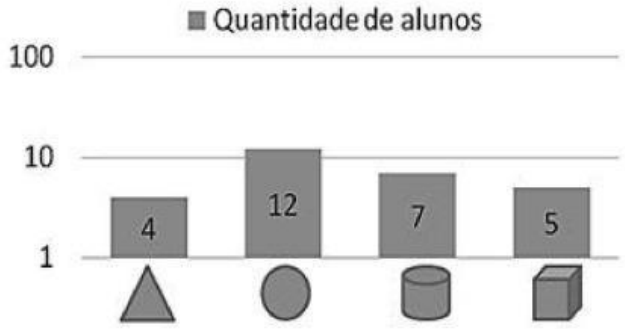

4. QUANTOS ALUNOS PARTICIPARAM DESTA PESQUISA?

____ 26 ALUNOS. ____ 27 ALUNOS.

____ 28 ALUNOS. ____ 29 ALUNOS.

5. QUAL A FORMA GEOMÉTRICA MAIS PREFERIDA DOS ESTUDANTES?

____ TRIÂNGULO. ____ CÍRCULO.

____ CILINDRO. ____ CUBO.

LIVEWORKSHEETS

6. OBSERVE O GRÁFICO COMPARATIVO ABAIXO EM METROS QUE MOSTRA AS DIFERENÇAS DE TAMANHOS DE TRÊS ELEMENTOS E DEPOIS RESPONDA À QUESTÃO:

QUANTOS METROS MEDEM CADA ELEMENTO?

A) O PRÉDIO: _____

B) O POSTE: _____

C) A GIRAFA: _____

7. UM PROFESSOR DE MATEMÁTICA FEZ UM GRÁFICO MOSTRANDO O TEMPO MÉDIO DE VIDA DE ALGUNS ANIMAIS. OBSERVE O GRÁFICO ABAIXO E DEPOIS RESPONDA À QUESTÃO:

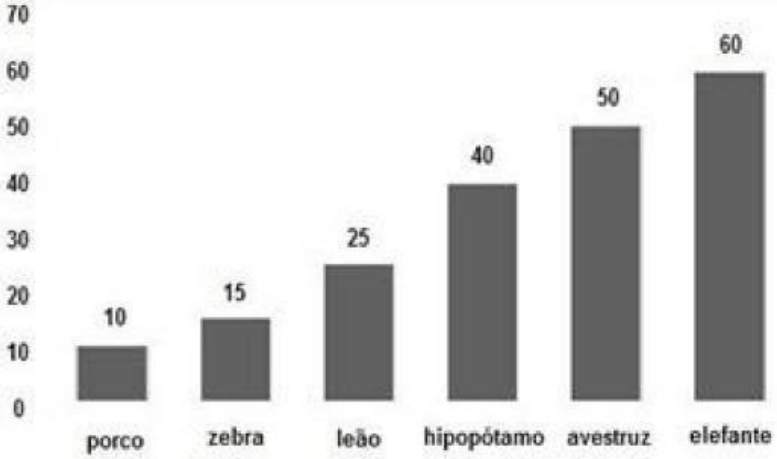

QUANTOS ANOS O LEÃO VIVE A MAIS QUE O PORCO?

____ 10 ANOS. ____ 15 ANOS.

____ 25 ANOS. ____ 40 ANOS.

8. MARINA ESTAVA NA AULA DE ARTES VISUAIS E A PROFESSORA PEDIU PARA MEDIR, EM CENTÍMETROS, ALGUNS MATERIAIS COM A RÉGUA.

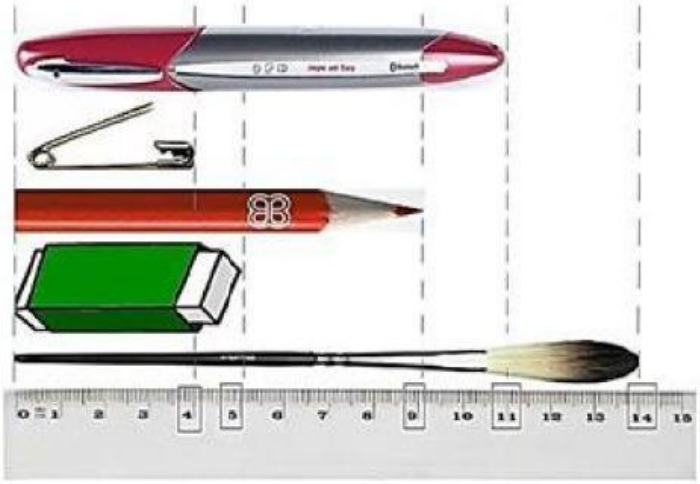

QUAL É A MEDIDA DOS OBJETOS, EM ORDEM DECRESCENTE?

____ 4CM, 5CM, 9 CM, 11CM E 14CM.

____ 5CM, 11CM, 9 CM, 14CM E 4CM.

____ 9CM, 14CM, 11CM, 4CM E 5CM.

____ 14CM, 11CM, 9 CM, 5CM E 4CM.

OBSERVE O GRÁFICO ABAIXO QUE MOSTRA A PREFERÊNCIA DOS ALUNOS POR FRUTAS DA SALA DO 5º ANO E DEPOIS RESPONDA ÀS QUESTÕES 9 E 10:

LIVEWORKSHEETS

9. SABENDO QUE CADA ALUNO ESCOLHEU APENAS UMA FRUTA, QUANTOS ESTUDANTES PARTICIPARAM DA PESQUISA ACIMA?

10. QUAL A FRUTA MAIS PREFERIDA DOS ALUNOS? ____ ____ ____ ____

OBSERVE O GRÁFICO DE LINHA ABAIXO QUE REVELA A QUANTIDADE DE AUTOMÓVEIS QUE PASSAM EM UMA DETERMINADA RODOVIA FEDERAL E DEPOIS RESPONDA ÀS QUESTÕES 11 E 12:

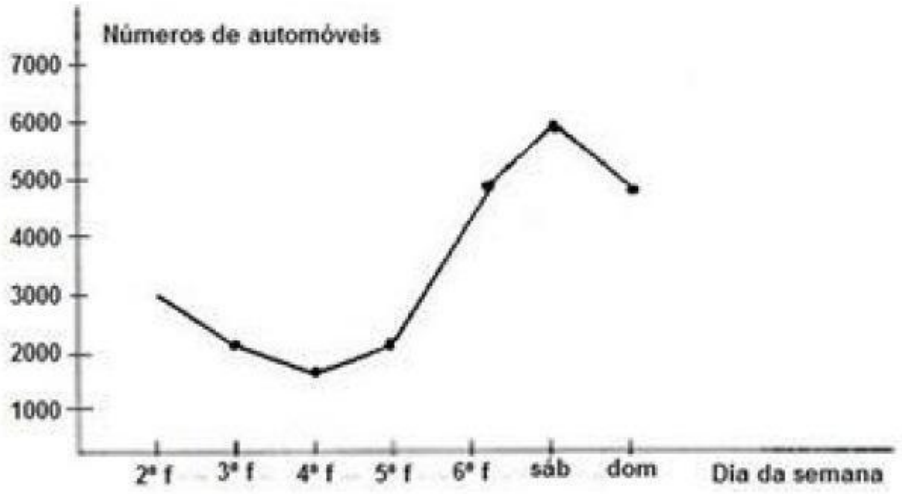

11. QUAL O DIA DA SEMANA QUE MAIS TRAFEGAM AUTOMÓVEIS NESSA RODOVIA?

12. QUAL A QUANTIDADE APROXIMADA DE AUTOMÓVEIS QUE TRAFEGAM NO DOMINGO NA RODOVIA?

____ 5.000 ____ 7.000 ____ 6.000 ____ 4.000

13. OBSERVE O GRÁFICO ABAIXO QUE REVELA OS ESPORTES PREFERIDOS DA TURMA DO 3º ANO:

LIVEWORKSHEETS

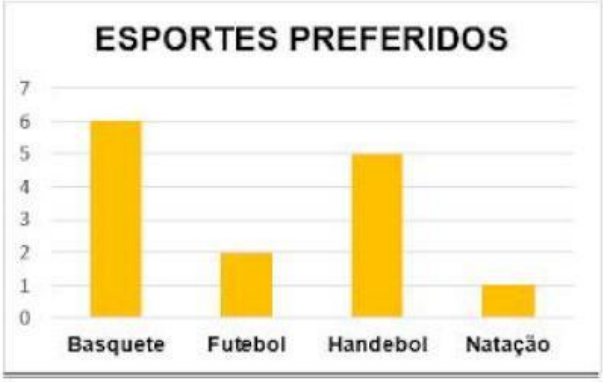

QUAL DOS ESPORTES CITADOS NA PESQUISA FOI O MAIS ESCOLHIDO?

____ FUTEBOL.

____ BASQUETE.

____ HANDEBOL.

____ NATAÇÃO.

14. ANALISE O GRÁFICO QUE RETRATA A PORCENTAGEM DE ALUNOS QUE ACERTARAM AS QUESTÕES DE UMA AVALIAÇÃO DE MATEMÁTICA:

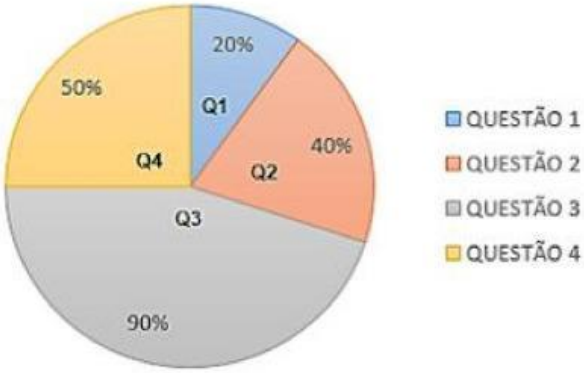

SABENDO QUE O TOTAL DE ALUNOS EQUIVALE A 100%, QUAL A PORCENTAGEM DE ALUNOS QUE ERRARAM A QUESTÃO 3 (Q3).

____ 10%. ____ 20%. ____ 50%. ____ 90%.

15. O GRÁFICO ABAIXO PERTENCE A QUE CATEGORIA DE CLASSIFICAÇÃO?

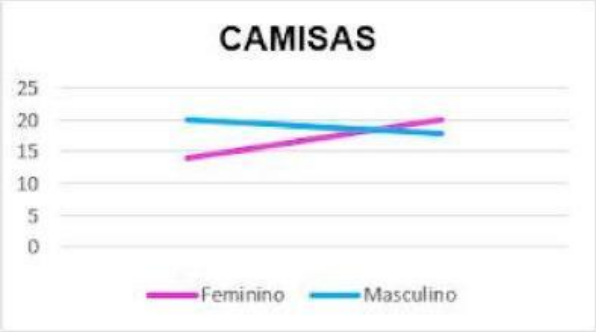

____ GRÁFICO DE LINHAS.

____ GRÁFICO DE BARRAS.

____ GRÁFICO DE SETORES.

____ GRÁFICO DE RADAR.

OBSERVE O GRÁFICO ABAIXO.

LIVEWORKSHEETS

16. DE QUE ASSUNTO O GRÁFICO SE TRATA?

____ TIPOS DE FRUTAS DA FEIRA.

____ NÚMERO DE FRUTAS VENDIDAS.

____ FRUTAS FAVORITAS DOS ALUNOS.

____ QUANTIDADE DE ALUNOS DA SALA.

17. SOBRE O GRÁFICO, É CORRETO AFIRMAR QUE:

____ A FRUTA MAIS PREFERIDA É A GOIABA.

____ SETE ALUNOS GOSTAM DE MORANGO.

____ TODOS OS ALUNOS NÃO GOSTAM DE LARANJA.

____ DOIS ALUNOS GOSTAM DE BANANA.

18. QUANTOS TIPOS DE FRUTAS FORAM APRESENTADOS NO GRÁFICO?

____ 1 TIPO DE FRUTA.

____ 3 TIPOS DE FRUTAS.

____ 4 TIPOS DE FRUTAS.

____ 7 TIPOS DE FRUTAS.

19. OBSERVE O GRÁFICO QUE MOSTRA A QUANTIDADE DE BRINQUEDOS DE ISADORA:

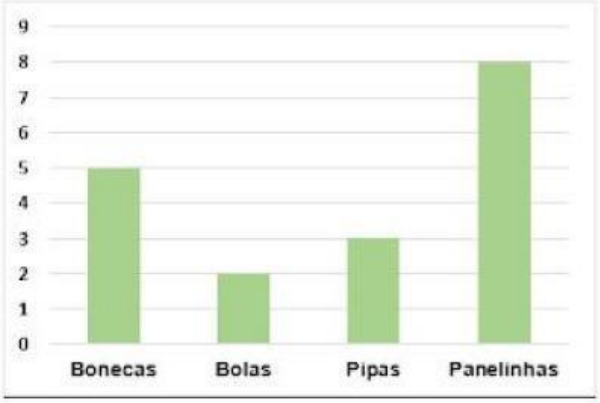

QUANTOS BRINQUEDOS ELA TEM NO TOTAL?

____ 18. ____ 15. ____ 10. ____ 7.

20. RIAN FEZ UMA PESQUISA EM SUA TURMA PARA SABER O TOTAL DE ANIMAIS DOMÉSTICOS QUE ELES POSSUEM:

LIVEWORKSHEETS



QUANTOS CACHORROS E GATOS OS ALUNOS POSSUEM NO TOTAL?

____ 5. ____ 15. ____ 19. ____

21. VEJA A SEGUIR O GRÁFICO QUE REVELA OS TRÊS COMPONENTES CURRICULARES MAIS QUERIDOS DOS ALUNOS:

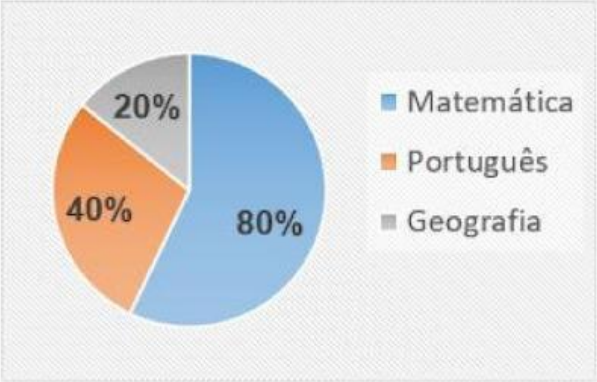

QUAL O COMPONENTE CURRICULAR MENOS PREFERIDO DOS ALUNOS?

____ HISTÓRIA. ____ MATEMÁTICA.

____ GEOGRAFIA. ____ PORTUGUÊS.

22. CARLA MONTOU UM GRÁFICO COM A PORCENTAGEM DE LIXO QUE ELA CONSEGUIU REDUZIR NOS QUATRO PRIMEIROS MESES DO ANO DE 2021:

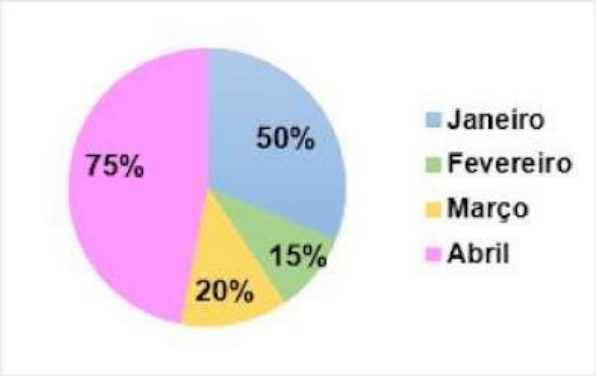

DE ACORDO COM AS INFORMAÇÕES APRESENTADAS PELO GRÁFICO, EM QUAL MÊS DO ANO CARLA CONSEGUIU REDUZIR A MAIOR QUANTIDADE DE LIXO?

____ JANEIRO. ____ FEVEREIRO.

____ MARÇO. ____ ABRIL.

LIVEWORKSHEETS