Nama : ----------

Kelas : ----------

Mari Mengamati

Gambar di atas merupakan macam-macam alat musik tradisional

Mari Bertanya

Ayo membuat pertanyaan dari jawaban yang tersedia!

Pertanyaan: _____
Jawaban: Bangun ruang sisi lengkung yaitu; tabung, kerucut, dan bola

Pertanyaan: _____
Jawaban: Berbentuk bola

Pertanyaan: _____
Jawaban: Alat musik serunai

LIVEWORKSHEETS

Mari Memasangkan

1

2

3

4

5

6

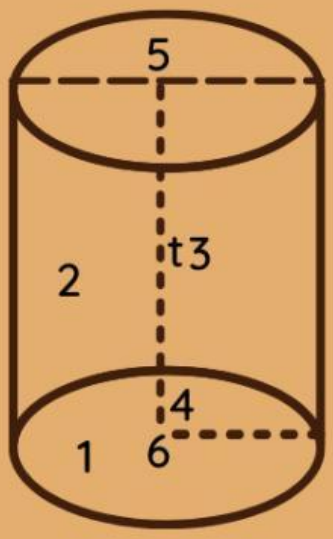



Selimut	Diameter
Diameter	Pusat Lingkaran
Tinggi	Jari-Jari

LIVEWORKSHEETS

Mari Memasangkan

1

2

3

4

5

6

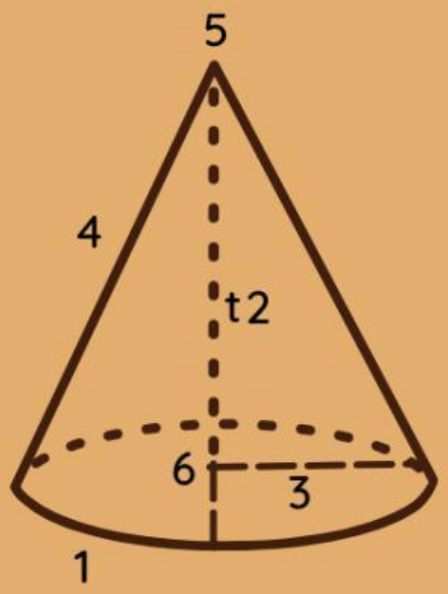

Titik Puncak

Diameter

Garis Pelukis

Rusuk

Tinggi Kerucut

Jari-Jari

LIVEWORKSHEETS

Mari Memasangkan

1

2

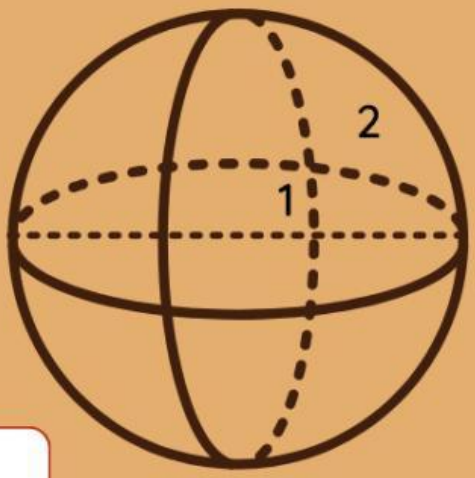

Titik Puncak

Diameter

Mari Menggambar Bangun Ruang

Tabung

Kerucut

Bola

LIVEWORKSHEETS

Mari Mencocokkan

Timpani

Kendang

Tifa

Suling

Pupuik

- Tabung
- Kerucut
- Bola
- Kerucut
- Tabung

LIVEWORKSHEETS

Mari Menjawab

Nama Bangun Ruang: _____

Rumus Luar Permukaan: _____

Rumus Volume: _____

Nama Bangun Ruang: _____

Rumus Luar Permukaan: _____

Rumus Volume: _____



Nama Bangun Ruang: _____

Rumus Luar Permukaan: _____

Rumus Volume: _____



LIVEWORKSHEETS

Mari Mencoba

1. Berapakah luas alas dari sebuah tabung jika diketahui jari-jari alasnya adalah 7 cm?
2. Berapakah volume tabung yang memiliki jari-jari 10 cm dan tinggi 20 cm?
3. Sebuah kerucut memiliki jari-jari alas 6 cm dan tinggi 8 cm. Berapakah volumenya?
4. Berapa luas permukaan sebuah kerucut dengan jari-jari 4 cm dan tinggi 10 cm?
5. Sebuah bola memiliki luas permukaan 314 cm^2. Berapakah jari-jarinya?
6. Berapakah volume sebuah bola dengan diameter 10 cm?

JAWABAN

LIVEWORKSHEETS