5 - 6. évfolyam I. forduló **Csapat neve: _____**

Munkapadok

Mennyi fémprofil maradt a levágások után? Írjátok le a megoldásotokat részletesen!

Mézga Aladár űrszerelő kalandja az űrállomáson

Írd le a megoldásod! Hogy gondolkodtatok?

Szerszám automata

Ha egyenként nyomják meg a gombokat vajon milyen szerszámot ad ki az automata?

1. gomb:
2. gomb:
3. gomb:
4. gomb:
5. gomb:
6. gomb:

Szerszám matek

Mi kerül a kérdőjel helyére?

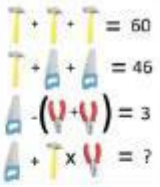

Kerék csere-bere

Színezzétek ki az ábrán az összes lehetőséget! Lehet, hogy több ábra van, mint lehetőség!

a)

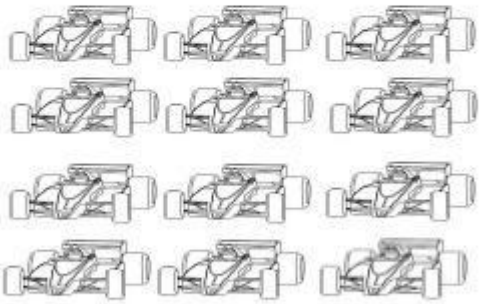

b)

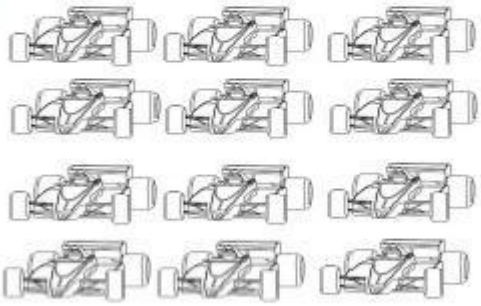

LIVEWORKSHEETS

5 - 6. évfolyam I. forduló Csapat neve: _____

Mérnöki precizitás

Találtok több megoldást is?

1		2		3	=	1						1		2		3	=	1					
1		2		3		4	=	1				1		2		3		4	=	1			
1		2		3		4		5	=	1		1		2		3		4		5	=	1	
1		2		3		4		5		6	=	1	1		2		3		4		5		6	=	1

Szakma Sztárok

Ki milyen színű és márkájú szerszámosládát kapott?

Versenyző neve	Márka	Szín
Zsófi		
Tomi		
Ádám		

Titkos műhely

Mi lesz a helyes számsor? Lehet, hogy több lehetőség is van?

A	B	C	D

Mesterek nyomában

	Híresség
47°41'20.3"N 17°37'59.8"E	
47°41'06.2"N 17°39'59.7"E	
47°42'04.9"N 17°38'38.9"E	
47°40'53.5"N 17°38'14.8"E	
47°41'36.2"N 17°37'39.2"E	
47°41'42.3"N 17°37'32.1"E	
47°43'36.8"N 17°42'05.9"E	
A biztonsági gyufa feltalálója, aki forradalmasította a tűzgyújtást.	
A Tisza szabályozásának tervező mérnöke, a magyar árvízvédelem egyik meghatározó alakja.	
A "legnagyobb magyar", aki a gőzhajózást és a folyók szabályozását segítette elő, Magyarország gazdasági modernizálásának egyik alakja.	
Feltalálta a dinamót és úttörő volt a szódavízgyártásban.	
Hidász mérnök volt, akinek munkássága a hídépítés területén volt jelentős.	
„Vasminiszterként" a magyar vasúthálózat és infrastruktúra kiépítésében játszott vezető szerepet.	

Az utolsó személy miről híres? Kutass, nézz utána!

Melyik szakma vagyok?

Emoji száma	1.	2.	3.	4.	5.	6.	7.	8.	9.	10.	11.	12.
Szakma betűjele												

LIVEWORKSHEETS