SMA NEGERI 12
GARUT

LKPD

Lembar Kerja Peserta Didik

INFORMATIKA

X

PENGANTAR

TIK-INFORMATIKA

(Sistem Komputer)

disusun oleh :
Agus Supriatna, S.Pd, M.Si

Kurikulum Merdeka

MERDEKA BELAJAR

Merdeka Mengajar

Nama : .....

Kelas : .....

No Abs : .....

LIVEWORKSHEETS

1. identifikasikan komponen yang ada pada tabel berikut ini dengan melihat gambar yang tersedia kemudian pilih salah satu kompnen yang tepat antara **hardware** dan **software**

KOMPONEN	**SOFTWARE**	**HARDWARE**

LIVEWORKSHEETS

2. identifikasikan komponen keluaran ***(Output)*** atau masukan ***(Input)*** atau ***IO (input output)*** yang ada pada tabel di bawah ini dengan mengklasifikasikan hardware tersebut

KOMPONEN	I	O	I/O

KOMPONEN	I	O	I/O
			
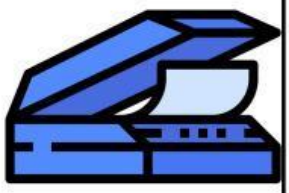			
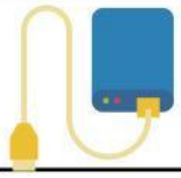			

LIVEWORKSHEETS