Kurikulum Merdeka

LKPD

UNSUR LINGKARAN

Kelas VIII SMP/MTs

Created By:
Dia A.d Putri (060812823280 53)

LIVEWORKSHEETS

Sebelum masuk ke soal, simak video berikut ini!

Silahkan baca materi berikut untuk menambah pemahamanmu!

klik disini

MATH

LIVEWORKSHEETS

Nama: Kelas:

Silahkan jawab soal-soal di bawah ini!

Isilah soal-soal berikut dengan baik dan benar!

1. Yang mana dibawah ini termasuk unsur-unsur lingkaran!

APOTEMA	DIAMETER
JARING	TEMBERENG
TEMBERANG	BUSUR
TALI BUSUR	RUSUK

2. Perhatikan gambar berikut ini!

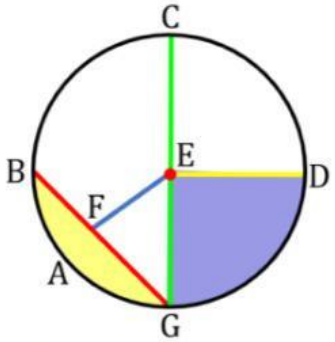

Pada gambar tersebut yang termasuk juring adalah...

- KURVA LENGKUNG CD
- DAERAH KUNING
- DAERAH BIRU
- GARIS ED

LIVEWORKSHEETS

Lanjuttt...

3.Perhatikan gambar berikut!

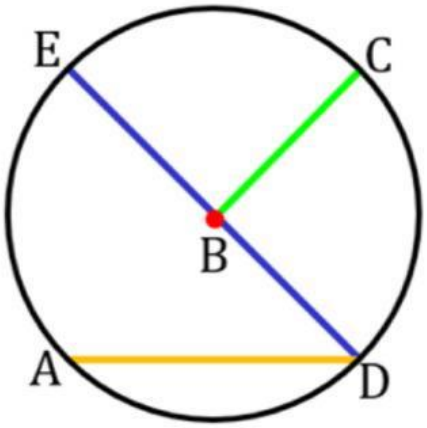

Jari-jari dapat dinyatakan oleh...

- GARIS BE
- GARIS ED
- GARIS AD
- KURVA LENGKUNG AD

4.Perhatikan gambar berikut ini!

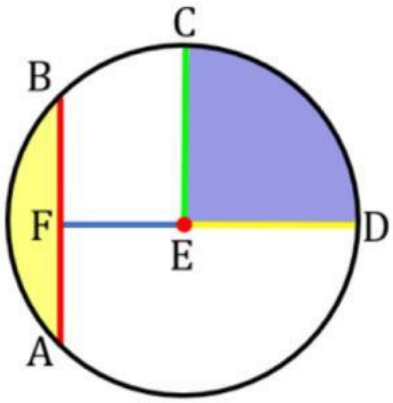

Busur ditunjukkan oleh...

- DAERAH KUNING
- DAERAH BIRU
- KURVA LENGKUNG AB
- GARIS EF

LIVEWORKSHEETS

Lanjuttt...

5.Perhatikan gambar berikut!

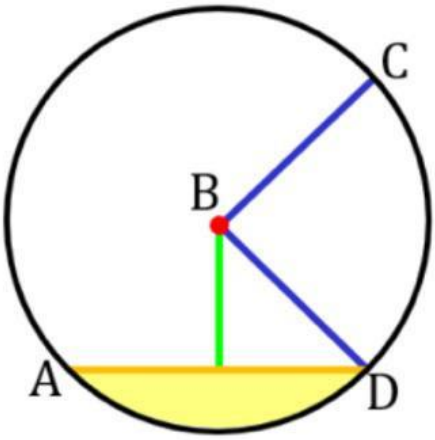

BUSUR

JURING

APOTEMA

TEMBERENG

Garis hijau disebut...

6.Perhatikan gambar berikut ini!

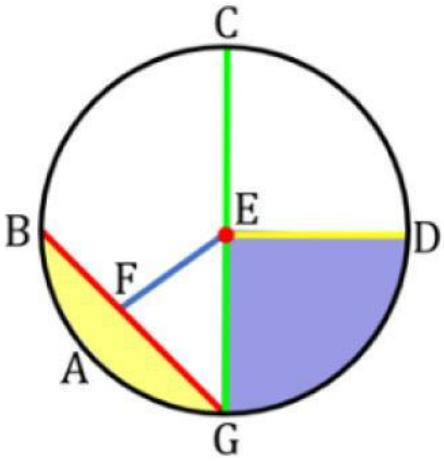

BUSUR

JARI-JARI

TALI BUSUR

APOTEMA

Berdasarkan gambar, garis BG disebut...

LIVEWORKSHEETS

Lanjuttt...

7.Perhatikan gambar berikut!

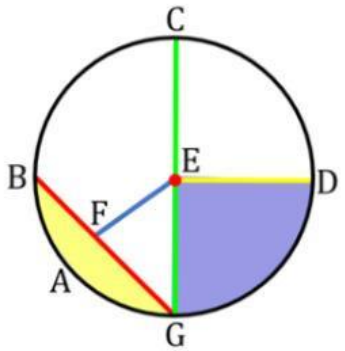

Isilah titik dibawah dengan benar!

TITIK PUSAT	=	...
...	=	GARIS CG
JARI-JARI	=	...
...	=	GARIS EF
BUSUR	=	...
...	=	DAERAH KUNING
TALI BUSUR	=	...
...	=	DAERAH BIRU

LIVEWORKSHEETS