LKPD

Lembar Kerja Peserta Didik

TRANSFORMASI GEOMETRI

REFLEKSI (PENCERMINAN)

Kelas 9 SMP

LIVEWORKSHEETS

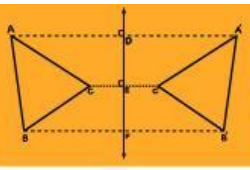

Lembar Kerja Peserta Didik
Refleksi (Pencerminan)

Nama Kelompok:

1. .....
2. .....
3. .....
4. .....

Tujuan Pembelajaran

Peserta didik mampu menentukan letak bayangan titik dan benda akibat refleksi (pencerminan) terhadap sumbu x, sumbu y, titik pusat (0,0), garis y = x, garis y = -x, garis x = k, dan garis y = h secara tepat

Petunjuk Penggunaan

1. Isilah nama anggota kelompok kalian
2. Baca dan pahami tujuan pembelajaran
3. Baca dan pahami langkah-langkah pengerjaan LKPD
4. Kerjakan aktivitas pada LKPD secara sistematis
5. Teliti kembali jawaban LKPD dengan benar
6. Kumpulkan hasil jawaban kepada guru
7. Presentasikan hasil jawaban bersama kelompok

LIVEWORKSHEETS

1 Mari Memahami

1. Simak video di bawah berikut!
2. Perhatikan dan pahami setiap materi yang disampaikan!
3. Catatlah poin-poin materi yang penting!
4. Berikan kesimpulan dari video tersebut!
5. Kumpulkan catatan kepada guru.

LIVEWORKSHEETS

2 Mari Mencatat

LEMBAR CATATAN

LIVEWORKSHEETS

2 Mari Mencatat

LEMBAR CATATAN

LIVEWORKSHEETS

3 Mari Mencocokkan

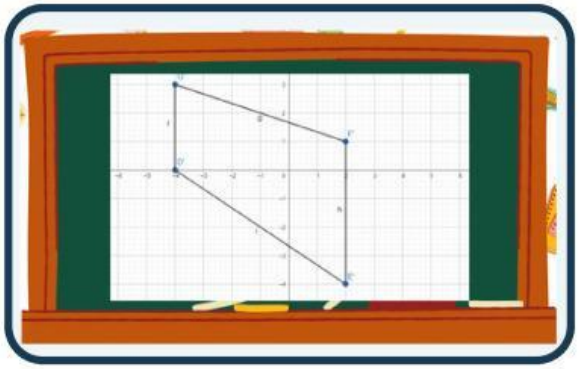



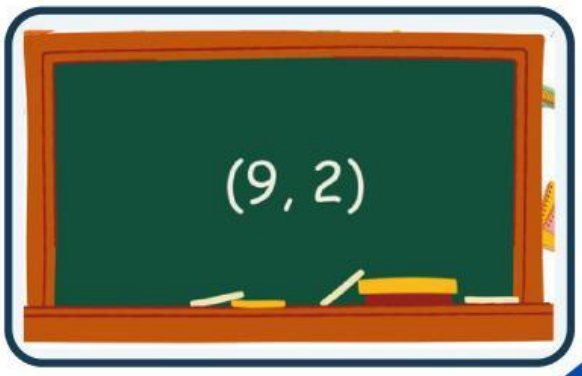

LIVEWORKSHEETS

3 Mari Mencocokkan

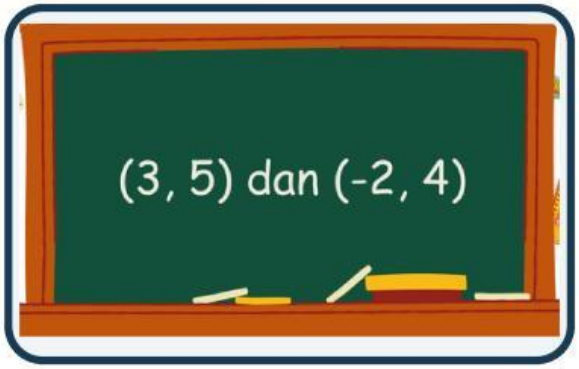

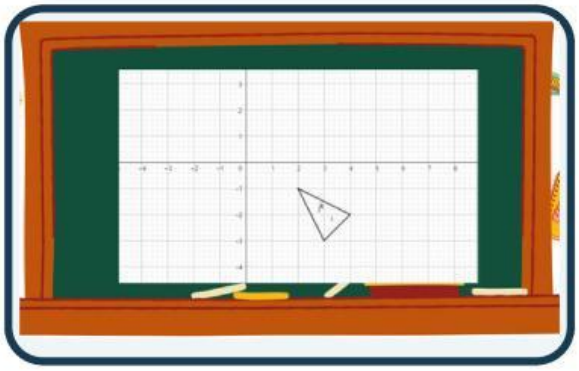

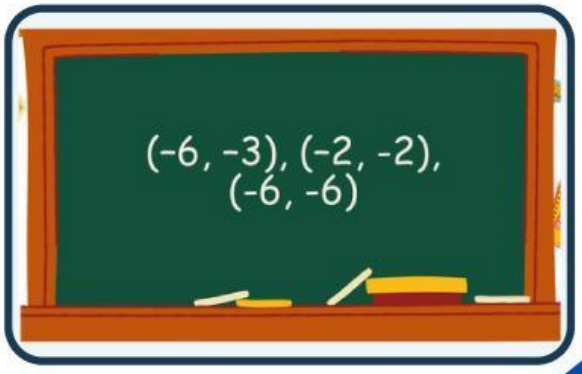

LIVEWORKSHEETS