LES FRACCIONS

Activitat 1:

Observa el triangle i contesta les següents preguntes:

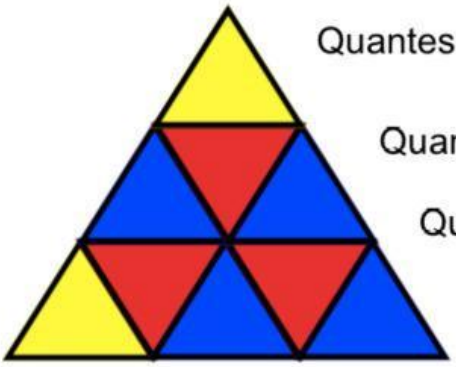

Quantes parts iguals hem fet al triangle: ☐

Quantes parts són de color blau : ☐

Quantes parts són de color groc : ☐

Quantes parts són de color vermell : ☐

Si volem escriure la fracció de les parts que són grogues

Quin seria el valor del numerador ?: ☐

Quin seria el valor del denominador ?: ☐

Si volem escriure la fracció de les parts que són blaves

Quin seria el valor del numerador ?: ☐

Quin seria el valor del denominador ?: ☐

Si volem escriure la fracció de les parts que són vermelles

Quin seria el valor del numerador ?: ☐

Quin seria el valor del denominador ?: ☐

LIVEWORKSHEETS

Activitat 2:

Observa aquest rectangle i contesta les
següent preguntes



Quantes parts iguals hem fet al rectangle:

Quantes parts són de color blau :

Quantes parts són de color verd :

Quantes parts són de color vermell :

Si volem escriure la fracció de les parts que són blaves

Quin seria el valor del numerador ?:

Quin seria el valor del denominador ?:

Si volem escriure la fracció de les parts que són vermelles

Quin seria el valor del numerador ?:

Quin seria el valor del denominador ?:

Si volem escriure la fracció de les parts que són de color verd

Quin seria el valor del numerador ?:

Quin seria el valor del denominador ?:

LIVEWORKSHEETS

Activitat 3:

Observa el rectangle de colors i els exemples que ja estan fets i termina de completar els que encara queden.

Escriu la fracció del rectangle que està pintada de blau: $\frac{4}{12}$

Escriu la fracció del rectangle que està pintada de groc: $\frac{2}{12}$

Escriu la fracció del rectangle que està pintada de verd: $\frac{\square}{12}$

Escriu la fracció del rectangle que està pintada de vermell: $\frac{\square}{12}$

LIVEWORKSHEETS

Activitat 4:

Observa el rectangle de colors

Escriu la fracció del rectangle que està pintada de blau: $\frac{\square}{12}$

Escriu la fracció del rectangle que està pintada de groc: $\frac{\square}{12}$

Escriu la fracció del rectangle que està pintada de verd: $\frac{\square}{12}$

LIVEWORKSHEETS

Activitat 5:

Observa la figura de colors i contesta les següents preguntes

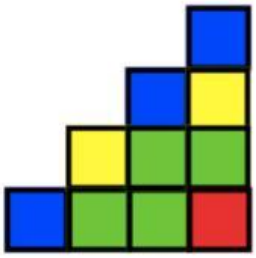

Escriu la fracció del rectangle que està pintada de blau: $\frac{3}{10}$

Escriu la fracció del rectangle que està pintada de groc: $\frac{\square}{\square}$

Escriu la fracció del rectangle que està pintada de verd: $\frac{\square}{\square}$

Escriu la fracció del rectangle que està pintada de vermell: $\frac{\square}{\square}$

Activitat 6:

Observa la figura de colors i contesta les següents preguntes

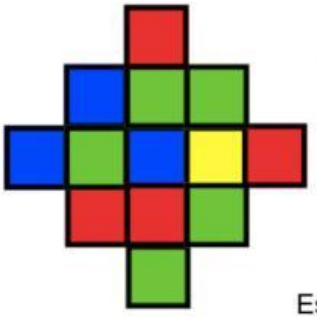

Escriu la fracció del rectangle que està pintada de blau: $\frac{\square}{\square}$

Escriu la fracció del rectangle que està pintada de groc: $\frac{\square}{\square}$

Escriu la fracció del rectangle que està pintada de verd: $\frac{\square}{\square}$

Escriu la fracció del rectangle que està pintada de vermell: $\frac{\square}{\square}$

LIVEWORKSHEETS