اسم الطالبة:

الفصل:

اكتبي الاجابة الصحيحة:



= ☐

= ☐

صلي العمود الأول بيما يناسبة في العمود الثاني ::



3

6

ضع ✓ عند الاجابة الصحيحة و ✗ عند الأجابة الخاطئة:

المنوال هوالقيمة الأكثر تكرارا في مجموعة البيانات ( )

الوسيط هو مجموع البيانات مقسوما على عددها ( )

معلمتك : مها الحارثي

LIVEWORKSHEETS

اسم الطالبة:

الفصل:

1- قمي بسحب كل عضو أمام مايناسبة :

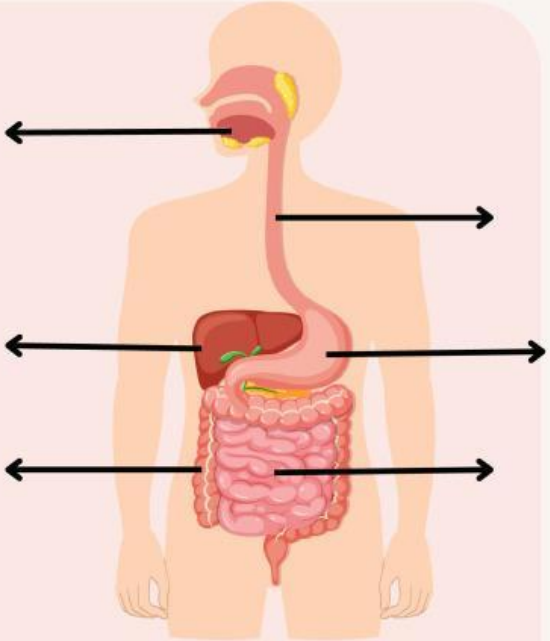

المعدة	الكبد
الامعاء الدقيقة	الأمعاء الغليظة
الفم	المرئ

2- اختاري الاجابة الصحيحة :

1-من وظائف الجهاز الهضمي.....

توفير الأكسجين | هضم الطعام | نقل الدم

2- تقوم .....بافراز اللعاب في الفم

الغدد اللعابية | الكبد | البنكرياس

LIVEWORKSHEETS

مها الحارثي
MAHA ALHARTHY

اسم الطالبة:

الفصل:

أكملي الفراغ بتوكيد لفظي مناسب ثم بيني نوعه

المعلم	لا	نجح	أنا قوي

1- أريد الظلم . نوعه :

2- الطالب المجتهد . نوعه :

3- سافر إلى الخارج . نوعه :

4 - في الحق . نوعه :

LIVEWORKSHEETS