Kurikulum
Merdeka

# Lembar Kerja Peserta Didik

# MATEMATIKA

## Materi: Bangun Datar

NAMA ----------

KELAS : ----------

LIVEWORKSHEETS

# Topik: Bangun Datar

## Capaian Pembelajaran:

Pada akhir fase C, peserta didik dapat menentukan keliling dan luas berbagai bentuk bangun datar (segitiga, persegi, persegi panjang, jajar genjang, layang layang, belah ketupat, trapesium dan lingkaran ).

## Tujuan Pembelajaran:

1. Peserta didik dapat menyebutkan jenis-jenis bangun datar beserta ciri-cirinya.
2. Peserta didik dapat menjelaskan perbedaan antara berbagai jenis bangun datar (seperti persegi, segitiga, dan lingkaran).
3. Peserta didik dapat menghitung luas dan keliling dari berbagai bangun datar dengan menggunakan rumus yang tepat.
4. Peserta didik dapat membedakan bangun datar berdasarkan sifat-sifatnya, seperti sisi sejajar dan sudut.

## Petunjuk Pengerjaan:

1. Bacalah langkah-langkah pengerjaan sebelum mengerjakan soal.
2. Soal dikerjakan secara berkelompok/individu
3. Jawablah pertanyaan dengan memperhatikan perintah soal dengan tepat

LIVEWORKSHEETS

**Nama:** **Kelas:**

# Bangun Datar

**Isikan jawaban yang benar pada kolom yang tersedia!**

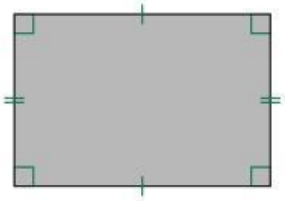

**Nama Bangun Datar :**

**Jumlah Sisi :** **Jumlah Sudut :** **Jumlah Diagonal :**



**Nama Bangun Datar :**

**Jumlah Sisi :** **Jumlah Sudut :** **Jumlah Diagonal :**

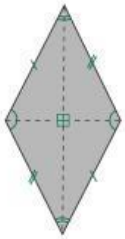

**Nama Bangun Datar :**

**Jumlah Sisi :** **Jumlah Sudut :** **Jumlah Diagonal :**

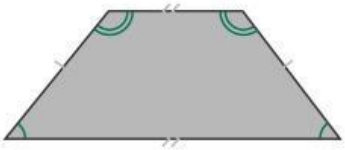

**Nama Bangun Datar :**

**Jumlah Sisi :** **Jumlah Sudut :** **Jumlah Diagonal :**

LIVEWORKSHEETS

Nama: Kelas:

# Bangun Datar

**Isikan jawaban yang benar pada kolom yang tersedia!**



Nama Bangun Datar :

Jumlah Sisi : Jumlah Sudut : Jumlah Diagonal :

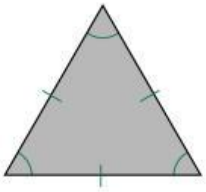

Nama Bangun Datar :

Jumlah Sisi : Jumlah Sudut : Jumlah Diagonal :

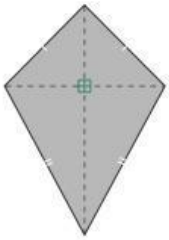

Nama Bangun Datar :

Jumlah Sisi : Jumlah Sudut : Jumlah Diagonal :

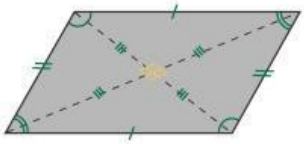

Nama Bangun Datar :

Jumlah Sisi : Jumlah Sudut : Jumlah Diagonal :

LIVEWORKSHEETS

Nama: Kelas:

# Perhatikan Gambar Brikut!!

**Pertanyaan:**

**Hitunglah banyak bangun datar pada gambar diatas dan tuliskan jawabannya pada kolom dibawah?**

**Jawaban:**

LIVEWORKSHEETS

**Nama:** **Kelas:**

## Perhatikan Gambar dibawah ini!!

**Pertanyaan:**
**Amatilah kereta diatas dan temukan bentuk bangun pada kereta dan tuliskan jawabannya pada kolom dibawah**

**Jawaban:**

LIVEWORKSHEETS

**Nama:** **Kelas:**

# Bangun Datar

Hitung jumlah bangun datar yang menyusun robot kemudian tuliskan jumlahnya pada kotak yanh tersedia





**Pertanyaan:**
**Hitunglah Bangun datar yang ada pada susunan robot diatas dan tuliskan jawabanmu dibawah ini**

**Jawaban:**

LIVEWORKSHEETS