Siti Nurjannah, S.Pd.,Gr

SMP MUHAMMADIYAH 3 SAMBUNGMACAN

KELAS VIII

LEMBAR KERJA PESERTA DIDIK

PESAWAT SEDERHANA (PENGUNGKIT)

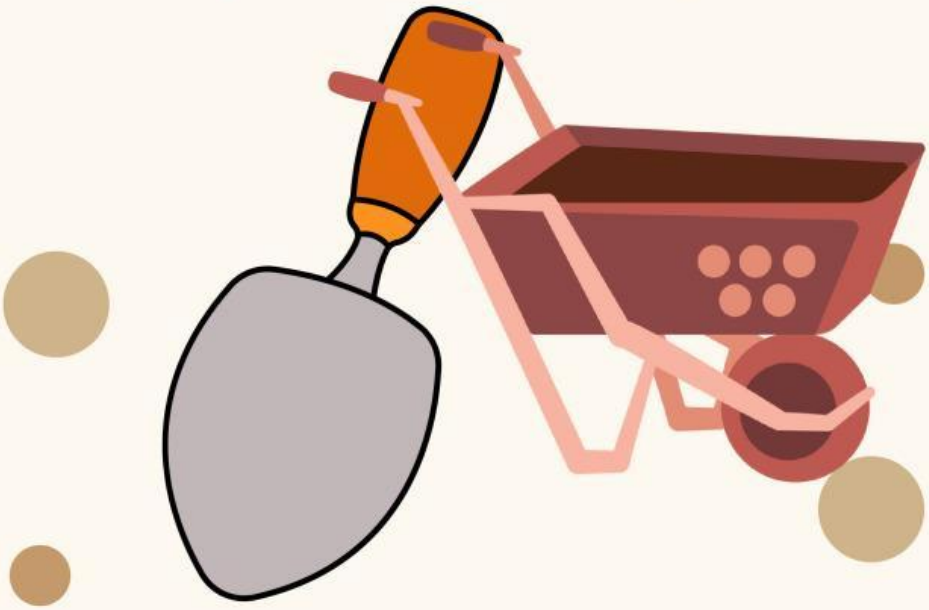

NAMA SISWA

KELAS

LIVEWORKSHEETS

Siti Nurjannah, S.Pd.,Gr

Mengenal Pesawat Sederhana

Selesaikan teka-teki silang di bawah ini!

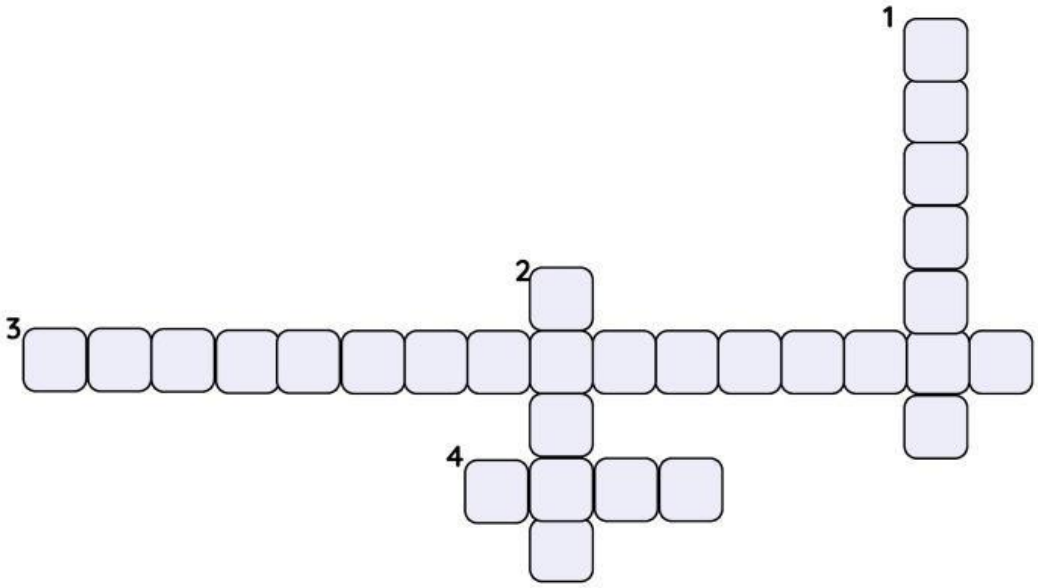

Gunakan petunjuk dibawah ini untuk memecahkan teka-teki silang!

Mendatar

3 Alat yang dapat memudahkan atu meringankan pekerjaan manusia

4 Pesawat sederhana yang memiliki 3 titik sebagai tumpuan, beban dan kuasa

Menurun

1. Contoh tuas jenis pertama

2 Titik beban berada di tengah merupakan tuas atau pengungkit jenis.....

Berikan keterangan titik tumpu, titik beban dan titik kuasa sesuai tempatnya

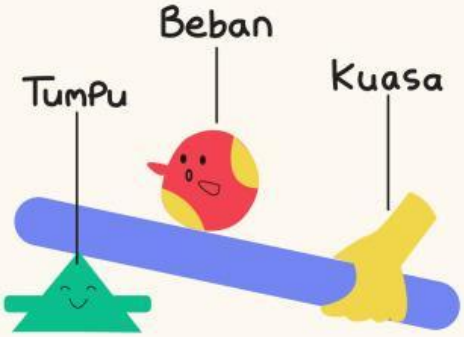

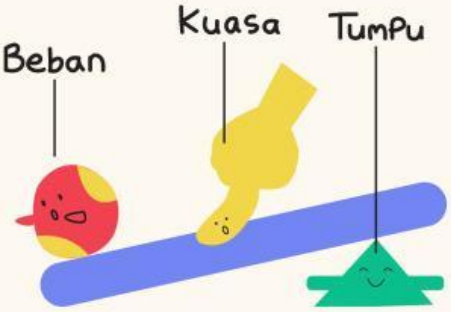

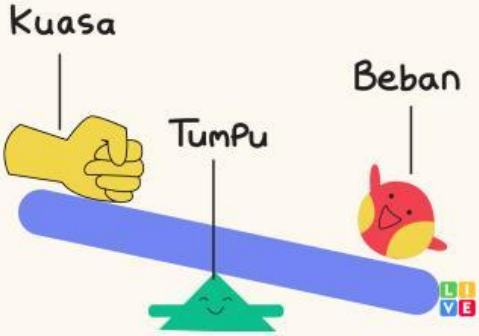

LIVEWORKSHEETS

Siti Nurjannah, S.Pd.,Gr

Berikan tanda cheklist pada salah satu jawaban yang menurut kamu benar

No	Bahan	Tuas I	Tuas II	Tuas III
1				
2				
3				
4				
5				
6				
7				

LIVEWORKSHEETS