PHIẾU HỌC TẬP

Mã 4301

Ngày …….tháng…….năm

Họ và tên: …….. Lớp :……

Câu 1. Nối các hình sau với tên gọi của góc tương ứng

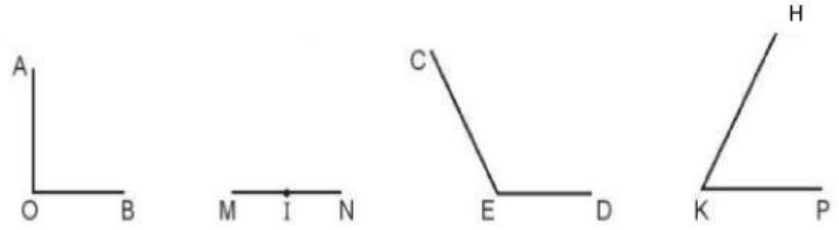

Góc tù	**Góc vuông**	**Góc nhọn**	**Góc bẹt**

Câu 2. Góc trong hình bên được đọc là

A. Góc đỉnh A, cạnh OA, OC

B. Góc đỉnh C, cạnh OA, OC

C. Góc đỉnh O, cạnh A, C

D. Góc đỉnh O, cạnh OA, OC

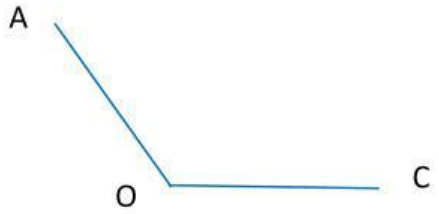

Câu 3. Thời điểm khi mà kim giờ và kim phút tạo thành một góc nhọn là:

A. 1 giờ **B. 6 giờ** **C. 7 giờ** **D. 9 giờ**

Câu 4. Bạn An vẽ góc đỉnh O, cạnh OM, ON có số đo 90° và góc đỉnh O, cạnh ON, OP cũng có số đo 90°. Hình nào sau đây là hình bạn An vẽ?

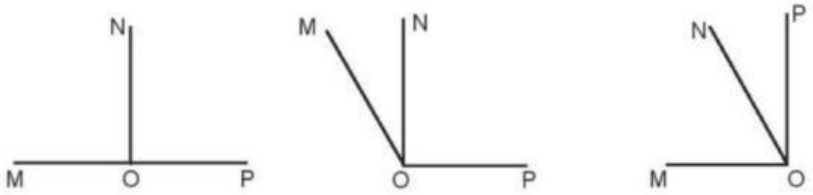

LIVEWORKSHEETS

Câu 5. Kéo các mốc thời gian mà kim giờ và kim phút tạo thành các góc nhọn, góc vuông, góc tù, góc bẹt

2 giờ	3 giờ	6 giờ	8 giờ 15 phút
9 giờ	9 giờ 45 phút	7 giờ 30 phút	1 giờ 10 phút

Góc nhọn	Góc vuông
Góc tù	Góc bẹt

Câu 6. Bấm vào link dưới đây để hoàn thành bài tập.

LIVEWORKSHEETS