مدرسة عبدالله بن رواحة الابتدائية للبنين

الصف الخامس

تدريبات إثرائية

مادة الحوسبة وتكنولوجيا المعلومات

منتصف الفصل الدراسي الأول

2025 - 2024

قسم الحوسبة وتكنولوجيا المعلومات

COMPUTING & INFORMATION TECHNOLOGY

هذه التدريبات لا تغني عن الكتاب المدرسي

LIVEWORKSHEETS

السؤال الأول: اختار الاجابة الصحيحة في كل مما يلي:

ماهي الوسيلة التي تساعدك على تتبع أنشطتك ومهامك خلال الأسبوع ويتضمن كل فعالياتك ويساعدك على تنظيمها؟

- ☐ الجدول الزمني.
- ☐ المخطط البياني.
- ☐ الكتاب المدرسي.
- ☐ الألعاب التعليمية.

ما هو البرنامج الذي يُستخدم لجمع وتنظيم وتمثيل البيانات؟

- ☐ برنامج الرسم.
- ☐ برنامج جدول البيانات.
- ☐ برنامج تصميم المستندات.
- ☐ برنامج العروض التقديمية.

ما هو المصطلح الذي يطلق على "عرض مرئي للمعلومات والبيانات يجعل من السهل فهم الأرقام وتحليلها"؟

- ☐ الدالة.
- ☐ الجدول.
- ☐ الصيغة الحسابية.
- ☐ المخطط أو الرسم البياني.

ما هو نوع المخطط البياني الذي يستخدم لتوضيح المقارنات بين البيانات؟

- ☐ المخطط الخطي.
- ☐ المخطط الدائري.
- ☐ مخطط الانتشار.
- ☐ المخطط العمودي/الشريطي.

LIVEWORKSHEETS

ما هو نوع المخطط البياني الذي يستخدم لإظهار التغييرات في البيانات على مدى فترة زمنية؟

- ☐ المخطط الخطي.
- ☐ المخطط الدائري.
- ☐ مخطط الانتشار.
- ☐ المخطط العمودي/الشريطي.

ما هو نوع المخطط البياني الذي يستخدم لإظهار العلاقة بين الأجزاء إلى الكل؟

- ☐ المخطط الخطي.
- ☐ المخطط الدائري.
- ☐ مخطط الانتشار.
- ☐ المخطط العمودي/الشريطي.

ما هو نوع المخطط البياني الذي يستخدم لمقارنة القيم بمرور الوقت؟

- ☐ المخطط الخطي.
- ☐ المخطط الدائري.
- ☐ مخطط الانتشار.
- ☐ المخطط العمودي/الشريطي.

السؤال الثاني: ما المقصود بالعبارات التالية:

1. **برنامج يستخدم أوراق العمل worksheets كطريقة لجمع وتنظيم وتمثيل البيانات.**

---

2. **مجموعة من الخلايا التي تنتج من تقاطع الصفوف والأعمدة وهي المساحة المخصصة لإدخال البيانات ومعالجتها.**

LIVEWORKSHEETS

السؤال الثالث: أجب على الأسئلة التالية:

اذكر أربعة أمثلة لاستخدام جداول البيانات:

1. .....
2. .....
3. .....
4. .....

اذكر فوائد إنشاء جدول زمني:

1. .....
2. .....

اذكر أربعة من النصائح لتقوم بإدارة وقتك:

1. .....
2. .....
3. .....
4. .....

LIVEWORKSHEETS

السؤال الرابع: صِل من العمود (أ) بما يناسبه من العمود (ب) فيما يلي:

أ	ب
مخطط خطي Line Chart	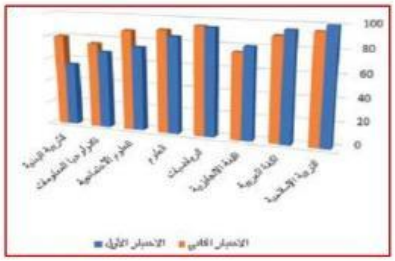
المخطط البياني Column/ Bar Chart العمودي / الشريطي	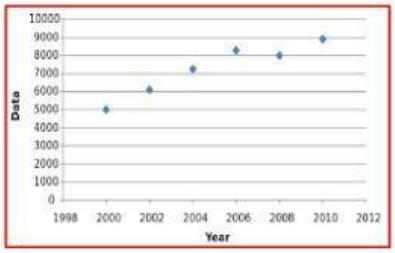
مخطط الانتشار Scatter Chart	
المخطط الدائري Pie Chart	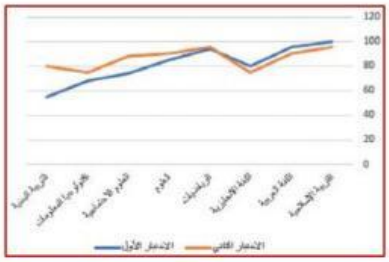

هذه التدريبات لا تغني عن الكتاب المدرسي

LIVEWORKSHEETS