NAMA: _____ **KELAS:** _____

A. Struktur Bagian Jantung

Pindahkan keterangan gambar ke kotak dengan tepat!

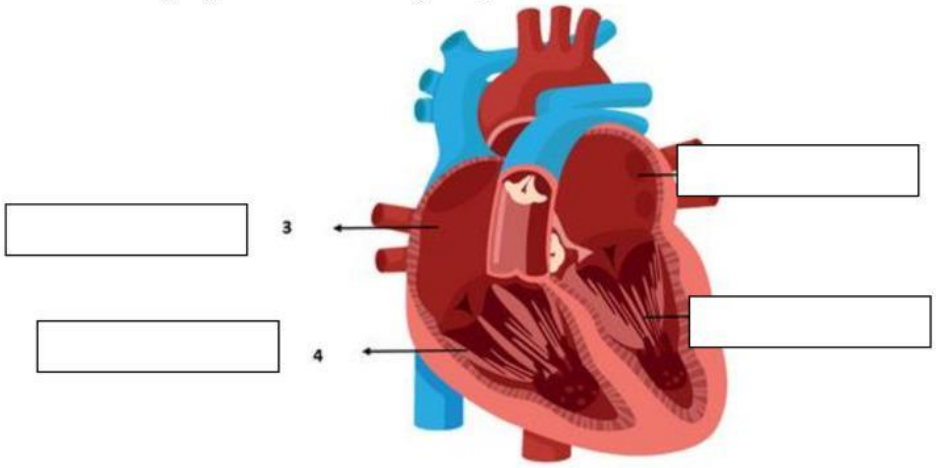

Bilik Kiri	Bilik Kanan	Serambi Kiri	Serambi Kanan

B. Mekanisme Peredaran Darah

Pilihlah pernyataan yang benar mengenai mekanisme peredaran darah berikut!

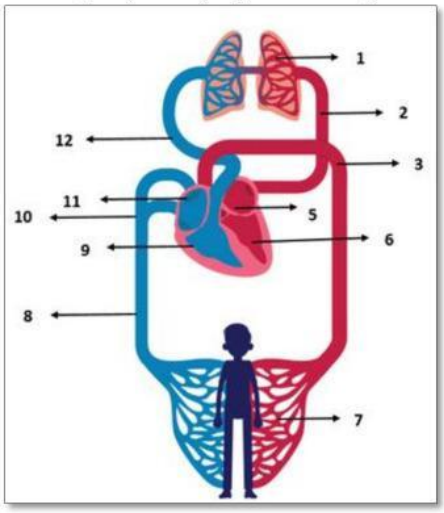

Peredaran Darah Besar	6 – 2 – 12 – 9 – 1
	6 – 3 – 7 – 8 – 11
Peredaran Darah Kecil	9 – 12 – 1 – 2 – 5
	9 – 11 – 10 – 8 – 7

C. Komponen Darah

Pindahkan keterangan gambar ke kotak dengan tepat!

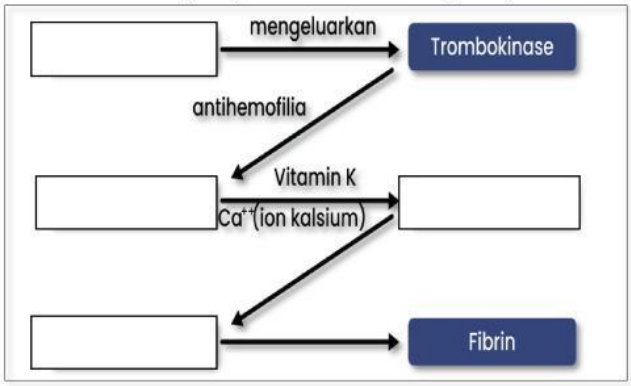

- **Protombin**
- **Fibrinogen**
- **Trombin**
- **Trombosit**

LIVEWORKSHEETS