1. อุปกรณ์ใดใช้พิมพ์ตัวเลข

ก.

ข.

ค.

2. ถ้านักเรียนต้องการเติมสีดาวให้เต็มจะใช้คำสั่งใด ในโปรแกรม Paint



ก.

ข.

ค.

3. ถ้านักเรียนใช้โปรแกรมกราฟฟิกสร้างบ้านหลังนี้จะใช้คำสั่งใด

ก.

ข.

ค.

4. โปรแกรมใดใช้วาดภาพและระบายสี

ก.

ข.

ค.

LIVEWORKSHEETS

5. ใครปฏิบัติได้ถูกต้อง ในการใช้อุปกรณ์เทคโนโลยีให้ปลอดภัย

ก.

ข.

ค.

6. ชุดคำสั่งใดใช้เปลี่ยนสีข้อความ

ก.

ข.

ค. 

7. จากภาพด้านล่าง ภาพใดแตกต่างจากภาพอื่น

ก.

ข.

ค.

10. จากการสังเกตภาพ2ภาพนี้มีจุดที่แตกต่างกันทั้งหมดกี่จุด

ก. 4 จุด ข. 5 จุด ค. 6 จุด

11. จากภาพ

ก. 4 จุด

ข. 5 จุด

ค. 6 จุด

LIVEWORKSHEETS

8. สัญลักษณ์นี้ แสดงถึงอารมณ์ใด

ก. เสียใจ

ข. ดีใจ

ค. โมโห

9. ข้อใดเป็นการใช้สัญลักษณ์แทนความหมายว่า เลี้ยวซ้าย

ก.

ข. 

ค.

12. อุปกรณ์ใดที่ไม่ควรจัดใส่กระเป๋านักเรียน

ก.

ข.

ค.

nvestigate

Search

LIVEWORKSHEETS

13. สังเกตภาพ ต้องใช้รหัสคำสั่งใด เพื่อพากระต่ายไปกินแครอท

ก.

ข.

ค.

14. รหัสคำสั่งในข้อใดใช้แทนการเดินลง แล้วเดินขวา 2 ครั้ง

ก.

ข.

ค.

16. ใครใช้อุปกรณ์เทคโนโลยีสารสนเทศ

ก. พลอยใช้โทรศัพท์เคลื่อนที่ถ่ายภาพ

ข. สตางค์เขียนรายงานส่งคุณครู

ค. พอเพียงหาข่าวจากหนังสือพิมพ์

17. ข้อใดเป็นการดูแลรักษา "คอมพิวเตอร์" ที่ไม่ถูกต้อง

ก. คลุมผ้าทุกครั้งหลังใช้งานเสร็จ

ข. กดปุ่มเมาส์เพียงเบา ๆ ทุกครั้ง

ค. ใช้ผ้าเปียกเช็ดแผงด้านหลังของซีพียู

18. บูมเปลี่ยนช่องโทรทัศน์บ่อย ๆ บูมปฏิบัติถูกต้องหรือไม่ เพราะเหตุใด

ก. ไม่ถูกต้อง เพราะจะทำให้พลาดรายการที่ชื่นชอบ

ข. ไม่ถูกต้อง เพราะจะทำให้หลอดภาพมีอายุการใช้งานสั้นลง

ค. ถูกต้อง เพราะจะได้ดูครบทุกช่อง

19. การทำความสะอาดแป้นพิมพ์ (คีย์บอร์ด) ที่ถูกต้องควรปฏิบัติอย่างไร

ก. คว่ำและเขย่าเบา ๆ เพื่อให้เศษผงเล็กๆ หล่นออก

ข. ใช้ผ้าชุบน้ำเช็ด

ค. คว่ำแป้นพิมพ์แล้วใช้ไม้เคาะแรง ๆ ให้ฝุ่นหล่นออกมา

LIVEWORKSHEETS

15. ข้อใดเป็นวิธีการดูแลรักษาจอภาพที่ถูกต้อง ก. ปิ่นใช้ไม้ขนไก่ปัดกวาดจอภาพ ข. ฟีฟ่าใช้ผ้าชุบน้ำถูบริเวณจอภาพ ค. ชานน ใช้กระดาษปิดช่องระบายความร้อนจอภาพ	20. ใครช่วยให้คอมพิวเตอร์มีอายุการใช้งานยาวนานยิ่งขึ้น ก. เอวา ซ่อมคอมพิวเตอร์เองโดยไม่มีความรู้ ข. กิ๊ฟ วางคอมพิวเตอร์ใกล้หน้าต่างที่มีแสงแดด ค. แก้ว วางคอมพิวเตอร์ห่างจากผนัง 15 ซ.ม.

LIVEWORKSHEETS