Resolva as situações com divisão de frações:(use os desenhos para tirar a sua conclusão)

a) A metade de uma torta circular foi dividida para 4 pessoas. Que fração cada pessoa vai receber? Isso é o mesmo que dizer $\frac{1}{2} : 4 =$

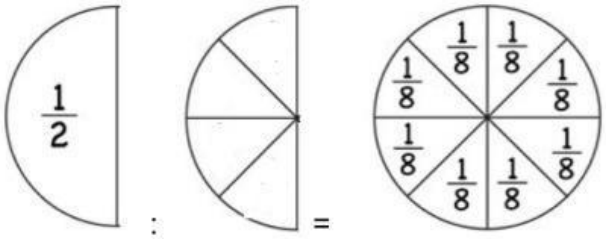

Ou seja, devo imaginar a torta inteira, dividida em 8 pedaços, assim a metade da torta estaria dividida em 4 partes iguais.

b) Agora imagine um terço da torta e que foi dividida para 2 pessoas. Temos $\frac{1}{3} : 2 =$

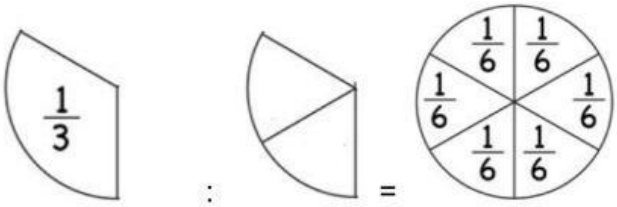

c) A próxima situação é dividir $\frac{3}{5} : 6 =$

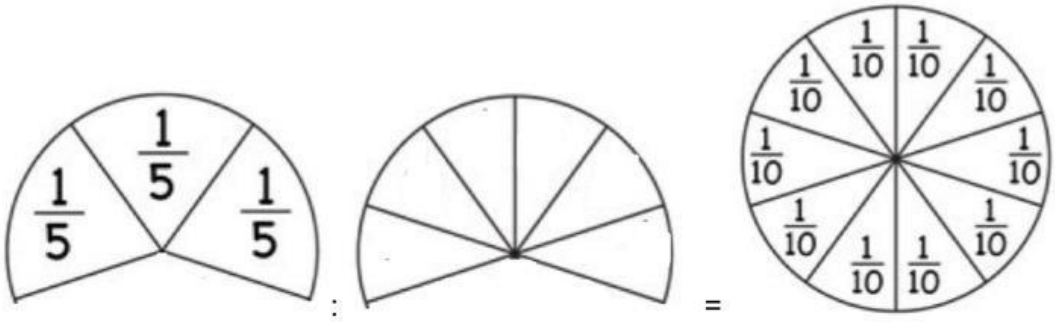

LIVEWORKSHEETS