1



现象：(a) _____

地球从西转向东，太阳仿佛总是

(b) _____。

长

东升西落

夜晚

影子长度和方向的变化

天空中太阳位置的变化

地球自转造成的现象

东

西

白天

昼夜的形成

短

2

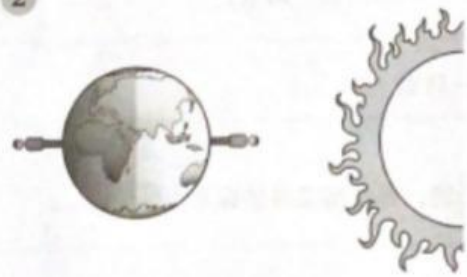

现象：(a) _____

地球没被阳光照射到的地区处于

(b) _____，被阳光照射

到的地区处于 (c) _____。

3



现象：(a) _____

一天里，影子会从 (b) _____ 移

向 (c) _____。从上午到下午，

影子会慢慢变 (d) _____ 再变

(e) _____。

LIVEWORKSHEETS