Bahagian A

[60 markah]

Jawab semua soalan

Masa yang dicadangkan : 45 minit

Soalan 1

Rajah 1(b) menunjukkan logo yang dihasilkan melalui proses pengolahan idea menggunakan subject matter Rajah 1(a).

Rajah 1(a)

Rajah 1(b)

Berikut merupakan langkah proses pengolahan idea yang tidak mengikut urutan.

A	Lakaran lengkap logo singa berserta teks dan warna
B	Lakaran-lakaran kecil objek singa
C	Menjalankan kajian berkaitan subject matter “singa”
D	Salinan imej singa yang asal dalam bentuk kasar yang lebih jelas

Susun langkah kerja proses pengolahan idea mengikut urutan yang betul dengan menulis **A, B, C** dan **D** dalam ruang yang disediakan.

Langkah 1	Langkah 2	Langkah3	Langkah4
C	B	D	A

(4 markah)

Soalan 2

LIVEWORKSHEETS

Jadual 2 menunjukkan penyataan tentang dua jenis grafik digital.

A	• Kualiti gambar tidak terjejas jika saiz dibesarkan • Terbentuk daripada garisan dan lengkungan
B	• Kualiti gambar akan terjejas jika saiz dibesarkan • Terbentuk daripada susunan titik-titik piksel

Jadual 2

Berdasarkan Jadual 2, nyatakan jenis grafik digital yang berlabel:

A: ...VEKTOR.....

B: ....RASTER.....

(2 markah)

Kenalpasti jenis grafik digital di bawah dengan menulis **A** atau **B** pada ruang jawapan yang disediakan.

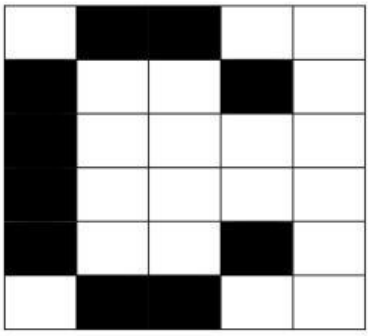

B



A

(2 markah)

Soalan 3

LIVEWORKSHEETS

Jadual 3, menunjukkan jenis muka taip.

San Sarif	Serif	Dekoratif	Script

Jadual 3

Berdasarkan Jadual 3, padankan jenis muka taip dengan fungsi yang betul dengan menulis semula jenis muka taip dalam ruang jawapan.

Fungsi	Ruang Jawapan
Reka Bentuk Grafik Digital	San sarif
Reka Bentuk Grafik Digital	Serif
Reka Bentuk Grafik Digital	Dekoratif
Reka Bentuk Grafik Digital	Script

(4 markah)

Soalan 4

LIVEWORKSHEETS

Jadual 4 menunjukkan bidang reka bentuk grafik.

A	Pembungkusan
B	Pengiklanan
C	Identiti korporat
D	Penerbitan meja

Jadual 4

Berdasarkan Jadual 4, padankan reka bentuk grafik dengan penyataan yang betul dengan menulis **A, B, C, D** atau **E** dalam ruang jawapan.

Pernyataan	Ruang Jawapan
Bidang reka bentuk grafik persembahan atau komunikasi kepada kumpulan sasaran dengan tujuan untuk mempromosi, memperkenal dan melariskan jualan	B
Bidang reka bentuk grafik untuk menghasilkan paparan visual idea dan maklumat bagi rekaan susun atur dokumen menggunakan perisian komputer	D
Bidang reka bentuk grafik untuk melindungi dan memelihara kualiti sesuatu produk semasa dihantar, disimpan atau dipamerkan	A
Bidang reka bentuk grafik untuk menghasilkan satu keselarasan dari pelbagai aspek bertujuan memperjelas tentang syarikat atau organisasi tertentu	C

(4 markah)

Soalan 5

LIVEWORKSHEETS

Sebahagian daripada penyataan di dalam Jadual 5 berkaitan dengan maksud pembungkusan. Berdasarkan Jadual 5, tandakan (√) pada penyataan yang betul tentang maksud pembungkusan dan (X) pada yang tidak berkenaan dalam ruang jawapan.

Pernyataan	Ruang Jawapan
Pembungkusan terdiri daripada pembungkusan Moden sahaja.	X
Sains dan teknologi untuk memelihara kualiti barangan semasa dihantar, disimpan dan dipamerkan.	√
Sebarang bentuk persembahan bersifat tidak peribadi	X
Ditujukan kepada kumpulan sasaran dengan tujuan untuk melariskan jualan sesuatu produk	√

Jadual 5

(4 markah)

Soalan 6

Jadual 6 menunjukkan penyataan tentang bahan promosi

A	Rekaan bahan promosi yang biasa digantung pada tiang lampu di jalan raya secara menegak
B	Rekaan bahan promosi pada sehelai kertas yang biasa diedarkan secara terus kepada pelanggan
C	Rekaan bahan promosi pada struktur tersendiri sama ada di atas tanah atau pada bangunan
D	Rekaan bahan promosi yang biasa digantung pada tiang atau pagar secara melintang

Jadual 6

Berdasarkan Jadual 6, nyatakan nama bagi bahan promosi yang berlabel :

A : .....GEGANTUNG / BUNTING.....

B : .....RISALAH / FLYERS…….....

C : .....POSTER……..…….....

D : .....KAIN RENTANG / BANNER…….....

(4 markah)

Soalan 7

LIVEWORKSHEETS

Jadual 7 menunjukkan empat karya grafik yang mengaplikasikan skema warna yang berbeza-beza. Berdasarkan Jadual 7, nyatakan nama skema warna bagi karya grafik itu dalam ruang jawapan.

Monokromatik Triadic Tetradic Analog

Karya Grafik	Ruang Jawapan

(4 markah)

LIVEWORKSHEETS

Soalan 8

Jalinan adalah kesan yang terdapat pada permukaan sesuatu objek. Merujuk pada gambar yang diberi **anda dikehendaki untuk isikan tempat kosong dengan jawapan Jalinan Tampak atau Jalinan Sentuh pada ruang yang diberikan seperti di bawah.**

SENTUH

SENTUH

TAMPAK

TAMPAK

Contoh : Jalinan sentuh

(4 markah)

LIVEWORKSHEETS

SOALAN 9

Rajah 9 merupakan logo sebuah syarikat catering.



Rajah 9

Berdasarkan Rajah 9, padankan alatan yang sesuai digunakan dengan menulis **A, B, C dan D**.

Alatan	Ruang Jawapan
	
	

(4 markah)

LIVEWORKSHEETS

Soalan 10

Jadual 10 menunjukkan jenis-jenis logo.

A	Pictorial marks
B	Wordmarks
C	Combination

Jadual 2

Berdasarkan Jadual 10, padankan **hanya** 4 logo dan jenis logo yang sesuai dengan menulis **A, B dan C** pada ruang jawapan.

LOGO					
RUANG JAWAPAN	C	A	B	A	C

(4 markah)

Soalan 11

Rajah 11 menunjukkan butang kawalan mod dedahan kamera DSLR.

Rajah 11

Berdasarkan padanan mod dedahan dan fungsinya di bawah, **pilih hanya 4** dan tandakan (√) bagi padanan yang betul.

LIVEWORKSHEETS

Ikon Mod Dedahan	Fungsi	Ruang Jawapan
	Merakam subjek supaya menampakkan ekspresi muka	
	Merakam subjek yang mempunyai Depth of field yang luas	
	Merakam subjek yang bergerak	
	Merakam foto dari jarak dekat sesuai untuk bunga atau subjek alam yang lain	
	Merakam foto potret pada waktu malam	

(5 markah)

LIVEWORKSHEETS

Soalan 12

Jadual 12 menunjukkan rekaan identiti korporat. Kenalpasti dan tuliskan jenis rekaan identity korporat pada ruang jawapan.

Rekaan identiti korporat	Ruang jawapan
	1. …KAD PERNIAGAAN……
	2. …SAMPUL SURAT……
	3. …KEPALA SURAT……
	4. …LABEL PEMBUNGKUSAN…….

Jadual 12

(4 markah)

LIVEWORKSHEETS

Soalan 13

Rajah 13 adalah objek sebelum proses penyuntingan menggunakan fitur gabungan.

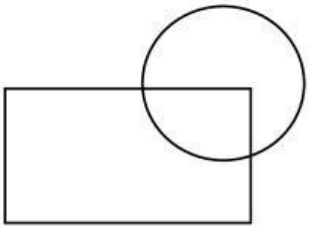

Rajah 13

Berdasarkan Jadual 13 di bawah, nyatakan fitur gabungan yang sesuai dalam ruang jawapan.

Crop / Punch	Divide	Unite / Union	Intersect

Hasil Gabungan	**Ruang Jawapan**
	INTERSECT
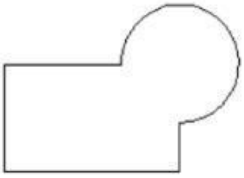	UNION/ UNITE
	CROP / PUNCH
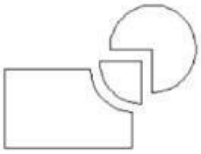	DIVIDE

Jadual 13

(4 markah)

LIVEWORKSHEETS

Soalan 14

Rajah 14 menunjukkan satu karya ilustrasi yang dihasilkan dengan mengaplikasikan prinsip rekaan.

Rajah 14

Berdasarkan Rajah 14, tandakan (√) pada penyataan yang betul bagi prinsip rekaan yang betul .

Penyataan Prinsip Rekaan	**Ruang Jawapan**
Harmoni pada warna pakaian karakter	X
Kontra pada warna belon	/
Penegasan pada mata karakter	X
Pergerakan pada basikal skuter	/

(4 markah)

LIVEWORKSHEETS

Soalan 15

Jadual 15 merupakan penyataan bagi bidang undang-undang perlindungan harta intelek.

Hak Cipta	Paten	Cap Dagangan	Cap Kolektif

Jadual 15

Padankan penyataan bidang undang-undang harta intelek dengan simbol harta intelek dengan menulis semula jawapan pada ruang yang disediakan.

Simbol Harta Intelek	**Jawapan**
©	HAK CIPTA
	PATEN
®	CAP DAGANGAN
	CAP KOLEKTIF

(4 markah)

LIVEWORKSHEETS