UEST
Unidad Educativa
SANTA TERESITA
Instituto de Hermanas Franciscanas
Misioneras de la Inmaculada

EXAMEN
CORRESPONDIENTE AL SEGUNDO QUIMESTRE
ÁREA TÉCNICO PROFESIONAL: COMPUTACIÓN
Período lectivo 2020 - 2021

Nombre del/la estudiante: _____

Curso: INICIAL **Paralelo: "_____"** **Asignatura: Computación**

Nombre del docente: Lic. María Elizabeth Mirabá Zavala.

1.- Seleccionar la imagen de los discos duros de la computadora.

2.- Selecciona los elementos que representan al HARDWARE de la computadora.

LIVEWORKSHEETS

3.- Selecciona los elementos que representan al SOFTWARE de la computadora.

4.- SELECCIONA LA EL ICONO DE PAINT

LIVEWORKSHEETS

5- SELECCIONA LA VENTANA DE PAINT

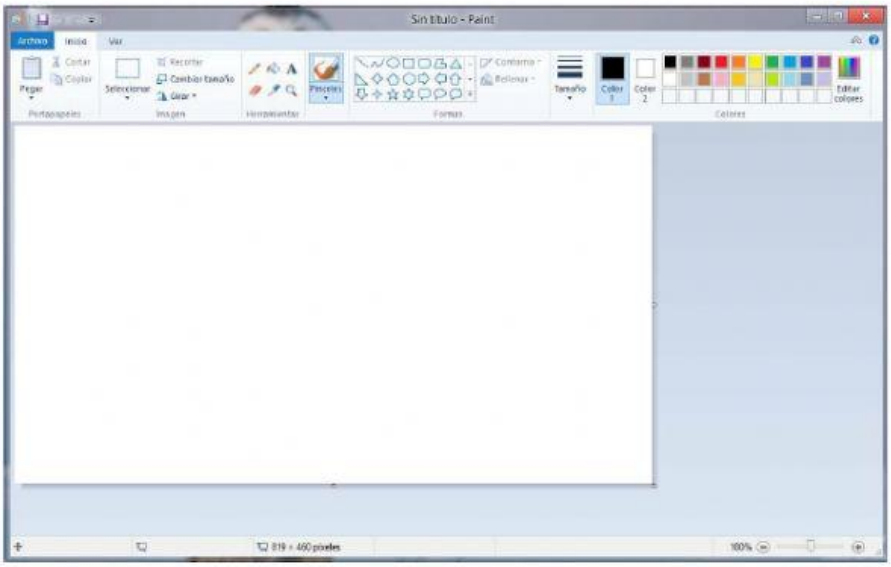

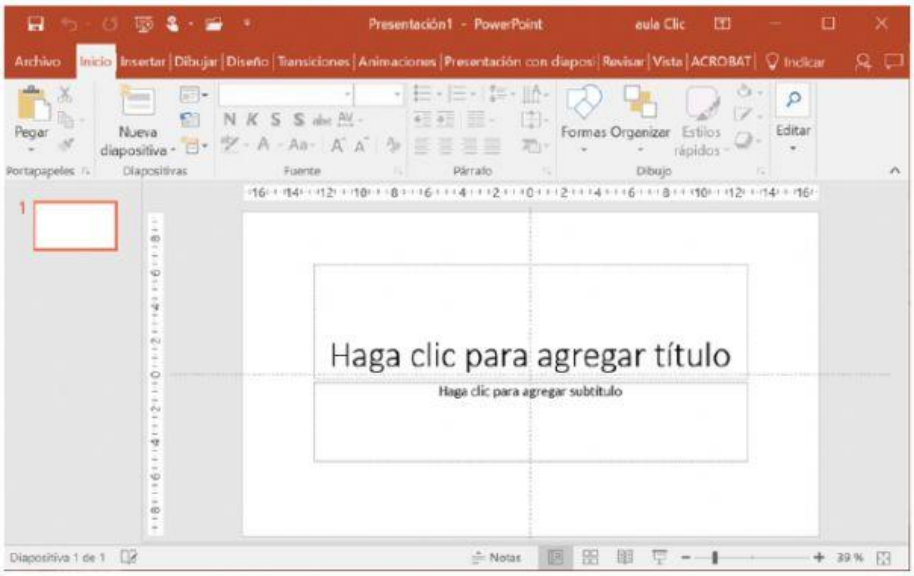

LIVEWORKSHEETS

6.- Relacionar mediante una línea.

La computadora encendida con el foco encendido

La computadora apagada con el foco apagado

LIVEWORKSHEETS

7.- UBICAR LOS ELEMENTOS QUE ENCUENTRAS EN LA VENTANA DE PAINT.

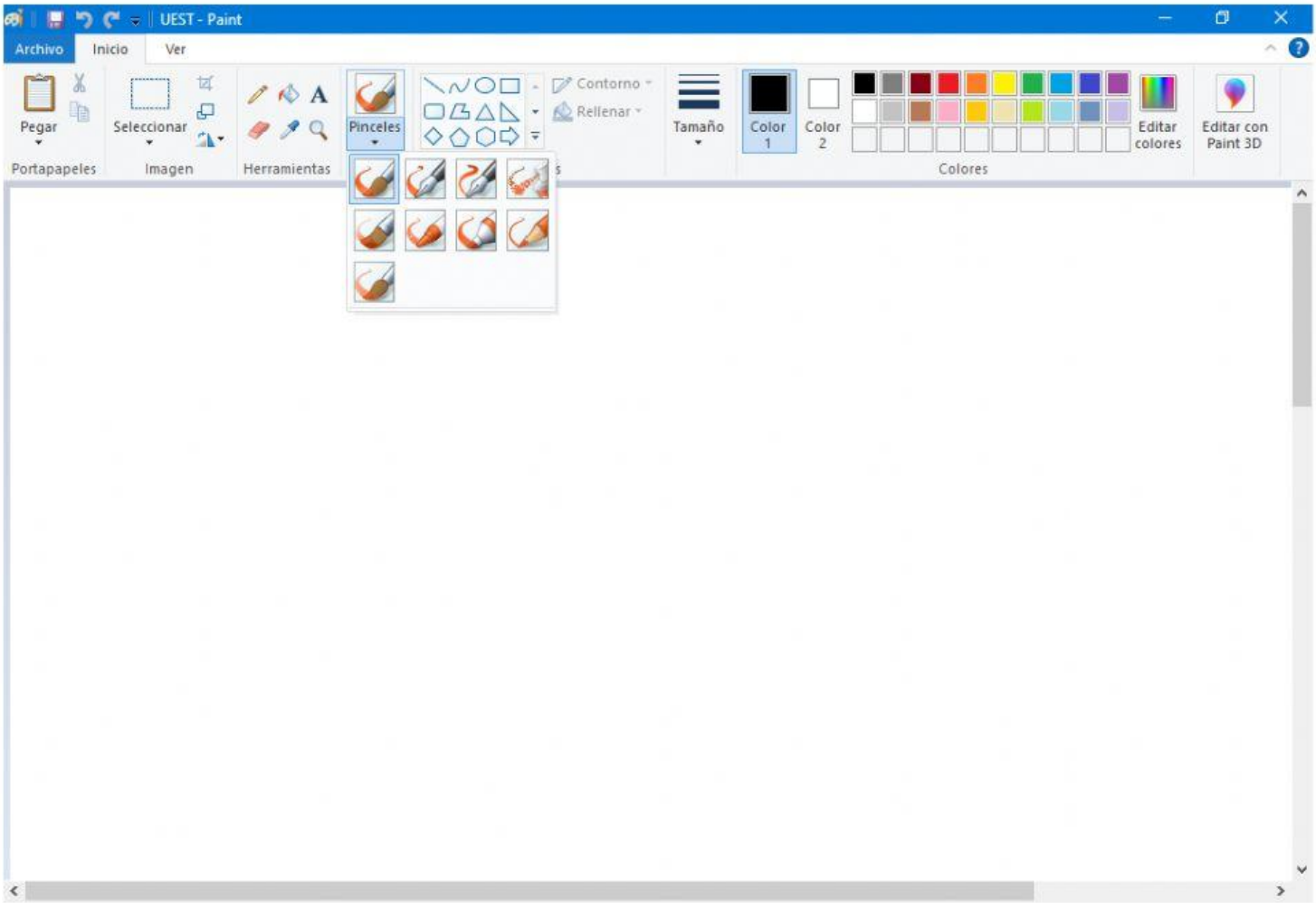

FRATERNALMENTE.
Lic. María Elizabeth Mirabá Zavala.
Docente.

LIVEWORKSHEETS