Tên: _____ Lớp: ____

ĐÁP ÁN

PHIẾU ÔN TẬP TOÁN

LỚP 4 – TUẦN 3

Một ngày làm

SHIPPER

Hôm nay, chúng ta sẽ cùng đi giao hàng cho khách.
Bạn hãy giúp mình chọn đúng kiện hàng nhé!

Nhiệm vụ 1: Đúng ghi Đ, sai ghi S vào ô trống.

a) 50 472 = 50 000 + 400 + 70 + 2 ☐

b) Số liền sau của 13 409 là 13 408 ☐

c) Một số khi cộng với 0 thì bằng chính số đó. ☐

d) Một số khi nhân với 0 thì bằng chính số đó. ☐

e) Chỉ có các số 1, 3, 5, 7, 9 là các số lẻ. ☐

Các kiện hàng cần giao đã được chuẩn bị ở đây.
Chúng ta cùng xếp chúng vào thùng giao hàng để chuẩn bị đi giao nhé!

Nhiệm vụ 2: Giải bài toán sau.

Xếp đều 32 kiện hàng vào 4 cái thùng. Hỏi 6 cái thùng như thế chứa được bao nhiêu kiện hàng?

Bài giải

LIVEWORKSHEETS

Thùng giao hàng đã sẵn sàng.
Chúng ta cùng xác nhận lại địa chỉ giao hàng trước khi giao nhé!

Nhiệm vụ 3: Đặt tính rồi tính.

38 624 + 2 317

22 905 - 761

1 307 x 9

4 926 : 5

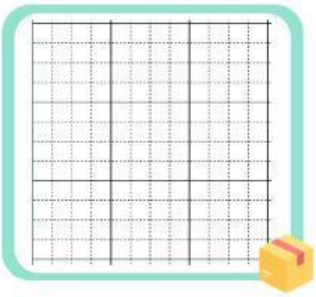



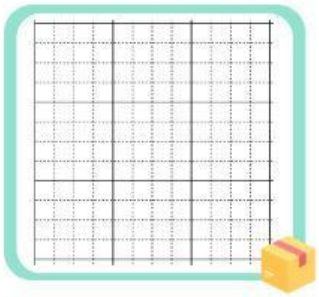



Một số kiện hàng chưa có địa chỉ. Bạn hãy tìm và ghi lại địa chỉ nhé!

Nhiệm vụ 4: Giải bài toán sau.

Rót hết 24 *l* sữa vào 6 can giống nhau. Hỏi 4 can như thế đựng được bao nhiêu lít sữa?

Tóm tắt

6 can: 24 *l*

.....

4 can: ... *l* ?

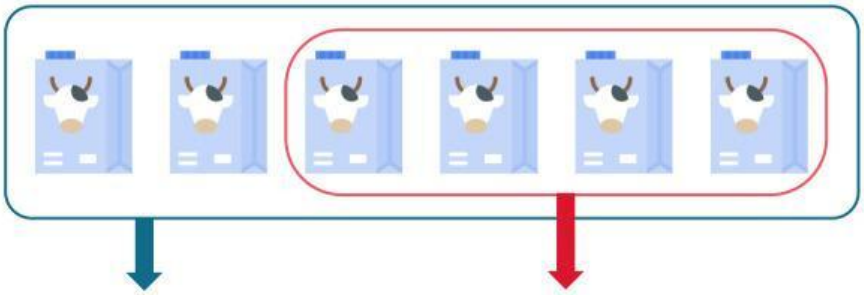

24 *l*

.?. *l*

Bài giải



LIVEWORKSHEETS

Chuẩn bị xong rồi, chúng ta bắt đầu đi giao hàng thôi nào!

Nhiệm vụ 5: Giải bài toán sau.

Tại một xưởng gạch, người ta xếp đều 2 135 viên gạch vào 7 xe để vận chuyển đến công trình. Hỏi 5 xe như vậy chở được bao nhiêu viên gạch?

Bài giải

Trên đường giao hàng, có một số địa điểm mình không biết đường. Bạn hãy tìm đường và giao hàng đến đúng nơi nhé!

Nhiệm vụ 6:
Tô màu vàng vào kiện hàng chứa số chia hết cho 2
Tô màu tím vào kiện hàng chứa số chia hết cho 9

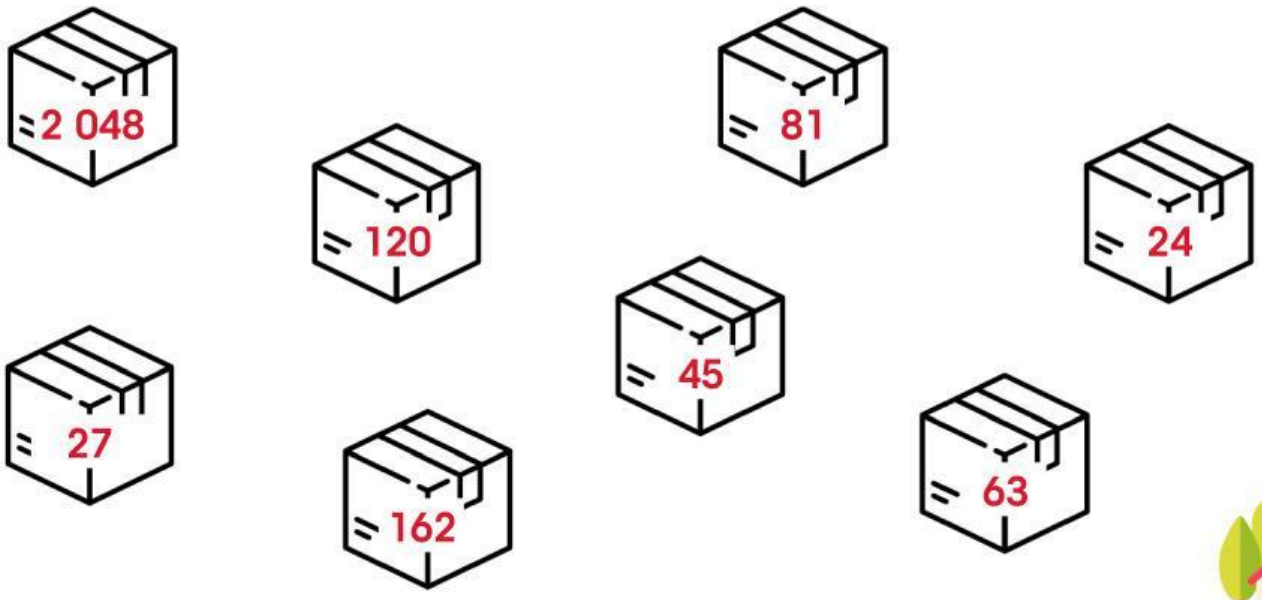

LIVEWORKSHEETS

Cùng kiểm tra xem chúng ta còn phải giao bao nhiêu kiện hàng nữa.

Nhiệm vụ 7: Tô màu vào $\frac{1}{2}$ số đồ vật của mỗi hình sau rồi điền vào chỗ chấm.



$\frac{1}{2}$ số cây dù là ..... cây dù.



$\frac{1}{2}$ số quyển sách là ..... quyển sách.

Còn vài kiện hàng cuối thôi.
Chúng ta cùng nhau giao cho khách nhé!

Nhiệm vụ 8: Giải bài toán theo tóm tắt sau.

Giá tiền mỗi túi kẹo như nhau.

Tóm tắt

3 túi kẹo: 45 000 đồng

5 túi kẹo: ... đồng?

Bài giải

Bạn hãy đánh giá phần làm bài của mình

Tốt | Bình thường | Cần cố gắng

LIVEWORKSHEETS