Họ và tên: _____ Lớp: _____

ĐÁP ÁN

PHIẾU ÔN TẬP TOÁN

LỚP 4 – TUẦN 4

Hôm nay, mình về quê thăm bà. Cùng mình tìm ra chiếc xe ô tô mang số 134 để về nhà bà nhé!

Nhiệm vụ 1: Tính giá trị của biểu thức.

$320 - 40 + 369$

$248 : 4 \times 5$

$50 + 48 \times 7$

$938 : (235 - 228)$

Nhà bà có một vườn cam. Hãy cùng mình tính số cây cam có trong vườn của bà nào!

Nhiệm vụ 2: Chọn đáp án đúng.

2 hàng có 12 cây cam. Hỏi 10 hàng như thế có bao nhiêu cây cam?

A. 30 cây cam

B. 40 cây cam

C. 50 cây cam

D. 60 cây cam

LIVEWORKSHEETS

Bà có nuôi một đàn gà và một đàn vịt. Cùng mình tính số gà và vịt được nuôi ở nhà bà nhé!

Nhiệm vụ 3: Viết biểu thức để tính số con vật trong tranh.



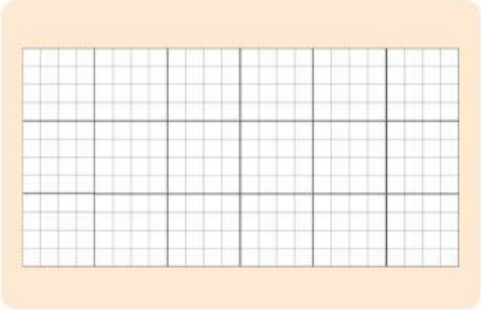

Chúng mình cùng giúp bà mua thêm nguyên liệu để làm bánh nào!

Nhiệm vụ 4: Số?

20 hộp sữa: 5 lốc
..... hộp sữa: 1 lốc
16 hộp sữa: ..... lốc

36 quả trứng: 6 vỉ
..... quả trứng: 1 vỉ
12 quả trứng: ..... vỉ

Mình và bà đã làm bánh xong. Cùng mình giúp bà chia bánh vào hộp để biếu họ hàng nhé!

Nhiệm vụ 5: Giải bài toán theo tóm tắt sau.

Tóm tắt

24 cái bánh: 4 hộp

72 cái bánh: ... hộp?

Bài giải

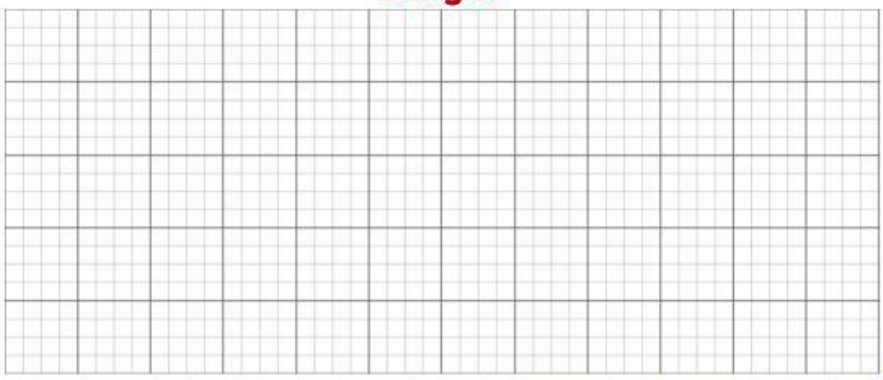

LIVEWORKSHEETS

Cùng mình tính số tiền đã mua thêm nguyên liệu để làm bánh nhé!

Nhiệm vụ 6: Giải bài toán sau.

My ra chợ để mua nguyên liệu làm bánh. My mua 4 lốc sữa và 2 vỉ trứng. Mỗi lốc sữa có giá 32 000 đồng, mỗi vỉ trứng có giá 24 000 đồng. Hỏi My đã mua cả sữa và trứng hết bao nhiêu tiền?

Bài giải

Không biết mình còn lại bao nhiêu tiền sau khi mua nguyên liệu nhỉ? Cùng mình tính số tiền thừa khi mua nguyên liệu nhé!

Nhiệm vụ 7: Chọn đáp án đúng.

My dùng 1 tờ tiền 200 000 đồng để mua số sữa và trứng ở nhiệm vụ 5. Như vậy, người bán hàng sẽ trả lại My bao nhiêu tiền?

A. 14 000 đồng

B. 24 000 đồng

C. 16 000 đồng

D. 26 000 đồng

LIVEWORKSHEETS

Mình sẽ mang bánh đến nhà cô An. Cùng mình tìm độ dài quãng đường từ nhà bà đến nhà cô An nhé!

Nhiệm vụ 8: Chọn ý trả lời đúng.

Để đi từ nhà bà đến nhà cô An, My phải đi qua cửa hàng tạp hóa. Quãng đường từ nhà bà đến cửa hàng tạp hóa dài 400 m và ngắn hơn quãng đường từ cửa hàng tạp hóa đến nhà cô An là 200 m.

Quãng đường từ nhà bà đến nhà cô An:

A. Ngắn hơn 1 km.
B. Bằng 1 km
C. Dài hơn 1 km nhưng ngắn hơn 2 km.
D. Dài hơn 2 km.

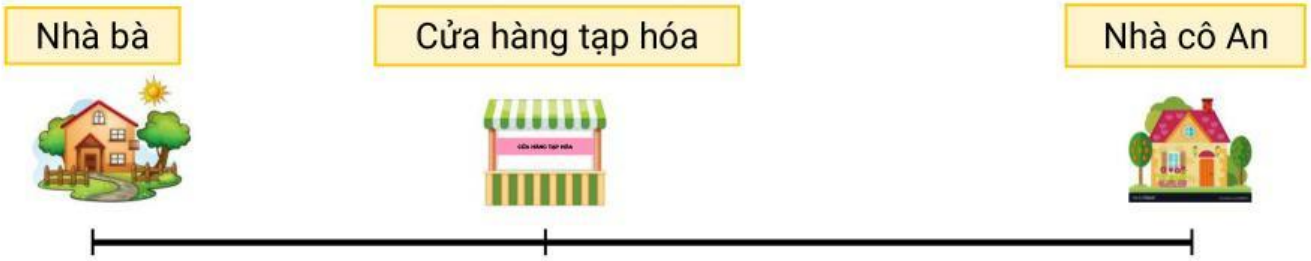

Mình được mọi người ở quê tặng một ít trái cây để mang về thành phố. Cùng mình tính số quả mà mình nhận được nào!

Nhiệm vụ 9: Hoàn thành bảng sau.

	Tên quả	Số lượng (thùng)	Số quả trong mỗi thùng (quả)	Số quả
	Cam	2	30	.....
	Bưởi	5	10	.....
Tổng cộng: ..... quả				

Bạn hãy đánh giá phần làm bài của mình

☐ Tốt ☐ Bình thường ☐ Cần cố gắng

LIVEWORKSHEETS