1. Олон тооны аминхүчлүүд өөр хоорондоо карбоксил бүлэг, амин бүлгээрээ холбогдож полипептид холбоо үүсгэсэн макромолекулыг _____ гэнэ.
2. Доорх зургийг ажиглаад уургийн бүтцийг зөв харгалзуулаарай

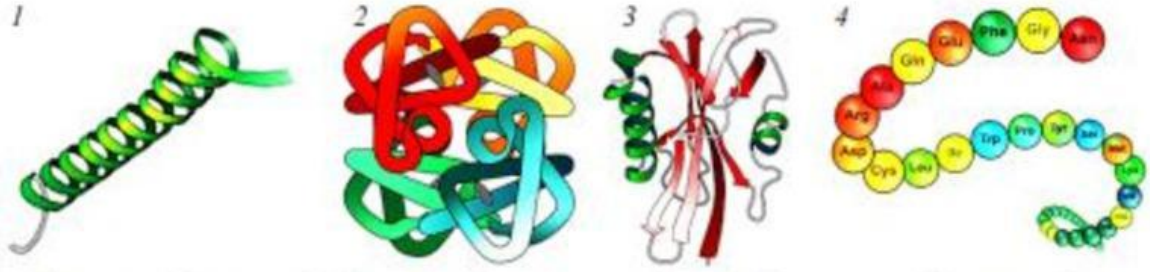

а. Дөрөвдөгч бүтэц б. Хоёрдогч бүтэц в. Анхдагч бүтэц г. Гуравдагч бүтэц

а. 1б, 2г, 3а, 4в б. 1а, 2б, 3в, 4г в. 1г, 2б, 3а, 4в г. 1б, 2а, 3г, 4в

3. Их хэмжээний дулаан ялгаруулж, задрах шинж нь уургийн биологийн ямар үүрэг вэ?

а. Бүтцийн үүрэг б. Энергийн үүрэг в. Каталитик үүрэг

г. Хамгаалах үүрэг д. Зохицуулах е. Удамшил дамжуулах

4. Полипептед холбоо аль нь вэ ?

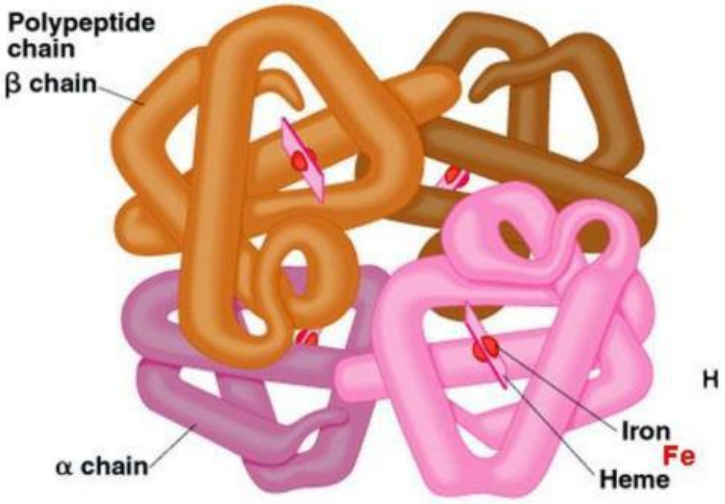

Hemoglobin

LIVEWORKSHEETS

5. Доорх үгсийг байрлуулна уу? (анхдагч бүтэц , аминхүчлийн үлдэгдэл , ороомог , полипептид гинж , хоёрдогч бүтэц , гуравдагч бүтэц)

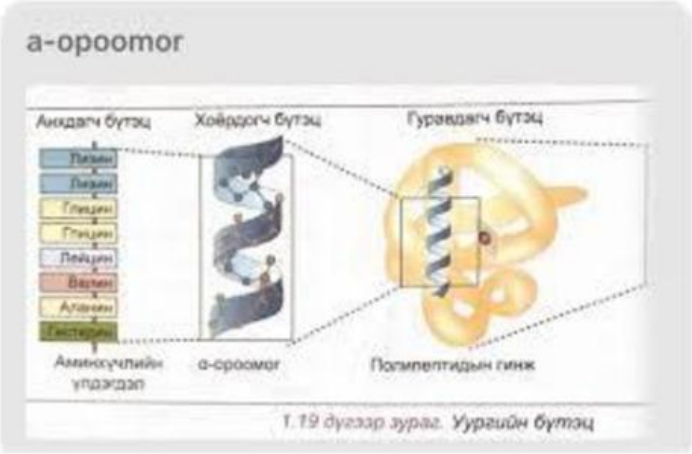

6. Уураг нь эсийг хүчилтөрөгчөөр хангах, нүүрсхүчлийн хийг зайлуулах шинж нь биологийн ямар үүрэг вэ?

а. Бүтцийн үүрэг б. Энергийн үүрэг в. Каталитик үүрэг

г. Хамгаалах үүрэг д. Зохицуулах е. Удамшил дамжуулах

7. Доорх үгсийг байрлуулна уу? (ионы холбоо , устөрөгчийн холбоо , дисульфидын холбоо , полипептидийн гинж)

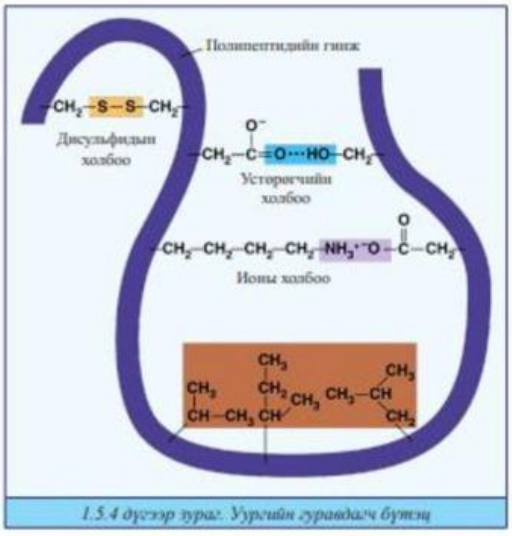

LIVEWORKSHEETS