1- Escribe la fracción y el número decimal que corresponde a la parte de color.



Fracción: /

Número decimal:



Fracción: /

Número decimal:

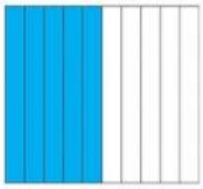

Fracción: /

Número decimal:



Fracción: /

Número decimal:

2- Escribe en forma de fracción y de número decimal.

- 345 milésimas =
- 56 centésimas =
- 4 décimas =
- 98 centésimas =
- 672 milésimas =
- 8 décimas =

3 - Completa la tabla.

Unidades decimales		754 milésimas		
Fracción	4/100	/	/	6/1.000
Decimal			0,05	

4- Ordena de mayor a menor los siguientes números.

6,78 7,98 5,65 34,3 6,723 5,7 34,24

> > > > > >

LIVEWORKSHEETS

5- Ordena de menor a mayor los siguientes números.

23,56 2,456 31,34 23,7 31,5 2,8 4,69

< < < < < <

6- Descompón los siguientes números como en el ejemplo.

- 2,45 = 2 U + 4 d + 5 c
- 4,231 = 4 + 2 + 3 + 1
- 45,01= 4 + 5 + 0 + 1
- 23,6 = 2 + 3 + 6

7- Aproxima cada número decimal al orden indicado.

A las centésimas	A las unidades	A las décimas
3,234 =	8,3 =	18,31 =
21,135 =	7,9 =	5,87 =

8- Calcula las operaciones en una hoja y escribe el resultado.

34,56 + 56,751 =

345,9 - 23,46 =

678,4 + 4,32 =

45,67 - 3,31 =

LIVEWORKSHEETS