Lembar Kerja Peserta Didik

LKPD

Sistem Pernapasan Pada Manusia

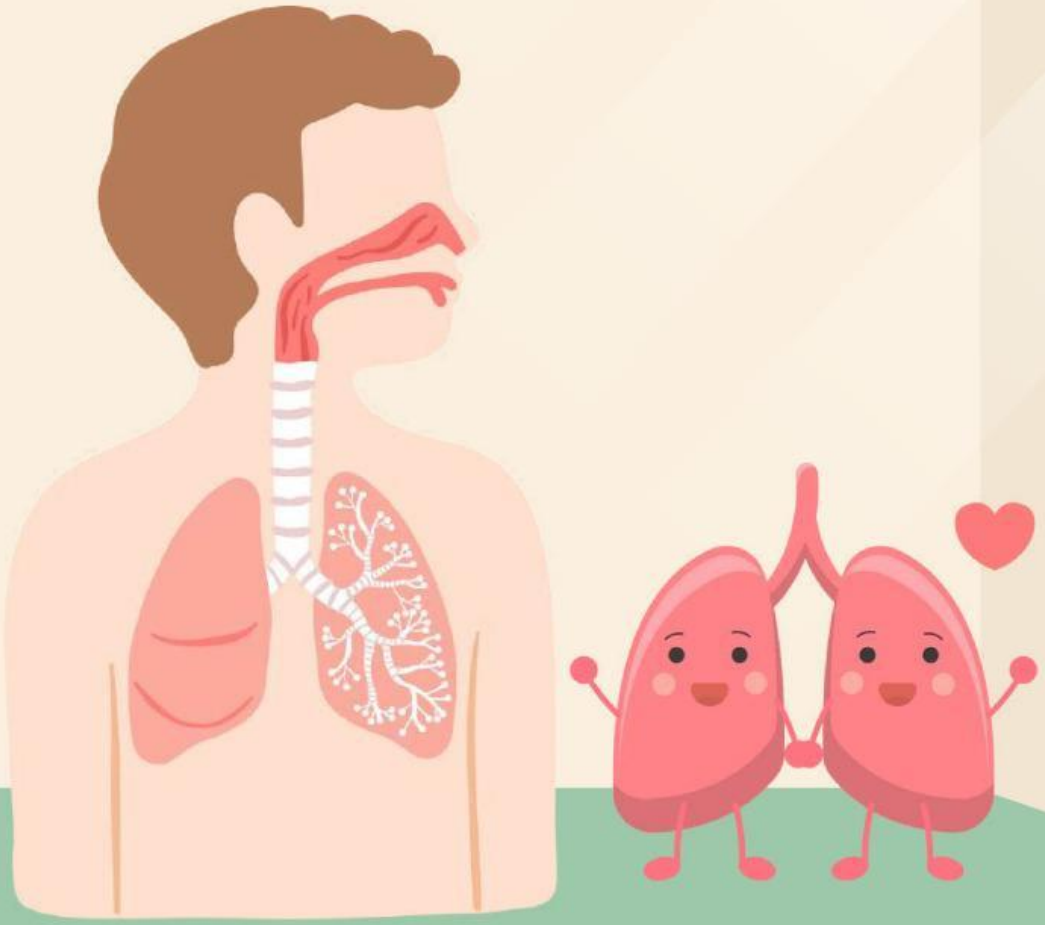

Nama : .....

Kelas : .....

LIVEWORKSHEETS

SISTEM PERNAPASAN PADA MANUSIA



LIVEWORKSHEETS

Bagian-Bagian Sistem Pernapasan

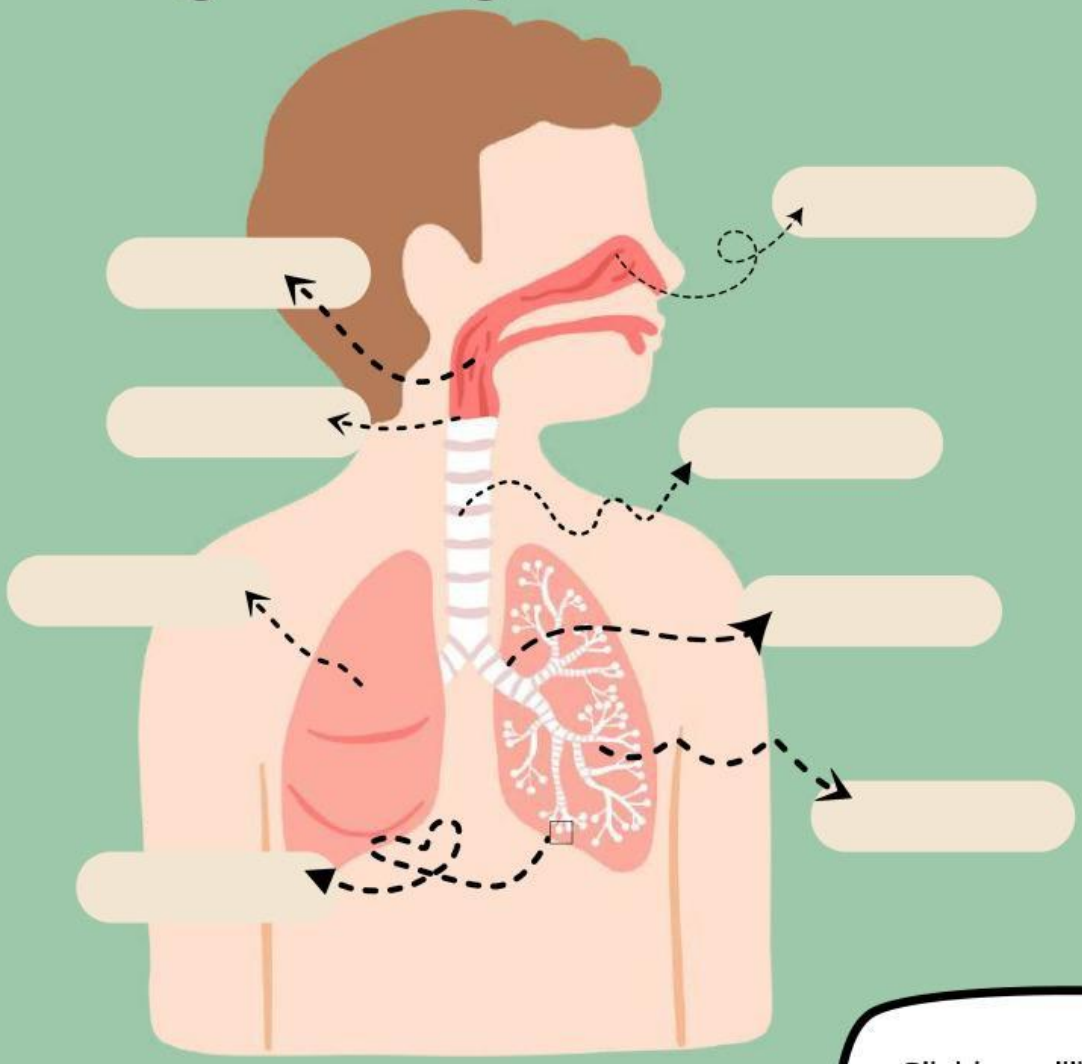

Silahkan pilih lalu geser jawaban yang benar sesuai posisi

Paru-Paru

Bronkus

Laring

Bronkiolus

Trakea

Hidung

Alveolus

Trakea

LIVEWORKSHEETS

Fungsi Bagian-Bagian Pada Sistem Pernafasan Manusia

No	Gambar	Berfungsi
1.	Nama Organ :	
2.	Nama Organ :	
3.	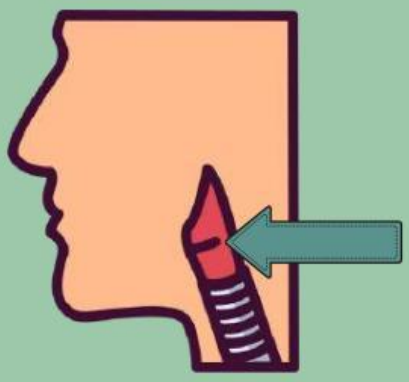 Nama Organ :	

LIVEWORKSHEETS

4.	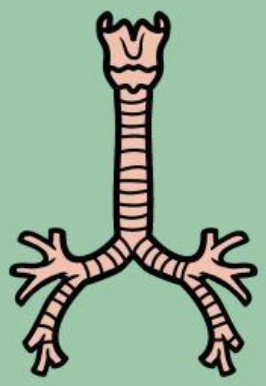 Nama Organ :	
5.	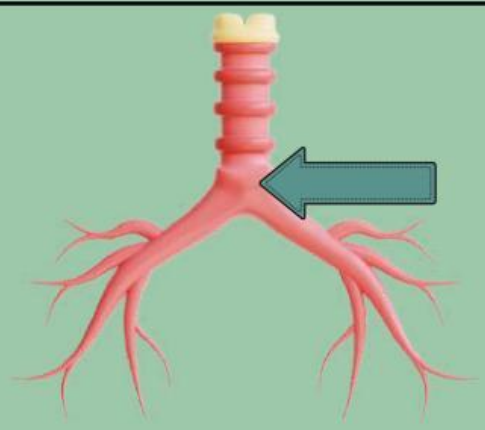 Nama Organ :	
6.	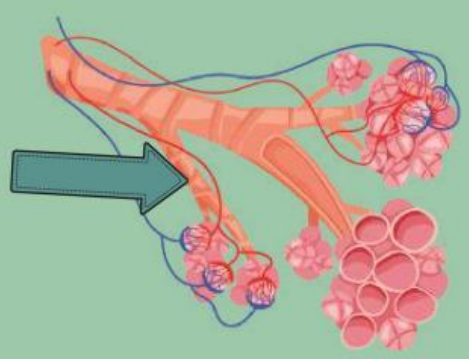 Nama Organ :	
7.	 Nama Organ :	

LIVEWORKSHEETS

Ciri-Ciri Pernapasan Dada dan Perut

Jenis	Gambar	Ciri-Ciri
Inspirasi		
Ekspirasi		

- Otot diafragma berkontraksi
- Tekanan udara paru-paru besar
- Ronga dada mengembang
- udara keluar
- Rongga dada mengecil
- Tekanan udara paru-paru kecil
- Udara Masuk
- Tulang rusuk relaksasi

Silahkan geser ciri-ciri yang tersedia sesuai jenisnya

LIVEWORKSHEETS

Ciri-Ciri Pernapasan Dada dan Perut

Jenis	Gambar	Ciri-Ciri
Inspirasi		
Ekspirasi		

- Otot diafragma berkontraksi
- Otot diafragma relaksasi
- Diafragma mendatar
- Tekanan rongga dada kecil
- Vol. rongga dada membesar
- Diafragma melengkung
- Udara Masuk
- Udara Keluar
- Tekanan rongga dada besar
- Vol. rongga dada mengacil

Silahkan geser ciri-ciri yang tersedia sesuai jenisnya

LIVEWORKSHEETS

LIVEWORKSHEETS

Penyakit Pada Sistem Pernapasan Manusia

Influenza	Timbul rasa sakit di dada disertai batuk dengan suhu badan tinggi
TBC (Tuberkolosis)	Sakit kepala, rasa ngilupada sendi, demam, sering bersin, batuk, pilek dan kadang di sertai muntah
Bronkitis	Radang paru-paru akut yang menyerang tiba-tiba
Pneumonia	Penyakit menular yang disebabkan oleh bakteri Mycobacterium tuberculosis

LIVEWORKSHEETS