KURIKULUM MERDEKA

LKPD EKONOMI "KONSEP PERMINTAAN"

UNTUK SMA KELAS X

KELAS : _____

NAMA : _____

LIVEWORKSHEETS

PETUNJUK PENGGUNAAN E-LKPD

- Pastikan bahwa koneksi internet kalian stabil agar tidak ada kendala dalam menjawab soal.
- sebelum mengerjakan E-LKPD ini, seluruh siswa diwajibkan untuk mengisi identitas diri pada kolom yang disediakan.
- Pelajari materi konsep permintaan dengan baik untuk menjawab setiap pertanyaan yang diberikan.
- Perhatikanlah setiap petunjuk pengerjaan soal pada masing-masing jenis soal
  Kerjakan setiap soal dengan baik dan benar.
- Setelah selesai mengerjakan seluruh soal, klik *finish*

LIVEWORKSHEETS

LEMBAR KERJA PESERTA DIDIK

A. Identitas E-LKPD

Mata Pelajaran	: Ekonomi
Kelas/Semester	: X / Ganjil
Alokasi Waktu	: 2 X 3 JP
Judul Materi E-LKPD	: Konsep Permintaan

A. Capaian Pembelajaran

Pada akhir fase e, Peserta didik memahami konsep keseimbangan pasar serta memahami pemodelannya dalam bentuk tabel dan kurva

B. Tujuan Pembelajaran

Peserta didik mampu memahami konsep keseimbangan pasar serta memahami pemodelannya dalam bentuk tabel dan kurva

c. Alur Tujuan Pembelajaran

1. Mampu menjelaskan pengertian permintaan
2. Mampu menjelaskan faktor-faktor yang mempengaruhi permintaan.
3. Mampu menjelaskan fungsi permintaan
4. Mampu menjelaskan hukum permintaan serta asumsi-asumsinya.
5. Mampu menggambarkan kurva permintaan

...

LIVEWORKSHEETS

1. PERHATIKAN VIDEO MATERI BERIKUT!

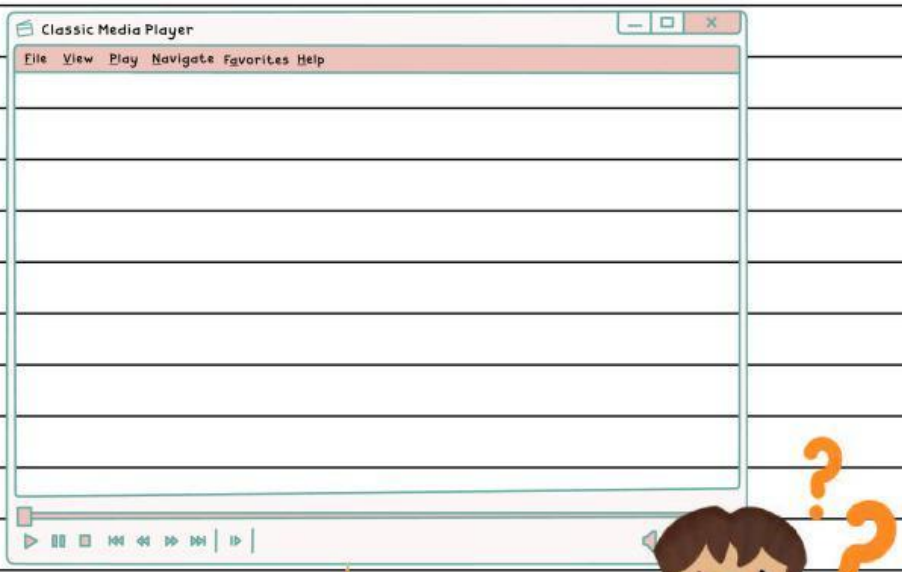

setelah menyimak video di atas, kalian dapat mengetahui tentang materi permintaan. selebihnya kalian dapat membaca ringkasan materi dibawah ini agar dapat lebih memahami tentang permintaan ekonomi



LIVEWORKSHEETS

II. BACALAH RINGKASAN MATERI BERIKUT!

A. KONSEP PERMINTAAN

1. Pengertian Permintaan

Permintaan (demand) dalam konteks ekonomi adalah keinginan dan kemampuan konsumen untuk membeli barang dan jasa pada berbagai tingkat harga selama periode waktu tertentu. Dalam arti ekonomi, permintaan (demand) adalah jumlah keseluruhan barang dan jasa yang ingin dibeli oleh konsumen pada berbagai macam tingkat harga.

2. Faktor-faktor yang Mempengaruhi Permintaan

1. Pendapatn
2. Hrga Barang Pengganti
3. Harga Barang Komplementer
4. Selera
5. Ekspetasi
6. Jumlah Komplemnter

3. Fungsi Permintaan

Fungsi permintaan merupakan suatu fungsi yang memperlihatkan hubungan antara jumlah barang yang diminta konsumen dengan harga barang dan faktor-faktor yang mempengaruhinya. Rumus nya berikut:

$$P = a - bQ \text{ atau } Q = a - bP$$

4. Hukum Permintaan (*Law Of Demand*)

Menyatakan bahwa, ceteris paribus (dengan asumsi faktor-faktor lain tetap), ketika harga suatu barang atau jasa naik, jumlah yang diminta akan turun, dan sebaliknya. Selain itu, juga menyatakan bahwa "Semakin turun tingkat harga, maka semakin banyak jumlah barang yang tersedia diminta, dan sebaliknya semakin naik tingkat harga semakin sedikit jumlah barang yang bersedia diminta"

LIVEWORKSHEETS

II. BACALAH RINGKASAN MATERI BERIKUT!

A. KONSEP PERMINTAAN

5. Kurva Permintaan

Kurva Permintaan: Grafik yang menunjukkan hubungan antara harga dan jumlah barang yang diminta. Kurva ini biasanya memiliki kemiringan negatif, mencerminkan hukum permintaan.

Kurva permintaan (demand curve) adalah kurva yang menggambarkan hubungan antara harga dengan jumlah barang yang diminta. Sesuai dengan hukum permintaan, maka bentuk kurva permintaan melereng dari kiri atas ke kanan bawah atau dari kanan bawah ke kiri atas. Berikut dibawah ini terdapat contoh soal :

Contoh Soal

Tabel permintaan dan penawaran

P	Q_d	Q_s
250	10	40
255	20	35

Berdasarkan tabel diatas, hitunglah fungsi Q_d dan Q_s !

Jawab :

Rumus fungsi Q_d dan Q_s = $\frac{P - P1}{P_2 - P_1} = \frac{Q - Q1}{Q_2 - Q1}$

$Q_d = \frac{P - 250}{255 - 250} = \frac{Q - 10}{20 - 10}$

$Q_d = 5Q - 50 = 10P - 2500$

$5Q = 10P - 2500 + 50$

$Q = \frac{10P - 2450}{5}$

$Q_s = \frac{P - 250}{255 - 250} = \frac{Q - 10}{34 - 40}$

$Q_s = 5Q - 200 = -5P + 1250$

$5Q = -5P + 1250 + 200$

$Q = \frac{-5P + 1450}{5}$

untuk lebih memahami contoh soal diatas, kalian dapat menyimak video trik mengerjakan soal ekonomi dengan mudah disamping ini!

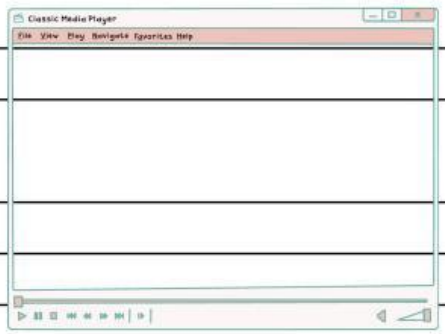

LIVEWORKSHEETS

AKTIVITAS 1

LEMBAR KERJA PESERTA DIDIK

A. SOAL PILIHAN GANDA

Petunjuk mengerjakan tugas:

1. Bacalah dan cermatilah setiap pertanyaan
2. Lalu pilihlah jawaban a, b, c, d, atau e yang benar.

.1. **Ketersediaan penjual untuk menjual berbagai barang pada berbagai tingkat harga dalam waktu tertentu disebut . . .**

a. Kebutuhan
b. Jual beli
c. Permintaan
d. Penawaran
e. Harga keseimbangan

2. Berikut ini merupakan bentuk kurva . . . . . .

a. Kurva permintaan
b. kurva keseimbangan
c. kurva elastisitas
d. kurva Penawaran
e. Harga keseimbangan

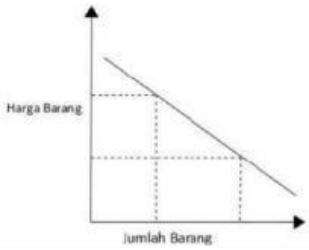

3. Salah satu faktor penentu permintaan yang dominan adalah . .

a. Jumlah penduduk
b. Barang substitusi
c. Harga
d. Selera masyarakat
e. Pendapatan

4. Harga barang berbanding terbalik dengan jumlah barang yang diminta disebut .....

a. Permintaan
b. Penawaran
c. Skala Penawaran
d. Hukum Permintaan
e. Hukum Penawaran

LIVEWORKSHEETS

AKTIVITAS I

LEMBAR KERJA PESERTA DIDIK

A. SOAL PILIHAN GANDA

Petunjuk mengerjakan tugas:

1. Bacalah dan cermatilah setiap pertanyaan
2. Lalu pilihlah jawaban a, b, c, d, atau e yang benar.

5. **Berdasarkan hukum permintaan, apabila harga bensin naik, maka permintaan terhadap kendaraan bermotor cenderung . . .**

a. Naik
b. Berubah-ubah
c. Tidak bisa diperkirakan
d. Turun
e. Tetap

6. Jika fungsi permintaan adalah Qd = 250 – 0,5 P sedangkan harga barang Rp 150,00 per unit, maka jumlah barang yang diminta adalah . . .

a. 75 unit
b. 100 unit
c. 150 unit
d. 175 unit
e. 200 unit

7. Dilihat dari sisi permintaan, faktor yang memengaruhi permintaan kelapa muda pada ilustrasi di atas adalah . . .

a. harga air kelapa muda
b. harga minuman lain mahal
c. sebagai obat virus Covid-19
d. Kandungan kelapa muda

LIVEWORKSHEETS

AKTIVITAS I

LEMBAR KERJA PESERTA DIDIK

A. SOAL PILIHAN GANDA

Petunjuk mengerjakan tugas:

1. Bacalah dan cermatilah setiap pertanyaan
2. Lalu pilihlah jawaban a, b, c, d, atau e yang benar

8. Faktor mana yang tidak mempengaruhi tingkat permintaan suatu barang?

A. Harga barang
B. Biaya produksi
C. Tingkat pendapatan
D. Selera

9. Faktor yang paling dominan dalam mempengaruhi permintaan suatu barang atau jasa adalah...

A. Harga barang itu sendiri
B. Ketersediaan teknologi
C. Iklim dan cuaca
D. Jumlah produsen di pasar

10.Diketahui fungsi permintaan suatu barang adalah Qd=50−2PQ_d = 50 - 2PQd=50−2P, di mana QdQ_dQd adalah jumlah barang yang diminta, dan PPP adalah harga barang. Jika harga barang adalah Rp10, berapakah jumlah barang yang diminta?

A. 30
B. 40
C. 20
D. 10

LIVEWORKSHEETS

AKTIVITAS 2

LEMBAR KERJA PESERTA DIDIK

B. SOAL ESSAY

Petunjuk mengerjakan tugas:

1. Bacalah dan cermatilah setiap pernyataan dan jawablah dengan tepat dan benar.

Air kelapa muda menyehatkan bagi tubuh. Air kelapa muda sebagai obat Covid-19 yang menjadikannya viral belakangan ini. Bahkan disebut mampu menetralisir virus Corona yang alami. Pada saat ini, konsumsi masyarakat terhadap air kelapa muda memang lebih banyak. Hal ini sangat menguntungkan bagi para pedagang kelapa muda. Di sisi yang lain, banyaknya permintaan kelapa muda oleh pedagang kelapa muda justru membuat pemasok kelapa muda menaikkan harga jualnya. Sehingga harga jual eceran kelapa muda menjadi lebih mahal dibanding biasanya. Namun, hal tersebut justru tidak membuat tingkat konsumsi masyarakat untuk membeli air kelapa menurun.

1. Dilihat dari sisi penawaran, dampak dari ilustrasi di atas mengakibatkan jumlah penawaran kelapa mengalami . . . . . .disebabkan oleh harga kelapa muda yang . . . . . .

2. Di masa pandemi ini banyak pengusaha yang mengalami kerugian disebabkan daya beli masyarakat yang mengalami penurunan. Akibatnya, pengusaha terpaksa melakukan pemutusan hubungan kerja (PHK) untuk mengurangi biaya operasional perusahaan. Dengan bertambahnya pengangguran maka jumlah penduduk miskin di Indonesia juga bertambah. Dampak dari ilustrasi di atas mengakibatkan jumlah permintaan masyarakat mengalami . . . . . disebabkan oleh pendapatan masyarakat . . . . . .

LIVEWORKSHEETS

AKTIVITAS 2

LEMBAR KERJA PESERTA DIDIK

B. SOAL ESSAY

Petunjuk mengerjakan tugas:

1. Bacalah dan cermatilah setiap pernyataan dan jawablah dengan tepat dan benar.

Perhatikan tabel permintaan dan penawaran daging di pasar sebagai berikut:

Harga (Rp)	Jumlah permintaan (kg)	Jumlah penawaran (kg)
30.000	50	60
40.000	30	65

3. Apa yang terjadi pada jumlah permintaan ketika harga daging naik dari Rp 30.000 ke Rp 40.000.. .....

4. dibawah ini adalah faktor-faktor yang mempengaruhi tingkat permintaan barang :

1) harga barang 3) selelra 5) tingkat pendapatan

2) biaya produksi 4) teknologi

faktor-faktor yang mempengaruhi tingkat permintaan adalah.....

.....

5. Bagaimana hukum permintaan bekerja dalam situasi di mana harga barang naik? Berikan contoh nyata!.....

LIVEWORKSHEETS

AKTIVITAS 3

LEMBAR KERJA PESERTA DIDIK

C. SOAL MENJODOHKAN

Petunjuk mengerjakan tugas:

1. Jodohkan gambar kurva berikut ini dengan namanya yang sesuai dengan cara menarik garis penghubung

1.

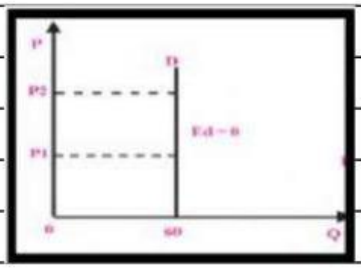

PERMINTAAN INELASTIS

2.

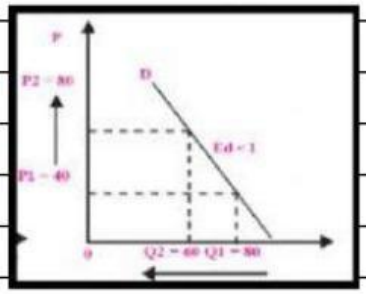

PERMINTAAN ELASTIS UNITER

3.

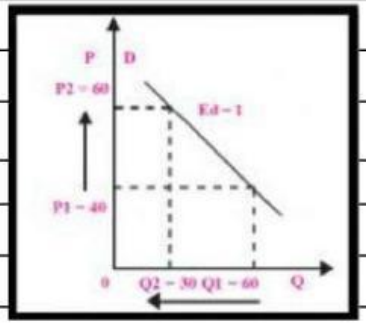

PERMINTAAN ELASTIS

4.

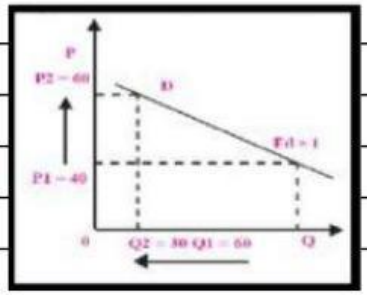

PERMINTAAN INELASTIS SEMPURNA

LIVEWORKSHEETS

AKTIVITAS 4

LEMBAR KERJA PESERTA DIDIK

D. TUGAS KELOMPOK

A. Identitas Mapel

Mata Pelajaran : Ekonomi

Kelas/Semester : X / Ganjil

Alokasi Waktu : 2 X 3 JP

Judul Materi E-LKPD : Konsep Permintaan

B. Tujuan Pembelajaran

1. Mampu menjelaskan pengertian permintaan
2. Mampu menjelaskan faktor-faktor yang mempengaruhi permintaan.
3. Mampu menjelaskan fungsi permintaan
4. Mampu menjelaskan hukum permintaan serta asumsi-asumsinya.
5. Mampu menggambarkan kurva permintaan

c. Indentitas Kelompok

Anggota Kelompok : 1.

2.

3. dst

Petunjuk mengerjakan tugas :

1. Buatlah kelompok kecil beranggotakan 5 orang
2. Amatilah data hasil survey cabe berikut ini

No	Harga	Permintaan (Kg)
1	Rp 140.000	30
2	Rp 120.000	40
3	Rp 100.000	50
4	Rp 80.000	60
5	Rp 60.000	70
6	Rp 40.000	80
7	Rp 20.000	90

LIVEWORKSHEETS

AKTIVITAS 4

LEMBAR KERJA PESERTA DIDIK

D. TUGAS KELOMPOK

3. Buatlah Kurva Permintaan berdasarkan data hasil survei di atas dengan media gambar

4.Hitunglah salah satu fungsi permintaan berdasarkan table diatas!

5.Presentasikan di depan kelas hasil diskusi kalian yang tertuang dalam LKPD, dengan sopan, baik dan menarik

GOOD LUCK!

LIVEWORKSHEETS