MODUL AJAR

Nama Sekolah	: SLB Negeri Sukoharjo
Satuan Pendidikan/Kelas	: SDLB Kelas 1
Mata Pelajaran	: Matematika
Alokasi Waktu	: 30 menit x 4 pertemuan
Target Peserta Didik	: Tunagrahita

TUJUAN PEMBELAJARAN

1. Peserta didik mampu Menunjukkan bilangan asli sampai 10 dengan menggunakan benda-benda yang ada di sekitar rumah, sekolah, atau tempat bermain
2. Peserta didik mampu Menyebutkan lambang bilangan sampai 10
3. Peserta didik mampu Membilang bilangan asli sampai 10 dengan menggunakan benda-benda yang ada di sekitar rumah, sekolah, atau tempat bermain

Materi :

LIVEWORKSHEETS

Soal -Soal

I. Pilihlah salah satu jawaban yang benar !

1. Lambang bilangan 2 adalah….

   a. 2 c. 3

   b. 3 d.1

2. Angka lima dilambangkan dengan….

   a. 6 c. 4

   b. 5 d. 3

3. 8, lambang bilangan disamping dibaca….

   a. Enam c. Delapan

   b. Tujuh d. sembilan

4. Jumlah buah stroberi pada gambar dibawah ini adalah….



   a. 8 c. 10

   b. 9 d. 7

LIVEWORKSHEETS

5. Apel sebanyak 6 buah yang benar adalah…..

a. 

c 

b. 

d 

6. Urutan bilangan yang benar dimulai dari yang terbesar adalah….

a. 1, 2, 3, 4, 5
b. 5, 4, 3, 2, 1
c. 4, 1, 2, 5, 3
d. 3, 2, 1, 4, 5

7. 4, 5, 6, 7,…., 9, 10. Bilangan yang tepat untuk mengisi urutan bilangan disamping adalah….

a. 7
b. 8
c. 9
d. 6

8. Jumlah bintang pada gambar disamping adalah….

a. 6
b. 7
c. 8
d. 9

9. Kaki sapi jumlahnya ada….

a. 2
b. 3
c. 4
d. 5

LIVEWORKSHEETS

10.

Gambar yang tepat untuk mengisi urutan gambar diatas adalah….

a. 

c. 

b. 

d. 

LIVEWORKSHEETS

1 Pilihan Ganda

Berikut ini yang termasuk gambar balok adalah ....

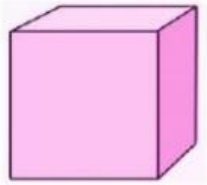



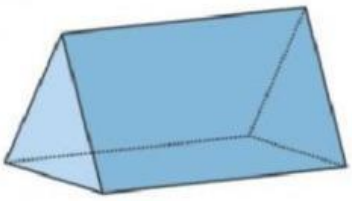

2 Isian singkat/essai

Nama bangun di samping adalah .....

Jelaskan apa yang kamu ketahui tentang gambar di samping!

3 Drop Down

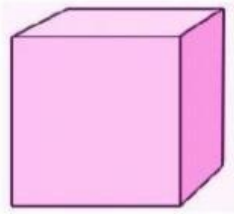

Pilihan Jawaban

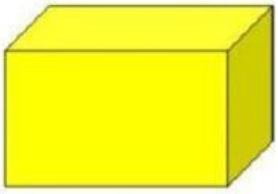

Pilihan Jawaban

LIVEWORKSHEETS

LIVEWORKSHEETS

4 Check Box

Berikut ini yang merupakan gambar bangun ruang adalah .....

- Lingkaran
- Kerucut
- Balok
- Persegi

5 Join Arrow

Jodohkan antara gambar dan nama bangun dengan cara menarik garis penghubung!

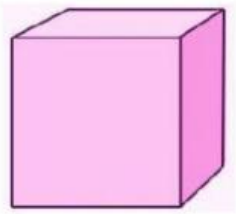

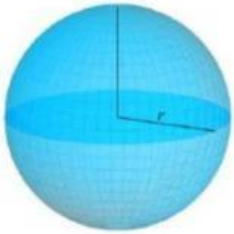

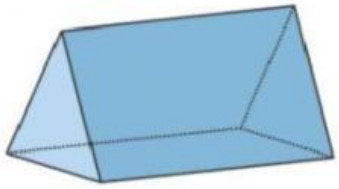

- Prisma
- Kerucut
- Bola
- Kubus

LIVEWORKSHEETS

LIVEWORKSHEETS

6 Drag and Drop

Tarik gambar berikut ke dalam kotak yang sesuai!



Balok	**Kubus**	**Kerucut**

7 Listening

Dengarkan suaranya, dan pilih benar atau salah!



Benar **Salah**

Benar **Salah**

LIVEWORKSHEETS

LIVEWORKSHEETS

8 Speaking

Rekam suaramu untuk menyebutkan nama bangun berikut dengan cara menekan tombol rekam!

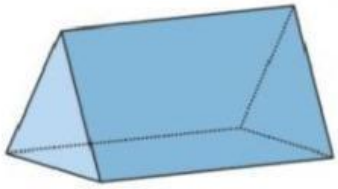

9 Word Search

Carilah nama-nama bangun ruang!

A	B	A	L	I	N	G	U
T	A	P	U	T	R	R	O
P	L	P	R	I	S	M	A
B	O	C	D	K	E	F	G
L	K	E	R	U	C	U	T
O	O	T	A	B	U	N	G
K	L	U	I	U	J	I	H
L	I	M	A	S	K	U	I

LIVEWORKSHEETS

LIVEWORKSHEETS

LIVEWORKSHEETS

LIVEWORKSHEETS