1. Dengan mengikuti suatu aturan, bilangan-bilangan berikut disusun secara teratur dimulai dari atas seperti berikut

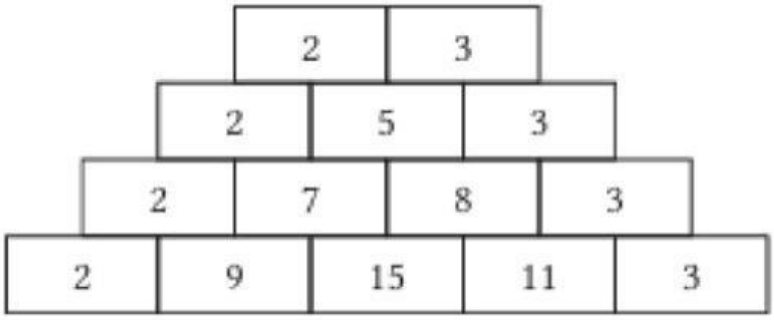

Aturan apa yang cocok untuk susunan bilangan tersebut?

2. Dengan memisalkan bilangan-bilangan pada baris pertama dengan a dan b, lengkapilah tabel berikut.

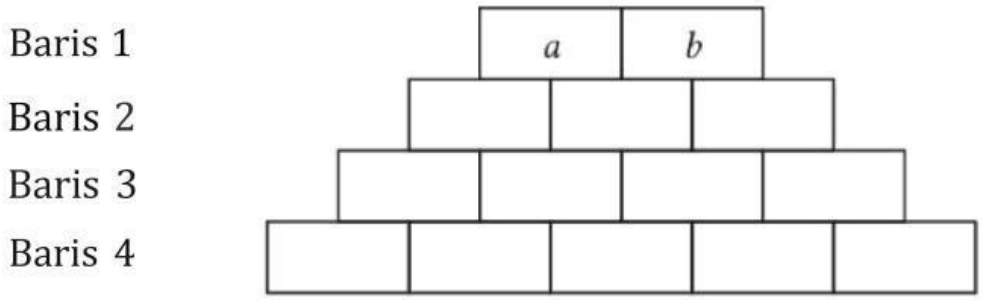

Tarik Jawaban yang benar ke kotak yang cocok, jawaban yang tersisa adalah jawaban yang sarah

a	a	a	b	b	b	e	e
c	c	c	d	d	d	e	
$a+b$	$2a+b$	$3a+b$	$a+2b$	$a+3b$	$2a+2b$	$3a+3b$	

«•»LIVEWORKSHEETS

LIVEWORKSHEETS

Pada gambar diatas , aturan apa yang cocok untuk bilangan di tengah pada baris keempat.

Tentukan mana yang sesuai berikut.

a	Bilangan genap	Bilangan ganjil	(*q Kelipatan 3
@	Kelipatan 6	3 kali (a + *b)* di baris 2	

Pada gambar berikut, hanya dna bilangan yang diketahui. Misalkan bilangan-bilangan di baris pertama adalah x dan *y*. Tentukanlah nilai x dan *y*.

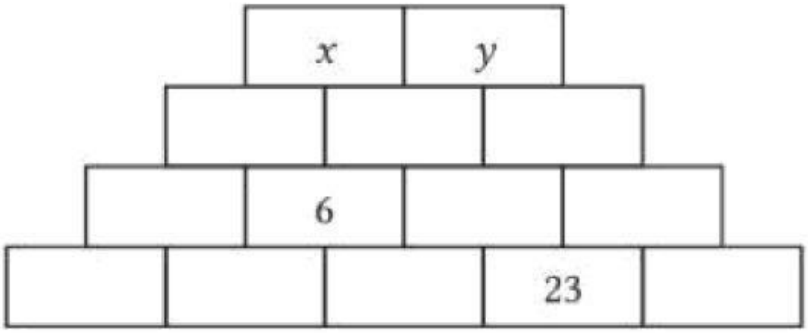

x	x	x	y	y	y
$x+y$	$2x+y$	$3x+y$	$x+2y$	$x+3y$	$3x+3y$

Dengan melihat gambar diatas peroleh persamaan :

$$\begin{cases} \dots \quad x+y=6 \\ x+\cdots \quad y=23 \end{cases}$$

Dengen cara eliminasi atau Substitusi diperoleh :

$$\begin{cases} x=\cdots \\ y=\cdots \end{cases}$$

LIVEWORKSHEETS

ggLIVEWORKSHEETS

LIVEWORKSHEETS