LEMBAR KERJA PESERTA DIDIK

Sistem Reproduksi pada Manusia

Mata Pelajaran : IPA Hari, tanggal :

Materi Pokok : Penyakit dan Upaya pencegahannya Guru Mapel : Farly Gerung, S.Pd

Nama :

Kelas/Semester :

Kompetensi Dasar

3.1 Menghubungkan sistem reproduksi pada manusia dan gangguan pada sistem reproduksi dengan penerapan pola hidup yang menunjang kesehatan reproduksi

4.1 Menyajikan hasil penelusuran informasi dan berbagai sumber terkait kesehatan dan upaya pencegahan gangguan pada organ reproduksi.

Tujuan Pembelajaran

1. Melalui mencocokan gambar dengan pernyataan yang tepat pada sistem reproduksi, peserta didik mampu menjelaskan berbagai macam penyakit reproduksi dan penyebabnya.
2. Melalui kegiatan diskusi, peserta didik mampu menjelaskan upaya pencegahan penyakit reproduksi dengan benar
3. Siswa menyajikan hasil dari pengamatan pada gambar dengan komunikatif

Petunjuk Umum :

1. Bacalah LKPD ini dengan seksama. Pahami setiap langkah yang harus dilakukan. Jika ada yang belum dipahami, tanyakan kepada gurumu.
2. Lakukan kegiatan dengan teliti sesuai langkah-langkah yang tertulis di LKPD
3. Catat hasil pengamatan di bagian hasil pengamatan
4. Jawab pertanyaan dan buatlah kesimpulan berdasarkan kegiatan yang telah kamu lakukan.

LIVEWORKSHEETS

1. Lengkapilah tabel dengan gambar yang sesuai, serta tuliskanlah nama penyakit dan cara penularannya

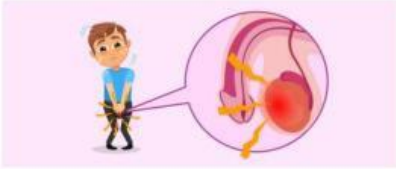

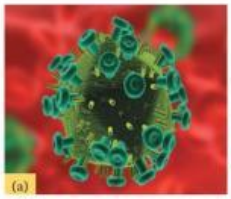

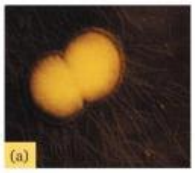

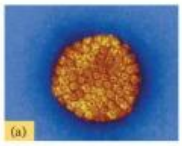

No	Penjelasan	Gambar	Nama penyakit dan penularan
1	Penyakit yang disebabkan oleh HIV (Human Immunodeficiency Virus) yang menyerang sistem imunitas atau kekebalan tubuh penderita. Saat ini belum ditemukan vaksin pencegahannya dan belum ada obat yang betul-betul dapat diandalkan untuk mengatasi HIV/AIDS.		
2	Disebabkan oleh bakteri **Neisseria gonorrhoeae.** Gejala penyakit ini adalah rasa sakit dan keluar nanah pada saat kencing pada laki-laki, serta keputihan berwarna kuning hijau pada perempuan		
3	Penyakit menular yang disebabkan oleh bakteri **Treponema pallidum.** Gejala awal penyakit ini adalah luka pada tempat masuknya bakteri ke dalam tubuh, biasanya pada daerah sekitar kelamin. Penyakit ini dapat menyebar dan menyerang organ-		

LIVEWORKSHEETS

	organ tubuh lainnya kemudian menimbulkan kerusakan pada organ tertentu.		
4	Disebabkan oleh **Virus Herpes simplex tipe II**, yang menyerang kulit di daerah genitalia luar, anus dan vagina. Gejala penyakit ini berupa gatal-gatal, pedih, dan kemerahan pada kulit di daerah kelamin. Kemudian pada daerah tersebut timbul beberapa lepuh kecil-kecil dan selanjutnya lepuh menjadi pecah dan menimbulkan luka. Penyakit herpes sulit sekali sembuh dan sering kambuh setelah beberapa bulan atau tahun.		
			Keputihan
			Epididimitis

LIVEWORKSHEETS

2. Bagaimanakah upaya yang dilakukan untuk mencegah penyakit pada sistem reproduksi ?

3. Buatlah kesimpulan sesuai dengan tujuan pembelajaran pada materi kali ini !

LIVEWORKSHEETS