UEST
Unidad Educativa
SANTA TERESITA
Instituto de Hermanas Franciscanas
Misioneras de la Inmaculada

EXAMEN
CORRESPONDIENTE AL SEGUNDO QUIMESTRE
ÁREA TÉCNICO PROFESIONAL: COMPUTACIÓN
Período lectivo 2020 - 2021

Nombre del/la estudiante: _____
Curso: Preparatoria **Paralelo: _____** **Asignatura: Computación**
Nombre del docente: Lic. María Elizabeth Mirabá Zavala.

1.- Seleccionar la imagen de los discos duros de la computadora.

2.- Selecciona los elementos que representan al HARDWARE de la computadora.

LIVEWORKSHEETS

3.- Selecciona los elementos que representan al SOFTWARE de la computadora.

4.- SELECCIONA LA EL ICONO DE PAINT

LIVEWORKSHEETS

5- SELECCIONA LA VENTANA DE PAINT

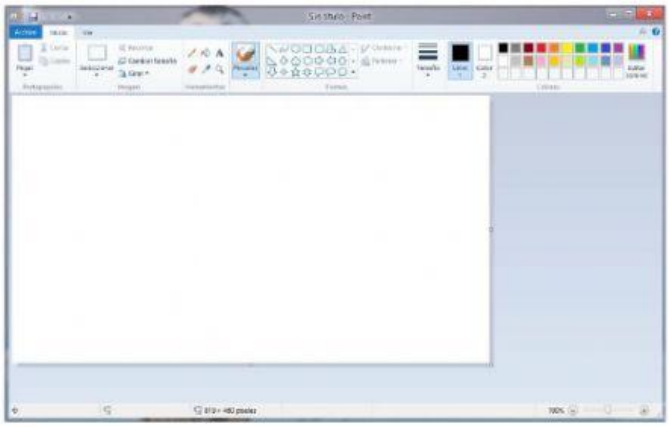

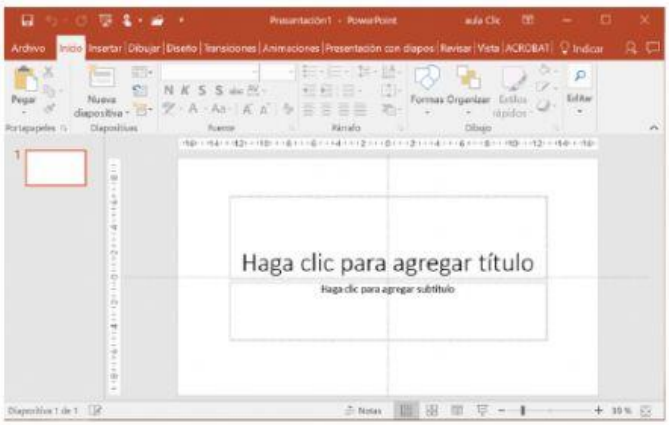

6.- RELACIONA CON UNA LÍNEA QUE OPCIÓN (PINCEL) SE UTILIZÓ EN EL SIGUIENTE TRAZO.

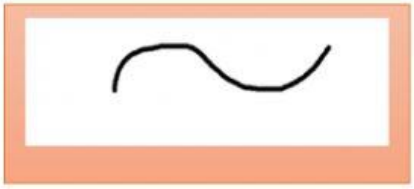





LIVEWORKSHEETS

7.- Relacionar mediante una línea.

La computadora encendida con el foco encendido

La computadora apagada con el foco apagado

LIVEWORKSHEETS