TEMA 7 – MATEMÁTICAS
LA SUMA Y LA MULTIPLICACIÓN

1-CUENTA DE DOS EN DOS HASTA EL 20:

0 – 2 - - - - - - - - - 20

-CUENTA DE CINCO EN CINCO HASTA EL 50:

0 – 5 - - - - - - - - - 50

2- OBSERVA EL NÚMERO REPRESENTADO Y PASA A **UNIDADES**:



C	D	U
1 C	3 D	4 U

100 U+	30 U +	4 U =	134 U
CIENTO TREINTA Y CUATRO			

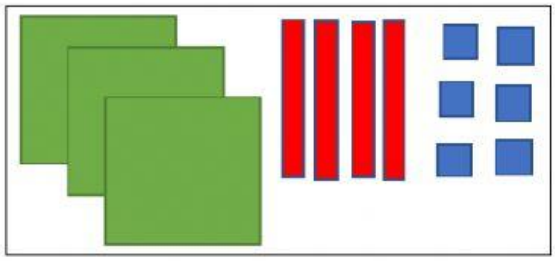

C	D	U
3 C	4 D	6 U

U+	U+	U=	U

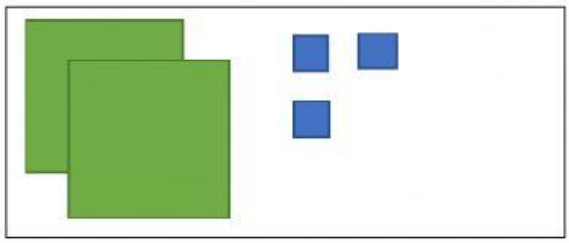

C	D	U
C	D	U

U+	U+	U=	U

LIVEWORKSHEETS

3-EXPRESA CON UNA MULTIPLICACIÓN:(FÍJATE EN EL EJEMPLO)

3 + 3 + 3 + 3 + 3 = 15 = 3 X 5 = 15

5 + 5 + 5 + 5 + 5 + 5 = _____ = 5 X _____ = _____

4 + 4 + 4 + 4 + 4 = _____ = 4 X _____ = _____

4-CALCULA:

2 X 3 =	2 X 5 =	2 X 7 =	2 X 9 =
5 X 4 =	5 X 6 =	5 X 8 =	5 X 3 =

4-CALCULA SUMAS Y RESTAS LLEVANDO:

	2	4	5
+	3	8	6

	5	2	8
-	3	8	5

5-RESUELVE EL PROBLEMA:

Sara va a hacer dos ramos de flores. Cada ramo tiene 7 flores.

¿Cuántas flores necesitará?

	7
X	

Solución: Necesitará flores.

LIVEWORKSHEETS