1 задание *(8 пунктов).*

1.1. ***Оцени информацию. Из второго столбика выбери букву правильного ответа и впиши её в окошко.***

1.1.1. Толщина картонного листа	☐	**A** 110 см
1.1.2. Рост ребёнка	☐	**B** 250 см
1.1.3. Длина автобусного маршрута	☐	**C** 2 мм
1.1.4. Высота комнатной стены	☐	**D** 260 км

1.2. ***Оцени информацию. Из второго столбика выбери букву правильного ответа и впиши её в окошко.***

1.2.1. Вес взрослого человека	☐	**A** 200 г
1.2.2. Масса автобуса	☐	**B** 70 кг
1.2.3. Масса пуговицы	☐	**C** 15 т
1.2.4. Масса пачки творога	☐	**D** 3 г

2 задание *(5 пунктов).*

Под каждой величиной в таблице запиши букву выражения, результат которого соответствует данной величине.

2.1.	**2.2.**	**2.3.**	**2.4.**	**2.5.**
1 ч	30 ч	8	2 дм	1 сут.

A 56 см : 7 см; **B** 3 ч + 21 ч; **C** 10 см · 2; **D** 15 ч · 2; **E** 30 мин · 2

LIVEWORKSHEETS

***3 задание** (10 пунктов).*
Реши задачу с вопросами или с пояснением.

В ящике было 36 пакетов сока. $\frac{1}{4}$ часть всех пакетов – яблочный сок, а остальные – вишнёвый. На сколько пакетов вишнёвого сока в ящике больше, чем яблочного?

Ответ: _____

***4 задание** (5 пунктов).*
Сравни выражения (поставь соответствующие знаки >,< или =).

4.1. 14 + 35 _____ 67 – 42

4.2. 50 – 16 _____ 27 + 13

4.3. 49 : 7 _____ 42 : 6

4.4. 9 · 1 _____ 9 : 9

4.5. 25 +18 _____ 91 – 49

LIVEWORKSHEETS

***5 задание** (7 пунктов).*

Рассмотри предлагаемый товар. Монеты под товарами указывают на цену товара.

В клеточках напиши решение.

Сосчитай, сколько денег потратил каждый ребёнок.

Марис купил ручку и скрепки.

Даниэл купил линейку и две точилки для карандашей.

Кристина купила скрепки, ручку и одну точилку для карандашей.

Место для расчётов.

Результат запиши в таблицу.

	евро	**центы**
Марис		
Даниэл		
Кристина		

LIVEWORKSHEETS

***6 задание** (5 пунктов).*

Рассмотри картинку. В каждый фрукт впиши спрятанное за ним число.

6.1.

+ + = 60

6.2.



+ + = 30

6.3.



– – = 3

6.4. ***Запиши выражение и реши цепочкой.***



+ • = ?

LIVEWORKSHEETS