LKPD
SISTEM TATA SURYA

SMPN 3 Pasir Belengkong
Kelas VII

BY: NABIELLA CHAIRINNISA, S.PD

LIVEWORKSHEETS

LIVEWORKSHEETS

AYO, MENJELAJAH ANGKASA

BY: NABIELLA CHAIRINNISA, S.PD

LIVEWORKSHEETS

LIVEWORKSHEETS



PETUNJUK LKPD :

1. ISILAH IDENTITAS PADA KOLOM YANG DISEDIAKAN
2. BACALAH SETIAP PETUNJUK YANG ADA PADA LKPD
3. JAWABLAH SEMUA PERTANYAAN DENGAN TELITI.

LIVEWORKSHEETS

LIVEWORKSHEETS

NAMA :

KELAS :

LIVEWORKSHEETS

LIVEWORKSHEETS

KOMPETENSI DASAR

Menganalisis sistem tata surya, rotasi dan revolusi bulan, serta dampaknya bagi kehidupan di bumi.

TUJUAN

Setelah mengerjakan LKPD, diharapkan siswa dapat:

1. Mendeskripsikan komponen tata surya.
2. Memahani informasi tentang planet-planet penyusun tata surya.

START

LIVEWORKSHEETS

LIVEWORKSHEETS



Simaklah video tersebut!

LIVEWORKSHEETS

LIVEWORKSHEETS

Soal Drop Down

PILIHLAH KELOMPOK PLANET YANG PALING TEPAT (PLANET DALAM/PLANET LUAR) SESUAI GAMBAR PLANET BERIKUT.

Soal Menjodohkan

PASANGKAN PLANET BERIKUT DENGAN KARAKTERISTIK YANG TEPAT!

- Planet terjauh dari matahari
- Planet terbesar di tata surya
- Planet terkecil di tata surya

LIVEWORKSHEETS

LIVEWORKSHEETS

Soal Drag and Drop

PINDAHKAN NAMA PLANET PADA KOLOM YANG TERSEDIA SESUAI URUTAN SUSUNANNYA DARI MATAHARI

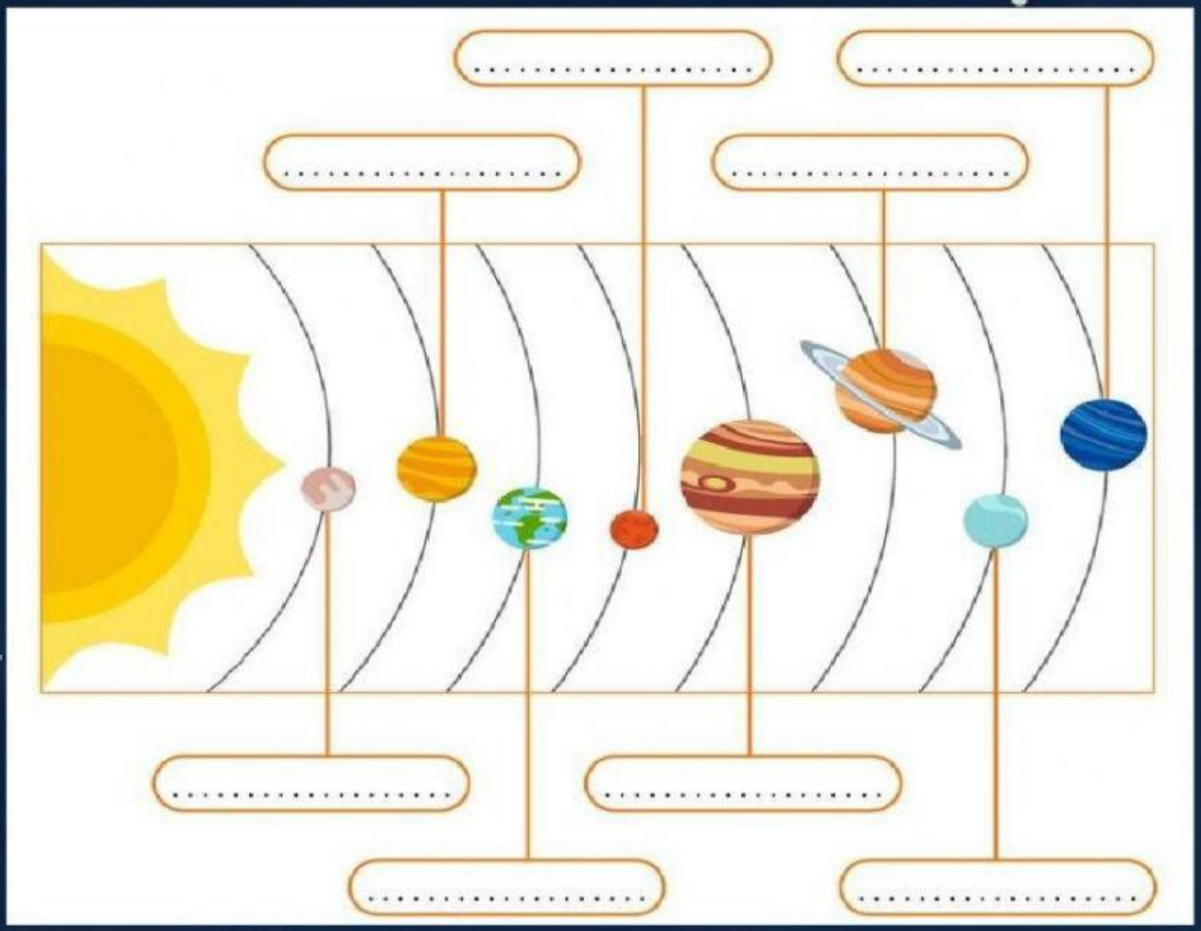

Saturnus | Mars | Jupiter | Uranus

Venus | Merkurius | Neptunus | Bumi

LIVEWORKSHEETS

LIVEWORKSHEETS

Soal Pilihan Ganda

PILIHLAH SATU JAWABAN YANG BENAR!

1. Benda langit yang tidak dapat memancarkan cahayanya sendiri disebut ...
   a. Planet
   b. Bintang
   c. Tata surya
   d. Matahari
2. Suatu kawasan atau wilayah di tata surya yang terletak di antara orbit mars dan jupiter disebut ...
   a. Meteorid
   b. Sabuk Meteorid
   c. Asteroid
   d. Sabuk Asteroid

Soal Isian

ISILAH TITIK-TITIK DI BAWAH INI DENGAN JAWABAN YANG BENAR

1. Perputaran planet pada porosnya disebut ...
2. Pergerakan planet mengelilingi matahari disebut ...

Soal Benar – Salah

BERILAH TANDA CENTANG PADA KOLOM BENAR JIKA PERNYATAAN BENAR DAN KOLOM SALAH JIKA PERNYATAAN SALAH

PERNYATAAN	BENAR	SALAH
Uranus merupakan planet terdingin di tata surya.		
Planet mars dikenal sebagai bintang kejora karena terlihat terang jika dilihat dari bumi.		

- SELAMAT MENGERJAKAN -

LIVEWORKSHEETS

LIVEWORKSHEETS