Multiplicamos ordenando

1 Los estudiantes trajeron queques y bebidas para celebrar los cumpleaños del mes.

Completa los recuadros.

Quequitos de chocolate

Filas

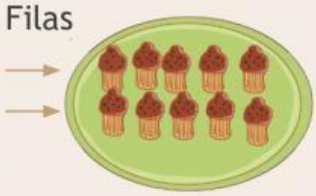

Hay ____ filas de quequitos.

En cada fila hay ____ quequitos.

2 filas de 5 es igual a ____.

2 × 5 = ____

- Paco trajo ____ quequitos.

Quequitos de fresa

Filas

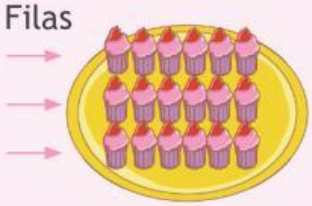

Hay ____ filas de quequitos.

En cada fila hay ____ quequitos.

3 filas de ____ es igual a ____.

____ × ____ = ____

- Ana trajo ____ quequitos.

Bebidas

Filas

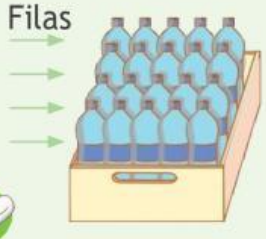

Hay ____ filas de bebidas.

En cada fila hay ____ bebidas.

____ filas de ____ es igual a ____.

____ × ____ = ____

- Manuel trajo ____ bebidas.

Quequitos de coco

Filas

Hay ____ filas de quequitos.

En cada fila hay ____ quequitos.

____ filas de ____ es igual a ____.

____ × ____ = ____

- Susy trajo ____ quequitos.

LIVEWORKSHEETS