# 2024 중1 좌표평면과 그래프 복습

학번:
이름:

1. 다음을 듣고 물음에 답하시오.

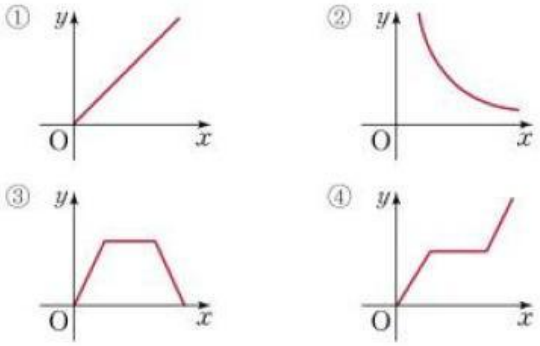


2. 다음 중 오른쪽 좌표평면 위의 점 A, B, C, D, E의 좌표를 기호로 나타낸 것으로 옳지 않은 것은?

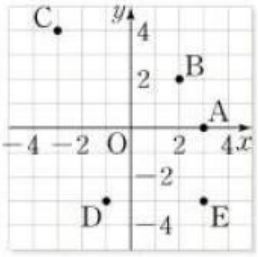


① A(0, 3)
② B(2, 2)
③ C(−3, 4)
④ D(−1, −3)
⑤ E(3, −3)

3. 오른쪽 그림은 두 변수 $x$와 $y$ 사이의 관계를 나타낸 그래프이다. 다음 중 옳은 것을 모두 고르시오.

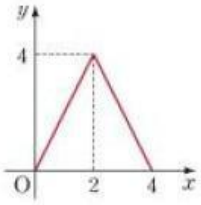


㉠ 원점을 지난다.
㉡ $x=4$일 때, $y=2$이다.
㉢ $x$의 값이 증가할 때, $y$의 값도 증가한다.
㉣ $x$의 값이 0에서 2까지 증가할 때, $y$의 값은 0에서 4까지 증가한다.

LIVEWORKSHEETS