Activando mis conocimientos

Selecciona el número que corresponde a la cantidad de objetos



2 7 6



10 3 4



11 6 9

0 10 1



20 17 15

9 10 11

Suma y coloca dentro de las botellas el resultado de la operación. Luego escribe el número sobre la línea.

0 + 5=_____

1 + 9=_____

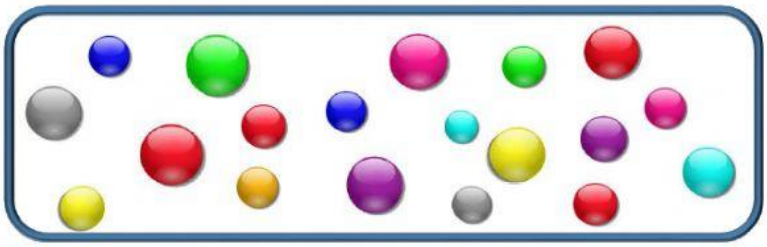

¿Cuántas canicas quedaron en la canasta? Escribe el número en la siguiente línea.

_____

LIVEWORKSHEETS